بخشی از محصول:

گلچین سوالات عمومی آزمونهای استخدامی به همراه پاسخنامه (تشریحی و تستی)

سرویس خصوصی خدمات عام المنفعه اخبار شغل و استخدام

Www.IranEstekhdam.Ir

! اخطار مهم !

این فایل بخشی از نمونه سوالات اختصاصی و ثبت شده سایت ایران استخدام (شرکت آلتین سیستم) بوده و قوانین مربوط به حوزه حمایت از حقوق مؤلفین و ناشرین جمهوری اسلامی ایران بر آن حاکم می باشد.

هرگونه سوء استفاده از این فایل همانند استفاده از محتوا در تهیه کتب و یا قرار دادن تمام یا بخشی از آن در وب سایت های دیگر، چه برای فروش و چه به صورت رایگان شرعاً حرام و قانوناً خلاف مقرارت و قوانین کشورمان می باشد.

با توجه به هزینه های صرف شده و تلاش صورت گرفته برای تهیه این بسته،در صورت مشاهده یا گزارش هرگونه کپی برداری از آن؛ بدون هیچ گونه تماس قبلی وهشدار اقدام به پیگیری حقوقی و اخذ جریمه خواهیم نمود.

کاربران گرامی لطفا دقت فرمایید، این فایل تنها بخشی از محصول ویژه گلچین سوالات عمومی آزمونهای استخدامی می باشد که به صورت رایگان و برای آشنایی شما عزیزان از کیفیت و محتوای فایل معرفی شده ارائه شده است، لطفاً جهت خرید و دانلود کامل این محصول، روی لینک زیر کلیک فرمایید.

لینک دانلود و خرید بسته کامل

بخش اول:

فنّاوری اطلاعات و مهارت های هفتگانه *I.C.D.L*

۱- در نرم‌افزار Word، کدام مورد به عنوان Cross-Reference در یک سند استفاده نمی شود؟ (Www.iranestekhdam.ir)

۱) سند دیگر ۲) متن ۳) نمودار ۴) تصویر

پاسخ کارشناس ایران استخدام : گزینه ۱

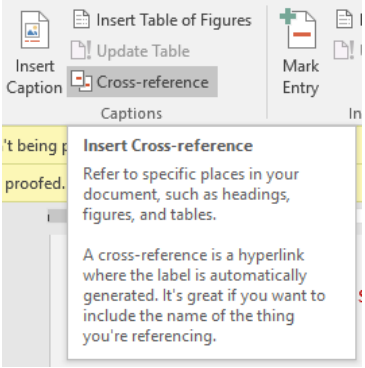

اگر سند شما یک سند بلند (مانند مقاله علمی) باشد ممکن است بخواهید خوانندگان را به بخش های دیگری از سند ارجاع دهید. با استفاده از گزینه Cross reference می توان این کار را انجام داد. تفاوت گزینه Cross reference با Bookmark در این است که در گزینه Cross reference می توان بخش مورد نظر را به یک بخش ؛ یا شکل یا جدول و یا متن و نیز انواع بوک مارک ها ارجاع داد اما در Bookmark ، واژه ها ارجاع دهنده هستند.

۲- چه تعداد از موارد زیر، توسط ابزار Word Count در نرم‌افزار Word قابل شمارش هستند؟ (Www.iranestekhdam.ir)

- Pages
- Words
- Characters
- Lines
- Paragraphs

۱) ۲ ۲) ۵ ۳) ۴ ۴) ۳

پاسخ کارشناس ایران استخدام : گزینه ۲

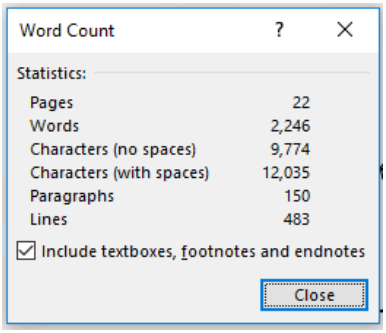

توسط ابزار Word Count می توان اطلاعات زیر را بدست آورد:

- تعداد صفحات
- تعداد کلمات
- تعداد کاراکترهای بودن فاصله
- تعداد کارکتر با فاصله
- تعداد پاراگراف
- تعداد خطوط

۳- در نرم‌افزار Excel 2013، برای درج داده های یک ستون در یک ردیف، از کدام روش استفاده می شود؟ (Www.iranestekhdam.ir)

۱) Paste Special > Transpose
۲) تابع TOROW
۳) تابع CONVERT
۴) Paste Special > Paste as a Row

پاسخ کارشناس ایران استخدام : گزینه ۱

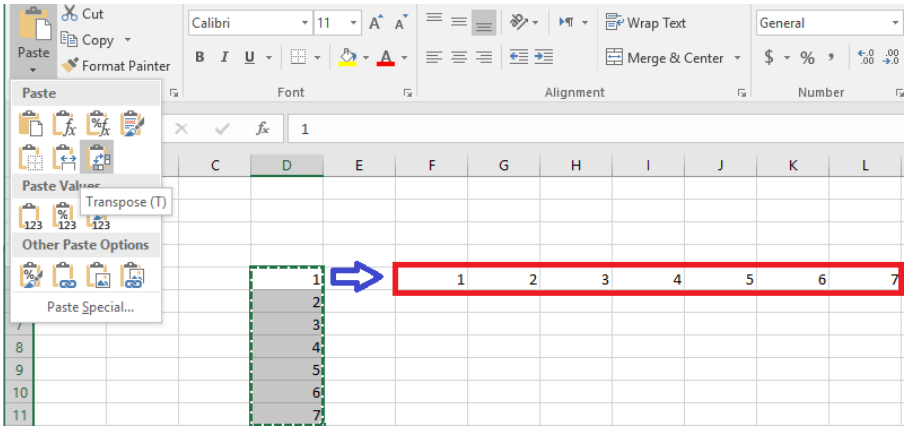

با استفاده از گزینه Paste Special Transpose در اکسل می توانید ردیف ها را تبدیل به ستون و ستونها را تبدیل به ردیف کنید. شما همچنین می توانید از تابع TRANSPOSE نیز استفاده کنید.

۴- در محیط Word، یک جدول ایجاد کرده‌اید، با انتخاب جدول و فشار دادن کلید Delete، کدام مورد زیر، حاصل خواهد شد؟ (Www.iranestekhdam.ir)

۱)پاک شدن محتویات جدول
۲) حذف خطوط جدول
۳) پاک شدن عنوان جدول
۴) حذف جدول

پاسخ کارشناس ایران استخدام : گزینه ۱

با انتخاب جدول و فشار دادن کلید Delete همه‌ی محتویات داخل جدول حذف می‌گردد ولی خود جدول باقی خواهد ماند.

۵- شکل زیر، بخشی از پنجره نرم‌افزار Excel 2013 را نشان می دهد. در قسمتی که با >>> مشخص شده است، کدام عمل زیر، قابل انجام است؟ (Www.iranestekhdam.ir)

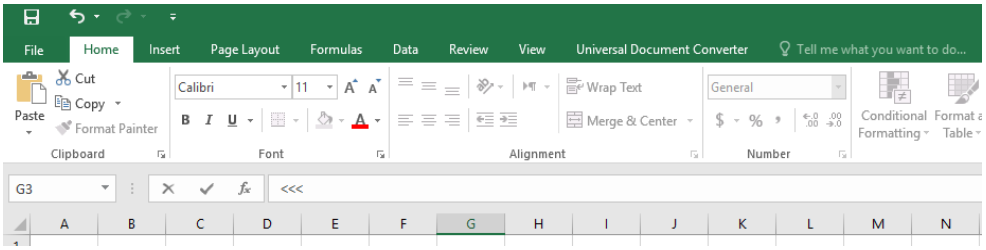

۱) درج و ویرایش فرمول ها و توابع
۲) تغییر فرمت سلول ها
۳) جستوجو در سلول ها
۴) درج مقدار پیش‌فرض برای سلول ها

پاسخ کارشناس ایران استخدام : گزینه ۱

در قسمت نشان داده شده با >>> امکان درج و ویرایش فرمولها و توابع وجود دارد و نوار فرمول نامیده می شود.

۶- جهت ترسیم شکل یک ستاره در یک اسلاید از یک فایل Power Point 2007، از کدام مورد زیر، کمک می گیرید؟
(Www.iranestekhdam.ir)

۱) Insert > Picture
۲) Insert > Word Art
۳) Insert > Clip Art
۴) Insert > Shapes

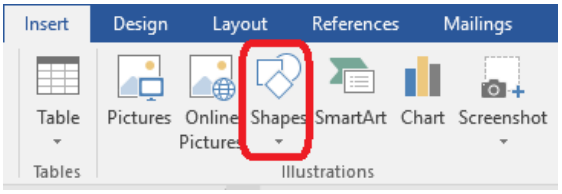

پاسخ کارشناس سایت ایران استخدام : گزینه ۴

در نرم افزار Word برای درج نمودن اشکالی مانند ستاره؛دایره؛مستطیل و .... می توان از طریق سربرگ Insert واز طریق منوی Shapes شکل مورد نظر را انتخاب و انرا در متن و یا هرجای دیگر سند وارد نمود.

۷- در نرم‌افزار Excel، با استفاده از ابزارهای موجود در شکل زیر، کدام عمل امکان‌پذیر است؟ (Www.iranestekhdam.ir)

۱) تغییر اندازه سلول
۲) تغییر رنگ سلول
۳) تغییر جهت متن در سلول
۴) تغییر نوع مقدار در سلول

پاسخ کارشناس ایران استخدام : گزینه ۲

تنها مورد قابل انجام توسط ابزارهای نشان داده شده در شکل سوال که در بخش Font از سربرگ home در ریبون نرم افزار می باشد؛ امکان تغییر رنگ سلول می باشد .

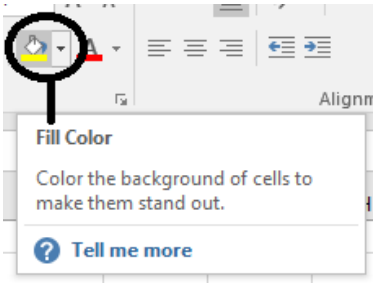

کاربران گرامی لطفا دقت فرمایید، این فایل تنها بخشی از محصول ویژه گلچین سوالات عمومی آزمونهای استخدامی می باشد که به صورت رایگان و برای آشنایی شما عزیزان از کیفیت و محتوای فایل معرفی شده ارائه شده است، لطفاً جهت خرید و دانلود کامل این محصول، روی لینک زیر کلیک فرمایید.

لینک دانلود و خرید بسته کامل

بخش دوم:

زبان و ادبیات فارسی و آیین نگارش

۱-در کدام بیت، شاعر توصیه به «ترک تعلقات دنیوی» می کند؟ (Www.iranestekhdam.ir)

۱) یکی پند گویم تو را از نخست — دل از مهر گیتی ببایدت شست

۲) به گردن فتد سرکش تندخوی — بلندیت باید بلندی مجوی

۳) به دریا مرو گفتمت زینهار — و گر می روی تن به توفان سپار

۴) حریص و جهانسوز و سرکش مباش — ز خاک آفریدندت آتش مباش

پاسخ کارشناس سایت ایران استخدام : گزینه ۱

مفهوم ابیات دیگر:

گزینه ی ۲: متواضع بودن و تکبّر نداشتن؛ بزرگی در تکبّر نیست. (به گردن افتادن و به گردن درافتادن: واژگون شدن و سرنگون گشتن)

گزینه ی ۳: خطر کردن و بی پروا بودن در راه عشق.

گزینه ی ۴: متواضع بودن و تکبّر نداشتن.

۲-در بیت زیر، کدام واژه ایهام دارد ؟ (Www.iranestekhdam.ir)

" کیست حافظ تا ننوشد باده بی آواز رود — عاشق مسکین چرا چندین تجمل بایدش "

۱)باده — ۲) بی آواز

۳)رود — ۴) تجمل

پاسخ کارشناس سایت ایران استخدام : گزینه ۳

ایهام آوردن واژه ای با حداقل دو معنی یکی دور و دیگری نزدیک که مقصود شاعر گاه معنی دور و گاه هر دو معنی است.

در بیت بالا واژه "رود" ایهام دارد:۱- به معنی رودخانه ۲- به معنی نوعی ابزار موسیقی

۳- در کدام گروه کلمه، غلط املایی یافت می‌شود؟ (Www.iranestekhdam.ir)

۱) عجز و لابه – واثق و معتمد — ۲) محمل و کجاوه – زنجیر و مسلسل

۳) گزیر و گریز - مذّلت و خواری — ۴) باطن و ضمیر – محمل و بیهوده

پاسخ کارشناس ایران استخدام : گزینه ۴

املای صحیح مهمل با «ه» است. مهمل یعنی لفظی که معنی ندارد، بی استفاده و بیهوده (مقابل مستعمل)

۴- کدام اثر، از آثار «محمّد حجازی» است؟ (Www.iranestekhdam.ir)

۱) سفر در مه — ۲) تماشاگه راز

۳) روزها — ۴) آیینه

پاسخ کارشناس سایت ایران استخدام : گزینه ۲

- سفر در مه: اثر «تقی پورنامداریان» تحلیلی همه جانبه و عمیق از همه ی شعرهای قبل از انقلابِ احمد شاملو، شاعر معاصر ارائه می‌دهد.
- تماشاگه راز: این کتاب در بردارنده ی سلسله سخنرانی‌های استاد شهید مرتضی مطهّری است.
- روزها: سرگذشت زندگی آموزنده ی اسلامی ندوشن است.
- آیینه: نوشته ی محمّد حجازی.

۵- ساختمان کدام دو واژه، با سایر واژگان تفاوت دارد؟ (Www.iranestekhdam.ir)

۱) پایمرد – خزانه دار ۲) شاخسار – دانشکده

۳) شهیر – گلاب پاش ۴) یکدل – جنگجو

پاسخ کارشناس سایت ایران استخدام : گزینه ۳

در هر گروه، دو واژه، ساختی مشابه هم دارند؛ امّا در گزینه ی ۳ «شهیر» اسم ساده و «گلاب پاش» اسم مرکّب است.

گزینه ی ۱: پایمرد: اسم ساده + اسم ساده = اسم مرکّب / خزانه دار: اسم + بن مضارع (دار) = اسم مرکّب

گزینه ی ۲: شاخسار: اسم + پسوند کثرت در مکان (سار) = مشتق / دانشکده: اسم + پسوند ـِ ش + پسوند مکان (کده) = مشتق

گزینه ی ۳: شهیر: اسم ساده / گلاب پاش: اسم + بن مضارع (پاش) = اسم مرکّب

گزینه ی ۴: یکدل: اسم ساده + اسم ساده = اسم مرکّب / جنگجو: اسم ساده + بن مضارع= اسم مرکّب

۶- کدامیک از نویسندگان زیر در زمینه «طنز و لطیفه های انتقادی» کار کرده‌اند؟(Www.iranestekhdam.ir)

۱) دهخدا ۲) عبدا... مستوفی ۳) دکتر زرین‌کوب ۴) میرزا رضا کلهر

پاسخ کارشناس سایت ایران استخدام : گزینه ۳

طنز نویسی، مخصوصاً برای عامه، زبانی دارد که ورای زبان داستانهای جدی است. تنها عبارت از بکار بردن لغات شکسته و عامیانه نیست. بکار بردن الفاظ و تعبیراتی است که خودشان می توانند از راه تشبیه و کنایه چیزهای جدی را تبدیل کنند و به چیزهایی مضحک.

دهخدا، نویسنده چرند و پرند های صور اسرافیل اولین کسی بود که در فارسی این زبان را شناخت و درست بکار برد.

۷- پیش از نقل قول از کدام یک از علائم نگارشی استفاده می شود؟ (Www.iranestekhdam.ir)

۱) ویرگول ۲) نقطه ویرگول ۳) دونقطه ۴) گیومه

پاسخ کارشناس سایت ایران استخدام : گزینه ۳

پیش از نقل قول، دونقطه می آید. برای نقل قول، گیومه ؛ گیومه قبل و بعد از نقل قول مستقیم قرار می‌گیرد و مشخص کننده ی آغاز و پایان نقل قول است. این وقتی است که بخواهیم از شخص یا منبعی، گفته، کلمه، عبارت یا جمله‌ای نقل یا به مأخذی اشاره کنیم: پیامبر گرامی اسلام (ص) فرموده‌اند: «پاکیزگی از ایمان است.»

کاربران گرامی لطفا دقت فرمایید، این فایل تنها بخشی از محصول ویژه گلچین سوالات عمومی آزمونهای استخدامی می باشد که به صورت رایگان و برای آشنایی شما عزیزان از کیفیت و محتوای فایل معرفی شده ارائه شده است، لطفاً جهت خرید و دانلود کامل این محصول، روی لینک زیر کلیک فرمایید.

لینک دانلود و خرید بسته کامل

بخش سوم:

معارف اسلامی

۱-از ترجمه آیه شریفه « ای مردم ، شما به خدا نیازمندید و خداست که بی نیاز ستوده است». کدام مفهوم دریافت می شود ؟ (Www.iranestekhdam.ir)

۱)وابستگی بشر، در بقا به خداوند است . ۲)فطرت آدمی با معرفت خدا عجین است.

۳)خودشناسی،مقدمه خداشناسی است . ۴)خداشناسی ، مقدمه خود شناسی است.

پاسخ کارشناس سایت ایران استخدام : گزینه ۳

خداوند در قرآن کریم می‌فرماید: (یا ایها الناس انتم الفقراء الی‌الله و الله هو الغنی الحمید) ؛ ای مردم، شما به خدا نیازمندید و خداست که بی‌نیاز ستوده است.

وجود انسان ؛وجودی وابسته و ممکن الوجود است و چنین موجودی نمی تواند، آفریننده خود باشد.بنابراین؛ هنگامی که آدمی به خود شناسی می پردازد؛وابستگی خود را به خدا احساس می کند.پس خود شناسی مقدمه خداشناسی می باشد.

۲- آیه شریفه (ربنا انی اسکنت من ذریتی بواد ذی زرع عند بیتک المحرّم)، کدام وظیفه را بر دوش فرزندان حضرت ابراهیم (ع) قرار داد؟ (Www.iranestekhdam.ir)

۱)ساختن کعبه ۲) اقامه نماز

۳)اقامه عدل ۴)یاد خداوند

پاسخ کارشناس سایت ایران استخدام : گزینه ۲

متن کامل آیه فوق چنین است:

«رَبَّنا إِنِّی أَسْکَنْتُ مِنْ ذُرِّیَتِی بِوادٍ غَیرِ ذِی زَرْعٍ عِنْدَ بَیتِک الْمُحَرَّمِ رَبَّنا لِیقِیمُوا الصَّلاهَ فَاجْعَلْ أَفْئِدَهً مِنَ النَّاسِ تَهْوِی إِلَیهِمْ وَ ارْزُقْهُمْ مِنَ الثَّمَراتِ لَعَلَّهُمْ یشْکُرُونَ: پروردگارا، من [یکی از] فرزندانم را در درّه ای بی کشت، نزد خانه محترم تو، سکونت دادم. پروردگارا، تا نماز را به پا دارند، پس دلهای برخی از مردم را به سوی آنان گرایش ده و آنان را از محصولات [مورد نیازشان] روزی ده، باشد که سپاسگزاری کنند»

حضرت ابراهیم (ع) بر اساس این آیه یکی از فرزندانش رو در خانه خدا مسکن داد تا نماز را به پا دارد.

۳- از ترجمه آیه شریفه « برای هر ملتی اجلی است ، که چون فرا رسد نه ساعتی ان را پس اندازد و نه پیش»، کدام مفهموم دریافت می شود؟ (Www.iranestekhdam.ir)

۱) انسان هایی که در جامعه ظلم و ستم می کنند، از کیفر اعمال خویش می هراسند.

۲) اگر در جامعه امر به معرف و نهی از منکر ترک شود، بد وخوب با هم هلاک می شوند.

۳)مرگ جامعه، بر اثر ظلم و ستم و گناه و نافرمانی از خدا پیش می آید.

۴) بسیاری از انسان ها که از حقیقیت مرگ بی خبرند؛ از گناهان خویش بیم دارند.

پاسخ کارشناس سایت ایران استخدام : گزینه ۳

قرآن برای جامعه، همانند فرد، مرگ قائل شده است.مرگ جامعه بر اثر ظلم و ستم و گناه و نافرمانی خدا پیش می آید.

قرآن کریم در این باره می فرماید:(وَ لِکُلِّ أُمَّهٍ أَجَلٌ فَإِذا جاءَ أَجَلُهُمْ لا یَسْتَأْخِرُونَ ساعَهً وَ لا یَسْتَقْدِمُونَ)

معنی آیه شریفه فوق این است که: هر امتی را أجلی [مهلت و سرآمدی] است؛ پس هنگامی که أجل‌شان سر رسید، نه [می‌توانند] لحظه‌ای به تاخیر اندازند و نه پیشی گیرند.

۴- به بیان امام صادق (ع) پو شیدن لباس نازک و بدن نما ن شانه کدام مورد ا ست و امام علی (ع) کدام مورد را « جنگ با خدا برخاستن » معرفی کرده اند؟ (Www.iranestekhdam.ir)

۱) حقارت و ذلت انسان – خود را برای دیگران بیاراید و گناه انجام دهد

۲) سستی و ضعف دین – خود را برای دیگران بیاراید و گناه انجام دهد

۳) حقارت و ذلت انسان – کنترل نگاه از نامحرمان را نداشته باشد

۴) سستی و ضعف دین – کنترل نگاه از نامحرمان را نداشته باشد.

پاسخ کارشناس ایران استخدام: :گزینه ۲

پاسخ تشریحی:

طبق فرمایش امام صادق (ع) پوشیدن لباس نازک و بدن نما نشانه ی سستی و ضعف دین است.

حدیث از امام علی ع «بپرهیز از این که خود را برای دیگران بیارایی و با انجام گناه با خدا به ستیز برخیزی»

۵-" جامعیت دین اسلام" و " تبیین تعالیم وحی " به ترتیب ، ضرورت کدام قلمرو رسالت را اثبات می کند ؟ (Www.iranestekhdam.ir)

۱)مرجعیت دینی –ولایت ظاهری
۲) ولایت ظاهری –مرجعیت دینی
۳)مرجعیت دینی-مرجعیت دینی
۴) ولایت ظاهری- ولایت ظاهری

پاسخ کارشناس سایت ایران استخدام : گزینه ۲

ولایت ظاهری بر جامعه به منظور پیاده کردن قوانین اسلام و اجرای احکام است .جامعیت دین اسلام ضرورت ولایت ظاهری را بیان می کند قلمرو های رسالت پیامبر اکرم(ص) شامل ۱ -دریافت و ابلاغ وحی ۲-تعلیم وتبیین تعالیم وحی (مرجعیت دینی)۳-اجرای قوانین الهی از طریق ولایت بر جامعه (ولایت ظاهری) ۴- ولایت معنوی (درس پنجم دین و زندگی سال سوم دبیرستان)

۶- « بی توجهی به عفاف و پاکدامنی » و « رشوه گیری » به ترتیب از کدام نوع گناهان است؟ (Www.iranestekhdam.ir)

۱) فردی، فردی و نیازمند توبه فردی
۲) اجتماعی،فردی ونیازمند توبه اجتماعی
۳) اجتماعی،اجتماعی و نیازمند توبه اجتماعی
۴) فردی،اجتماعی و نیازمند توبه فردی

پاسخ کارشناس ایران استخدام :گزینه ۳

پاسخ تشریحی: نمونه هایی از گناهان اجتماعی : ربا خواری – رشوه گرفتن – بی توجهی به عفاف و پاکدامنی

۷- عبارت «لا حول و لا قوة الا بالله العلی العظیم» و «الحمدالله رب العالمین» به ترتیب بیانگر کدام بعد از ابعاد توحید است؟ (Www.iranestekhdam.ir)

۱) افعالی-عبادی
۲) ذاتی-ربوبی
۳) افعالی-ربوبی
۴) ذاتی-عبادی

پاسخ کارشناس ایران استخدام : گزینه ۱

پاسخ تشریحی: عبارت"لا حول ولا قوه الا بالله العلی العظیم " بر توحید افعالی اشاره دارد.

آیه شریفه "الحمد لله رب العالمین " دلالت بر توحید عبادی دارد ٠زیرا حمد از مصداق عبادت است ومنحصر در خداوند است وعبارت رب العالمین در توصیف الله است ویکی از صفات ثبوتیه خداوند است ولذا نیازی نیست به توحید افعالی اشاره شود.

کاربران گرامی لطفا دقت فرمایید، این فایل تنها بخشی از محصول ویژه گلچین سوالات عمومی آزمونهای استخدامی می باشد که به صورت رایگان و برای آشنایی شما عزیزان از کیفیت و محتوای فایل معرفی شده ارائه شده است، لطفاً جهت خرید و دانلود کامل این محصول، روی لینک زیر کلیک فرمایید.

لینک دانلود و خرید بسته کامل

بخش چهارم:

ریاضی و آمارمقدماتی

۱- حاصل ضرب وارون عدد $(3-3^{-\frac{1}{2}})^{-\frac{1}{2}}$ در عدد $\sqrt[4]{27}(\sqrt{3\sqrt{3}-1})$ کدام است؟ (Www.iranestekhdam.ir)

۱) ۶ ۲) $9-\sqrt{3}$ ۳) $27(\sqrt{3}-1)$ ۴) ۳

پاسخ کارشناس ایران استخدام: **گزینه ۴**

$$=\frac{1}{\sqrt{3-\frac{1}{\sqrt{3}}}}\times\sqrt[4]{27}\left(\sqrt{3\sqrt{3}-1}\right)=\frac{1}{\sqrt{\frac{3\sqrt{3}-1}{\sqrt{3}}}}\times\sqrt[4]{27}\left(\sqrt{3\sqrt{3}-1}\right)$$

$$=\frac{1}{\frac{\sqrt{3\sqrt{3}-1}}{\sqrt[2]{\sqrt[2]{3}}}}\times\sqrt[4]{3^3}\left(\sqrt{3\sqrt{3}-1}\right)=\frac{\sqrt[4]{3}}{\sqrt{3\sqrt{3}-1}}\times\sqrt[4]{3^3}\left(\sqrt{3\sqrt{3}-1}\right)=\sqrt[4]{3}\times\sqrt[4]{3^3}=3$$

۲- دستگاه همگن $\begin{bmatrix}1&2&1\\2&3&1\\1&1&k\end{bmatrix}\begin{bmatrix}x\\y\\z\end{bmatrix}=\begin{bmatrix}0\\0\\0\end{bmatrix}$ **به ازای چه مقادیری از k ، بی نهایت جواب دارد ؟** (Www.iranestekhdam.ir)

۱) صفر ۲) ۱ ۳) ۲ ۴) ۳

پاسخ کارشناس سایت ایران استخدام : **گزینه ۱**

روش اول:

با حل دستگاه معادلات ماتریس داده شده داریم:

$$\begin{cases}x+2y+z=0 & (1)\\2x+3y+z=0 & (2)\\x+y+kz=0 & (3)\end{cases}\rightarrow(1).(2):\begin{cases}x=z\\y=-z\end{cases}\ (4)\ \rightarrow(3).(4):z-z+kz=0$$

$$kz=0\ \rightarrow z=\frac{0}{k}$$

حال اگر مقدار k برابر صفر باشد،در اینصورت مقدار z مبهم شده و هر عددی می تواند جواب باشد.

روش دوم:

اگر دترمیینان ماتریس ضرایب صفر باشد در این حالت دستگاه بی شمار جواب دارد.

$$det\begin{bmatrix}1&2&1\\2&3&1\\1&1&k\end{bmatrix}=1\begin{vmatrix}3&1\\1&k\end{vmatrix}+2\begin{vmatrix}1&2\\k&1\end{vmatrix}+1\begin{vmatrix}2&3\\1&1\end{vmatrix}=(3k-1)+2(1-2k)+(2-3)$$

$$det\begin{bmatrix}1&2&1\\2&3&1\\1&1&k\end{bmatrix}=3k-1+2-4k+2-3=-k-4+4=-k$$

$$det\begin{bmatrix}1&2&1\\2&3&1\\1&1&k\end{bmatrix}=0\rightarrow\ -k=0\rightarrow k=0$$

۳- مجموعه جواب نامعادله $x-1 \le \frac{2x+7}{x+1}+\frac{x^2-4}{2+x-x^2}$ ، شامل چند عدد طبیعی است؟ (Www.iranestekhdam.ir)

۱) ۱ ۲) ۲ ۳) ۳ ۴) ۴

پاسخ کارشناس سایت ایران استخدام : گزینه ۳

ابتدا به ساده سازی روابط می پردازیم:

$$x-1 \le \frac{2x+7}{x+1}+\frac{x^2-4}{2+x-x^2}$$
$$x-1 \le \frac{2x+7}{x+1}-\frac{x^2-4}{x^2-x-2}$$
$$x-1 \le \frac{2x+7}{x+1}-\frac{(x-2)(x+2)}{(x-2)(x+1)}$$
$$x-1 \le \frac{2x+7}{x+1}-\frac{(x+2)}{(x+1)}=\frac{2x+7-x-2}{(x+1)}$$
$$x-1 \le \frac{x+5}{(x+1)} \quad ==> (x-1)(x+1) \le x+5$$
$$x^2-1 \le x-5 \;==>\; x^2-1-x-5 \le 0 \;==>\; x^2-x-6 \le 0$$
$$(x-3)(x+2) \le 0 ==> \begin{cases} x_2=+3 \\ x_2=-2 \end{cases}$$

اگر نامعادله $(x-3)(x+2) \le 0$ تعیین علامت کنید ؛نامعادله در بازه [-2,3] قرار دارد که در این بازه سه عدد طبیعی ۱و۲و۳ قراردارد.پس جواب سوال سه عدد طبیعی می باشد.

۴- اگر ماتریس $A=\begin{bmatrix} 2 & 0 & 0 \\ 2 & 1 & -1 \\ 1 & 0 & 1 \end{bmatrix}$ باشد، مقدار دترمینان 2A کدام است ؟ (Www.iranestekhdam.ir)

۱) صفر ۲) ۲ ۳) ۲۴ ۴) ۱۶

پاسخ کارشناس سایت ایران استخدام : گزینه ۳

$$2A = 2\begin{bmatrix} 2 & 0 & 0 \\ 2 & 1 & -1 \\ 1 & 0 & 1 \end{bmatrix} = \begin{bmatrix} 4 & 0 & 0 \\ 4 & 2 & -2 \\ 2 & 0 & 2 \end{bmatrix}$$
$$det\begin{bmatrix} 4 & 0 & 0 \\ 4 & 2 & -2 \\ 2 & 0 & 2 \end{bmatrix} = 4\begin{vmatrix} 2 & -2 \\ 0 & 2 \end{vmatrix} + 0\begin{vmatrix} -2 & 4 \\ 2 & 2 \end{vmatrix} + 0\begin{vmatrix} 4 & 2 \\ 2 & 0 \end{vmatrix} = 4(4+2)+0+0=24$$

۵- معکوس تابع f(x) = ۳x + |x| به صورت $f^{-1}(x)=ax+b|x|$ است. مقدار $\frac{a}{b}$ کدام است؟ (Www.iranestekhdam.ir)

۱) ۳ ۲) $\frac{1}{3}$ ۳) ۳- ۴) $-\frac{1}{3}$

پاسخ کارشناس ایران استخدام :گزینه ۳

ابتدا با توجه به تعیین علامت برای قدر مطلق داریم:

$$f(x)=3x+|x|=\begin{cases} 3x+x=4x & x \ge 0 \\ 3x-x=2x & x<0 \end{cases}$$

بنابراین معکوس تابع بصورت زیر خواهد بود:

$$f^{-1}(x)=\begin{cases}\frac{x}{4} & x\geq 0\\ \frac{x}{2} & x<0\end{cases}$$

اگر تعیین علامت را برای معادله معکوس تابع داده شده در روی خود سوالات انجام دهیم،داریم:

$$f^{-1}(x)=ax+b|x|=\begin{cases}ax+bx=x(a+b) & x\geq 0\\ ax-bx=x(a-b) & x<0\end{cases}$$

با مقایسه دو تا معادله اخیر در کل داریم:

$$\begin{cases}x(a+b)=\frac{x}{4}\\ x(a-b)=\frac{x}{2}\end{cases} \Rightarrow \begin{cases}(a+b)=\frac{1}{4}\\ (a-b)=\frac{1}{2}\end{cases} \rightarrow 2a=\frac{3}{4}\rightarrow a=\frac{3}{8}\ .b=-\frac{1}{8}$$

آنگاه حاصل زیر برابرخواهد بود با:

$$\frac{a}{b}=\frac{\frac{3}{8}}{-\frac{1}{8}}=-3$$

۶- در یک تصاعد حسابی جمله هفتم برابر ۴ و هر جمله از جمله ماقبل خود به اندازه $\frac{1}{2}$ کمتر است. مجموع هشت جمله اول این تصاعد کدام است؟ (Www.iranestekhdam.ir)

۱) ۵۹/۵ ۲) ۴۹/۵ ۳) ۴۲ ۴) ۷۰

پاسخ کارشناس ایران استخدام :گزینه ۳

ابتدا جدولی به شکل زیر برای تعیین جمله های تصاعد حسابی گفته شده در سوال تشکیل می دهیم:

a_1	a_2	a_3	a_4	a_5	a_6	a_7	a_8
۷	۶.۵	۶	۵.۵	۵	۴.۵	۴	۳.۵

برای محاسبه مجموع ۸ جمله اول تصاعد حسابی فوق از فرمول محاسبه مجموع n جمله تصاعد حسابی استفاده می کنیم:

$$S_n=\frac{n[a_1+a_n]}{2}=\frac{8\times(7+3.5)}{2}=42$$

ویا اینکه می توانیم بصورت معمولی مجموع جملات رو حساب کرده و به جواب ۴۲ برسیم.

۷- اگر $f(x)=\begin{cases}3x-1 & x\leq 2\\ x^2-3x & x\rangle 2\end{cases}$ **باشد، حاصل** $f(2-x^2)+(3+x^2)$ **کدام است ؟** (Www.iranestekhdam.ir)

۱) x^4+5 ۲) $3x^4-5$ ۳) $3x^4+5x$ ۴) $4x^4-3x+5$

پاسخ کارشناس ایران استخدام : گزینه ۱

$2-x^2\leq 2$

$3+x^2>2$

$$f(2-x^2)+f(3+x^2)=3(2-x^2)-1+(3+x^2)^2-3(3+x^2)=6-3x^2-1+9+x^4+6x^2-9-3x^2=x^4+5$$

کاربران گرامی لطفا دقت فرمایید، این فایل تنها بخشی از محصول ویژه گلچین سوالات عمومی آزمونهای استخدامی می باشد که به صورت رایگان و برای آشنایی شما عزیزان از کیفیت و محتوای فایل معرفی شده ارائه شده است، لطفاً جهت خرید و دانلود کامل این محصول، روی لینک زیر کلیک فرمایید.

لینک دانلود و خرید بسته کامل

بخش پنجم:

زبان انگلیسی عمومی

1- I didn't listen to their conversation, so I didn't hear what …… talking about. (Www.iranestekhdam.ir)

1) are they 2) they are 3) were they 4) they were

پاسخ کارشناس سایت ایران استخدام : **گزینه ۴**

معنی ترجمه: من به گفتگوی آنها گوش ندادم؛ بنابراین چیزی که آنها در موردش صحبت می کردند؛ را نشنیدم.

2- The workshop is intended to …… the trainee Engineers skill to operate the new machinery. (Www.iranestekhdam.ir)

1) pursue 2) enhance
3) praise 4) expose

پاسخ کارشناس سایت ایران استخدام : **گزینه ۲**

معنی جمله به صورت زیر است:

این کارگاه برای .....توانایی مهندسان کارآموز در نظر گرفته شده تا با مکانیزم ها و دستگاههای جدید کار کنند.

کلمه مناسب برای این جای خالی Enhance به مهنی بهبود دادن و افزایش دادن هست که گزینه درست می باشد.

3- Laura is about ..... I am. (Www.iranestekhdam.ir)

1) younger than two years
2) two years younger than
3) younger two years than
4) two years than younger

لائورا تقریبا ....از من .... می‌باشد.

۱- جوان‌تر از.... دو سال ۲- دو سال ... جوان‌تر ۳- جوان‌تر از دو سال ۴- دوسال از جوان‌تر

پاسخ کارشناس ایران استخدام : **گزینه ۲**

ساختار صحیح برای مقایسه در گزینه ۲ آمده است: تعداد + طول یا اندازه (سال، سانتیمتر، بزرگی) + کیفیت (بزرگتر – کوچکتر – باهوش تر ...) + t han (راست به چپ)

4- There are too..... museums to visit in one day. (Www.iranestekhdam.ir)

1) lots 2) many 3) a few 4) much

پاسخ کارشناس سایت ایران استخدام : **گزینه ۲**

واژه موزه اسم قابل شمارش بوده و باید از صفت شمارشی مناسب ان استفاده کرد.

Much : فقط با اسمهای غیر قابل شمارش و با فعل مفرد همراه است و در جملات مثبت، منفی و سوالی بکار برده می شود.

Many : فقط با اسمهای قابل شمارش و با فعل جمع همراه است و در جملات مثبت، منفی و سوالی بکار برده می شود.

معنی جمله:

موزه های بسیار زیادی برای دیدار در طول یک روز وجود دارد.

5 - If had treated her well she … (Www.iranestekhdam.ir)

1) Won't leave
2) Dose not Leave
3) Had Left
4) Would not have left

5- اگر او را به خوبی درمان کرده بودند او از دست نمی رفت.

۱) از دست نخواهد داد
۲) از دست نمی دهد
۳) از دست داده بود
۴) از دست نمی رفت

پاسخ کارشناس ایران استخدام :گزینه ۴

از این نوع جملات شرطی برای تصور گذشته ای غیر ممکن استفاده می شود. در واقع در این نوع جملات، گوینده آرزوی یک گذشته متفاوت را دارد (اما گذشته ها گذشته).

ساختار این جمله از نوع شرطی نوع سوم است.

+Ifگذشته کامل + would have/ would not have+ قسمت سوم فعل (p.p.)

6-…… that only specialists can fathom its complexities. (Www.iranestekhdam.ir)

1)Very difficult science has become
2) too difficult science has become
3)so difficult has science become
4) such a difficult has science become

پاسخ کارشناس سایت ایران استخدام : گزینه ۳

با توجه به کاربرد ساختار So در جملات داریم که:

So + صفت یا قید +That+ جمله

معنی جمله:علم دشواری هایی دارد که تنها متخصصان می توانند پیچیدگی های آن را بفهمند

7- Those organisms that are most suited to the environment will be those that will ……. (Www.iranestekhdam.ir)

1) survive
2) stick
3) handle
4) protect

موجوداتی که برای محیط زیست بسیار مطالعه شده‌اند آنهایی خواهند بود که ..... خواهند

۱)زنده ماندن
۲) گیر افتادن (چسبیدن)
۳)سر و کار داشتن با
۴) نگهداری کردن

پاسخ کارشناس ایران استخدام : گزینه ۱

(زنده خواهند ماند)

کاربران گرامی لطفا دقت فرمایید، این فایل تنها بخشی از محصول ویژه گلچین سوالات عمومی آزمونهای استخدامی می باشد که به صورت رایگان و برای آشنایی شما عزیزان از کیفیت و محتوای فایل معرفی شده ارائه شده است، لطفاً جهت خرید و دانلود کامل این محصول، روی لینک زیر کلیک فرمایید.

لینک دانلود و خرید بسته کامل

بخش ششم:

اطلاعات عمومی ، دانش اجتماعی و قانون اساسی

۱- اعضای اصلی سازمان همکاری شانگهای،کدام کشورها هستند؟ (Www.iranestekhdam.ir)

۱) روسیه، چین، قزاقستان، قرقیزستان، ازبکستان، تاجیکستان

۲) روسیه، چین، قزاقستان، قرقیزستان، ازبکستان، آذربایجان

۳) روسیه، چین، هند، پاکستان،ایران، قزاقستان، قرقیزستان

۴) روسیه، چین، هند، ایران، پاکستان، ترکمنستان

پاسخ کارشناس سایت ایران استخدام : گزینه ۱

سازمان همکاری شانگهای سازمانی میان‌دولتی است که برای همکاری‌های چندجانبه امنیتی، اقتصادی و فرهنگی تشکیل شده‌است. این سازمان در سال ۲۰۰۱ توسط رهبران چین، روسیه، قزاقستان، قرقیزستان، تاجیکستان و ازبکستان پایه‌گذاری شد.علاوه بر اعضای اصلی، ابتدا مغولستان در سال ۲۰۰۴ و یک سال بعد ایران، پاکستان، هند و افغانستان در سال ۲۰۱۲ به عنوان عضو ناظر به سازمان ملحق شدند

۲- کتاب « مردی در تبعید ابدی»؛زندگی نامه کدام عالم بزرگ است؟ (Www.iranestekhdam.ir)

۱)قطب رازی(ره) ۲)ملاصدرا (ره)

۳)علامه مجلسی(ره) ۴)شیخ بهایی (ره)

پاسخ کارشناس سایت ایران استخدام : گزینه ۲

کتاب «مردی در تبعید ابدی» عنوان رمانی از نادر ابراهیمی است که به شرح زندگی پر فراز و نشیب، و عقاید فلسفی-عرفانی صدرالدین محمد قوام شیرازی یا ملاصدرا (ره) پرداخته است.

۳-سازمان بهزیستی کشور ، زیر نظر کدام وزارتخانه فعالیت می کند؟ (Www.iranestekhdam.ir)

۱)وزارت بهداشت، درمان و آموزش پزشکی

۲) وزارت کور

۳) وزارت عاون، کار و رفاه اجتماعی

۴)مستقل است

پاسخ کارشناس سایت ایران استخدام : گزینه ۳

طبق تبصره ۲ لایحه قانونی تشکیل سازمان بهزیستی کشور مصوب ۱۳۵۹/۳/۲۴ شورای انقلاب اسلامی ؛ سازمان بهزیستی کشور وابسته به وزارت تعاون، کار و رفاه اجتماعی است و رییس آن توسط وزیر تعاون، کار و رفاه اجتماعی منصوب می‌گردد.

۴- مجلس شورای اسلامی، به ترتیب در کدام صورت و از کدام طریق، می تواند اختیار قانونگذاری را به دیگری تفویض کند؟ (Www.iranestekhdam.ir)

۱) بروز اختلاف با شورای نگهبان – مجمع تشخیص مصلحت نظام

۲) در موارد ضروری با تایید شورای نگهبان – کمیسیون های داخلی و دولت

۳) با تاکید شورای نکهبان – مجمع تشخیص مصلت نظام

۴) در موارد ضروری – کمیسیون های داخلی خود

پاسخ کارشناس ایران استخدام: گزینه ۴

مجلس اصولا نمی تواند امر قانون گذاری را به شخص یا هیأتی واگذار کند. با این حال قانون گذار اساسی در اصل ۸۵ قانون اساسی به مجلس شورای اسلامی اجازه داده است که تصویب آزمایشی قانون را به کمیسیون های داخلی مجلس و همچنین تصویب دایمی اساسنامه سازمان ها، شرکت ها، موسسات دولتی یا وابسته به دولت را به دولت یا کمیسیون ها تفویض کند.

۵-قلعه دختر ؛ از آثار باستانی کدام شهرستان است؟ (Www.iranestekhdam.ir)

۱)فیروزآباد فارس ۲)میبد یزد

۳)درود لرستان ۴)نائین اصفهان

پاسخ کارشناس سایت ایران استخدام : گزینه ۱

قلعه دختر در ۶ کیلومتری جاده فیروزآباد به شیراز در دامنه کوهی مشرف به جاده در استان فارس قرار دارد.

۶- به موجب قانون اساسی، نظارت بر حُسن جریان امور در دستگاه های اداری، بر عهده کدام مرجع نهاده شده است؟ (Www.iranestekhdam.ir)

۱) دیوان محاسبات کشور ۲) دیوان عالی کشور

۳) سازمان بازرسی کل کشور ۴) دیوان عدالت اداری

پاسخ کارشناس ایران استخدام :گزینه ۳

سازمان بازرسی کل کشور یکی از دستگاه های وابسته به قوه قضاییه است که با توجه به حق نظارت این قوه نسبت به حسن جریان امور و اجرای صحیح قوانین در دستگاه‌های اداری (اصل ۱۷۴ قانون اساسی) زیر نظر رئیس قوه قضاییه انجام فعالیت می‌کند.

۷- شورای حکام، از ارکان سیاست‌گذاری کدام سازمان جهانی است و چند عضو دارد؟ (Www.iranestekhdam.ir)

۱) آژانس بین‌المللی انرژی اتمی - ۳۵ عضو ۲) سازمان ملل متحد - ۱۵ عضو

۳) سازمان ملل متحد - ۳۵ عضو ۴) آژانس بین‌المللی انرژی اتمی - ۱۵ عضو

پاسخ کارشناس ایران استخدام : گزینه ۱

شورای حکام آژانس بین‌المللی انرژی اتمی در کنار مجمع عمومی اعضا، یکی از دو رکن سیاست‌گذاری در آژانس بین‌المللی انرژی اتمی است. این شورا ۳۵ عضو دارد و معمولاً پنج بار در سال تشکیل جلسه می‌دهد.

کاربران گرامی لطفا دقت فرمایید، این فایل تنها بخشی از محصول ویژه گلچین سوالات عمومی آزمونهای استخدامی می باشد که به صورت رایگان و برای آشنایی شما عزیزان از کیفیت و محتوای فایل معرفی شده ارائه شده است، لطفاً جهت خرید و دانلود کامل این محصول، روی لینک زیر کلیک فرمایید.

لینک دانلود و خرید بسته کامل

بخش هفتم:

هوش و استعداد تحصیلی

راهنمایی: برای پاسخگویی به سوال زیر لازم است موقعیتی را که در سؤال مطرح شده، مورد تجزیه و تحلیل قرار دهید و سپس گزینه‌ای را که فکر می‌کنید پاسخ مناسب‌تری برای سؤال است، انتخاب کنید. سوال را با دقت بخوانید و با توجه به واقعیت‌های مطرح شده و نتایجی که بیان شده و بیان نشده ولی قابل استنتاج است، پاسخی را که صحیح‌تر به نظر می‌رسد، انتخاب و در پاسخنامه علامت بزنید.

۱- در کشور «الف» که زبان انگلیسی به عنوان زبان خارجی در مدارس تدریس می شود، معلمان درس «فن نگارش انگلیسی» با آنکه می دانند که بر اساس تحقیقات انجام شده، تصحیح انشای دانش آموزان، تاثیری بر روی رشد فن نگارش در آنها نمی گذارد. ولی همواره انشاهای دانش آموزان را به دقت تصحیح و به انان بر می گردانند و این در حالی است که انجام این کار، وقت بسیاری از آنها می گیرد.

کدام مورد، در صورتی که صحیح فرض شود، به منطقی ترین وجه، تناقض موجود در متن فوق را برطرف می سازد؟ (Www.iranestekhdam.ir)

۱) قوانین آموزش و پرورش در کشور «الف»، تصحیح تکالیف درسی از جانب معلمان را اختیاری کرده است.

۲) وقت آزاد معلمان کشور «الف»، به دلیل آنکه ساعات موظف تدریس آنها ۱۰ ساعت درهفته است، زیاد می باشد.

۳) معلمان زبان انگلیسی در کشورهای دیگر نیز بر تصحیح دقیق انشای فراگیران این زبان، تاکید بسیار زیادی دارند.

۴) معلمان می دانند که چنانچه شاگردان از غلط نگارشی خود آگاه نباشند، انگیزه لازم برای مطالعه شخصی و بهبود فن نگارش پیدا نمی کنند.

پاسخ کارشناس ایران استخدام: گزینه ۴

این جمله با این قسمت متن در تناقض می باشد . بر اساس تحقیقات انجام شده تصحیح انشای دانش اموزان تاثیری بر رشد فن نگارش در انها نمیگذارد.

۲- درشکل روبرو، بین اعداد،ارتباط خاصی برقرار است.مقدار $x + y$ کدام است؟ (Www.iranestekhdam.ir)

۱) ۵ ۲) ۳ ۳) ۱۲ ۴) ۱۰

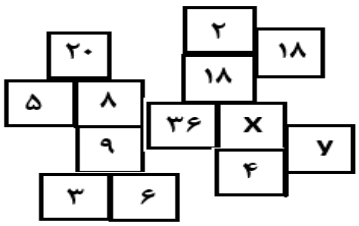

پاسخ کارشناس ایران استخدام : گزینه ۲

ارتباطی که برقرار است به این صورت است که در سه مربع که به شکل زیر باشند مقدار دو مربع ۱ و ۲ در هم ضرب بر ۲ تقسیم و در مربع ۳ قرار داده می‌شود.

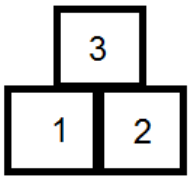

$$\frac{36 \times x}{2} = 18 \qquad x = 1$$

$$\frac{4 \times x}{2} = yy = 2$$

$$x + y = 3$$

راهنمایی: در سؤال ۳، ارتباط خاصی بینِ الگوها از چپ به راست وجود دارد. به جای علامت سؤال، کدام الگو (موارد ۱ تا ۴) باید قرار بگیرد تا این ارتباط، همچنان حفظ شود؟

۳- (Www.iranestekhdam.ir)

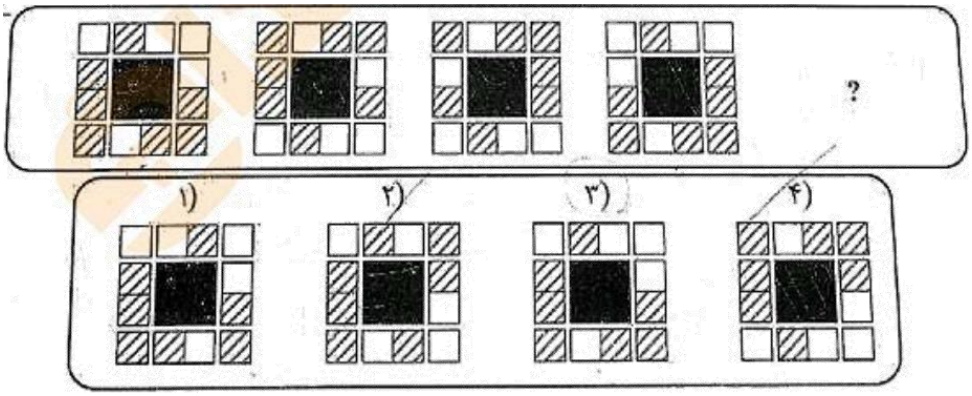

پاسخ کارشناس ایران استخدام : گزینه ۳

در شکل زیر بین اشکال رابطه ی خاص وجود دارد به جای علامت سؤال کدام شکل قرار خواهد گرفت؟

۴- (Www.iranestekhdam.ir)



۱) □

۲) ▲

۳) ○

۴) ■

پاسخ کارشناس ایران استخدام : گزینه ۴

در هر ردیف یا ستون شکلی که دو بار تکرار شده حاصل می‌شود و رنگ آن بر خلاف آن دو شکل مشابه هست. در این سوال مربع انتخاب میشود و چون رنگ دو مربع سفید است پس رنگ مربع مشکی خواهد بود.

۵- در ادامه رشته عددی مقابل کدام عدد قرار می گیرد؟ (Www.iranestekhdam.ir)

۳و۷و۱۶و۳۵ و ؟

۱)۴۵ ۲)۷۴ ۳)۳۸ ۴)۱۵۳

پاسخ کارشناس سایت ایران استخدام : گزینه ۲

به الگوی ایجاد اعداد در هر سری دقت نمایید:

$(3\times2)+1=7$
$(7\times2)+2=16$
$(16\times2)+3=35$
$(35\times2)+4=74$

۶- در یک مکعب ۴×۴×۵، چند مکعب مستطیل ۱×۲×۳ جای می گیرد؟(Www.iranestekhdam.ir)

۱) ۱۱ ۲) ۱۴ ۳) ۱۳ ۴) ۱۲

پاسخ کارشناس ایران استخدام : **گزینه ۳**

جهت تصور بهتر جایگذاری مکعب ها، به اشکال زیر که از چند بعد مختلف نشان داده شده دقت نمایید.

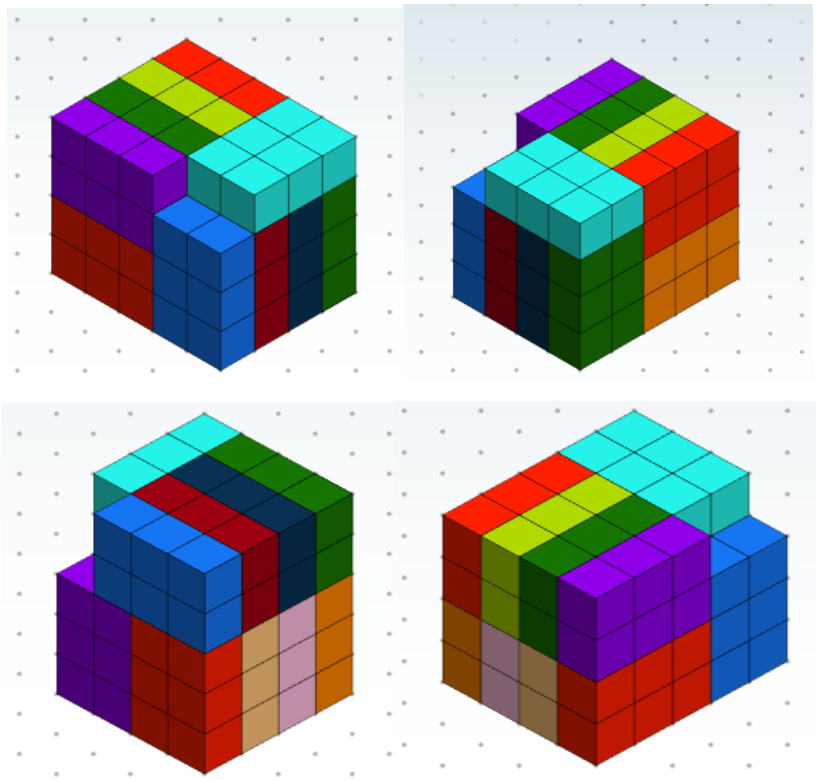

تعداد مکعب های یک در یک برای مکعبی به ابعاد ۴×۴×۵، برابر خواهد بود با: ۴×۴×۵=۸۰

تعداد مکعب های یک در یک برای مکعبی به ابعاد ۴×۴×۵، برابر خواهد بود با: ۱×۲×۳ =۶

با تقسیم این تعداد بر هم تعداد چند مکعب مستطیل ۱×۲×۳ جای گرفته برابر خواهد بود با ۱۳ مکعب.

۷- یک محلول ۴ لیتری آب و شکر به غلظت ۴۰٪ در اختیار داریم. یک محلول ۶ لیتری آب و آب لیمو به غلظت ۳۰٪ نیز در اختیار داریم. این دو محلول را با هم ترکیب می کنیم تا شربت آبلیمو ساخته شود. غلظت شربت آبلیمو، چند درصد است؟
(Www.iranestekhdam.ir)

۱) ۳۴ ۲) ۳۵

۳) ۳۶ ۴) ۳۲

پاسخ کارشناس سایت ایران استخدام : **گزینه ۱**

محلول ۴ لیتری حاوی آب و شکر به غلظت ۴۰٪ حاوی ۴۰٪ شکر و ۶۰٪ آب است؛ یعنی ۱٫۶ لیتر شکر و ۲٫۴ لیتر آب.

محلول ۶ لیتری حاوی آب و آبلیمو به غلظت ۳۰٪ حاوی ۳۰٪ آب لیمو و ۷۰٪ آب است، یعنی ۱٫۸ لیتر آبلیمو و ۴٫۲ لیتر آب.

حال باید غلظت محلول نهایی را به دست آوریم که حاصل تقسیم مجموع آبلیمو و شکر بر مجموع کل محلول(یعنی آب و شکر و آبلیمو) است.

$$\frac{1.6+1.8}{2.4+4.2+1.6+1.8}=\frac{3.4}{6.6+3.4}=0.34\rightarrow 34\%$$

کاربران گرامی لطفا دقت فرمایید، این فایل تنها بخشی از محصول ویژه گلچین سوالات عمومی آزمونهای استخدامی می باشد که به صورت رایگان و برای آشنایی شما عزیزان از کیفیت و محتوای فایل معرفی شده ارائه شده است، لطفاً جهت خرید و دانلود کامل این محصول، روی لینک زیر کلیک فرمایید.

لینک دانلود و خرید بسته کامل

بخش هشتم:

خودآزمایی سوالات تستی دورس عمومی

بخش خودآزمایی سوالات تستی دورس عمومی

فنّاوری اطلاعات و مهارت های هفتگانه *I.C.D.L*

۱- کدامیک از بخش های CPU ، واحد محاسبه و منطق نامیده می شود؟ (Www.iranestekhdam.ir)

۱) ALU ۲) CU ۳) DSP ۴) Cache

۲- برای گرفتن دقیق ترین نتیجه هنگام جستجوی اینترنتی یک واژه خاص بهتر است ... (Www.iranestekhdam.ir)

۱) عبارت جستجو را داخل « » قرار دهیم
۲) عبارت جستجود را داخل ( ) قرار دهیم
۳) عبارت جستجو را داخل " " قرار دهیم
۴) عبارت جستجو را < > داخل قرار دهیم

۳-اطلاعات کدام حافظه با قطع برق پاک می شود؟ (Www.iranestekhdam.ir)

۱)RAM ۲)ROM ۳)CD ۴)HDD

۴- در نرم افزار Outllok Express گزینه Replay All چه کاربردی دارد؟ (Www.iranestekhdam.ir)

۱) پاسخ به فرستنده نامه دریافتی
۲) ارسال نامه عیناً به گیرندگان دیگر
۳) پاسخ به فرستنده نامه و گیرندگان دیگر نامه
۴) پاسخ به گیرندگان دیگر نامه

۵- میکروفون و اسکنر کدامند ؟ (Www.iranestekhdam.ir)

۱) دستگاه ورودی ـ دستگاه خروجی
۲) دستگاه خروجی ـ دستگاه ورودی
۳) دستگاه ورودی ـ دستگاه ورودی
۴) دستگاه خروجی ـ دستگاه خروجی

زبان و ادبیات فارسی و آیین نگارش

۱- در کدام مجموعه، معنی تمام واژ ه ها(به ترتیب)درست است؟ (Www.iranestekhdam.ir)

۱) ابرش - ضمیر – مشعوف (گرد و غبار - باطن - شادمان)
۲) هله - خیره خیر – ژنده(آگاه باش - شگفت زده- بزرگ)
۳) طارمی - مسکر – ترگ(درگاه - مست کننده - کلاه خود)
۴) کت -بارگی – تفقّد (کتف – باره- دل جویی)

۲- معنی مصراع دوم بیت زیر چیست؟ (Www.iranestekhdam.ir)

"چه گفت آن سخن گوی با فرّ و هوش چو خسرو شدی، بندگی را بکوش"

۱) وقتی به مقامی رسیدی در برابر خلق، تواضع کن.
۲) وقتی به حکومت رسیدی در برابر خداوند بندگی کن.
۳) وقتی صاحب مقام شدی تلاش کن تا بندگان خدا را بنوازی.
۴) وقتی پادشاه شدی برای بندگان و زیر دستان خود کوشش کن.

۳-از عبارت زیر چه پیامی دریافت می شود؟ (Www.iranestekhdam.ir)

"هر که آن جا نشیند که خواهد و مرادش بود، چنانش کشند که نخواهد و مرادش نبود"

۱) نتیجه ی راحت طلبی، ناکامی است
۲) بر جایگاه بزرگان نمی توان تکیه زد
۳)با تقدیر و سرنوشت نمی توان مقابله کرد
۴) دنیا همواره با ما سر ناسازگاری دارد

۴- در کدام گروه کلمات، غلط املایی وجود دارد؟ (Www.iranestekhdam.ir)

۱) حالت غریب - فروگذاری - تزویر و ریا
۲) فشار و مضیقه - کار مطبوع - خشم و غیظ
۳)حوزه ی ادبیات - خارهای سرخ - اغتنام فرصت
۴) ممنوع و قدغن - شلیک طپانچه - علم فریدون

۷۹- در کدام بیت، آرایه های «تلمیح» و «کنایه» دیده می شود؟ (Www.iranestekhdam.ir)

۱) هر که در مزرع دل، تخم وفا سبز نکرد / زردرویی کشد از حاصل خود وقت درو
۲) خیز تا خاطر بدان ترک سمرقندی دهیم / کز نسیمش بوی جوی مولیان آید همی
۳) که آگه است که کاووس و کی کجا رفتند / که واقف است که چون رفت تخت جم بر باد
۴) نصیحت همه عالم چو باد در قفس است / به گوش مردم نادان چو آب در غربال

معارف اسلامی

۱- آیه شریفه «سبحان الذی خَلَقَ الازواج کُلَّها» دلالت به کدامیک از جنبه های اعجاز قرآن دارد؟ (Www.iranestekhdam.ir)

۱)اعجاز لفظی
۲) اعجاز معنوی
۳)اعجاز خبر از آینده
۴) اعجاز از دیدگاه علوم طبیعی

۲-مطابق آیات قرآن مجید، خداوند از فرزندان آدم چه پیمانی گرفته است؟ (Www.iranestekhdam.ir)

۱)به یکدیگر نیکی کنید و از فساد و ظلم بپرهیزید
۲) فقط خداوند را ستایش کنند از شیطان دوری گزینند
۳) به والدین خود احترام گذارده و نزدیکان و مستمندان را یاری نمایند
۴) در راه خدا جهاد نموده و نماز را به پا دارید.

۳- دلیل عصمت از گناه پیامبران کدام است ؟ (Www.iranestekhdam.ir)

۱) سرنوشت خود پیامبر مانع انجام گناهان می شد
۲) به وسیله ملایک و امدادهای غیبی مانع انجام گناهان می باشد
۳) قدرت و نیروی لایزال الهی که خدا به آنان عنایت کرده بود
۴) معرفت و بینش عمیقی بود که خدا به آنان عنایت کرده بود

۴-علت خروج موسی (ع) از شهری که در کودکی در آن می زیست چه بود و به کجا رفت؟ (Www.iranestekhdam.ir)

۱) به حمایت از مظلوم مردی از طرفداران فرعون را کشت تحت تعقیب قرار گرفت- مدین

۲)به حمایت از مظلوم مردی از طرفداران فرعون را کشت تحت تعقیب قرار گرفت - مصر

۳) چون موسی در برابر دستگیری های فرعون ایستادگی کرد تحت تعقیب قرار گرفت - مدین

۴) چون موسی در برابر دستگیری های فرعون ایستادگی کرد تحت تعقیب قرار گرفت – مصر

۵- معنی این آیه شریفه: « ولَن یجعلَ اللهُ للکافرینَ علَی المومنینَ سبیلاً » کدام است؟(Www.iranestekhdam.ir)

۱)خداوند مؤمنین را به مدارا با کفار دعوت کرده است.

۲)خداوند مؤمنین را وادار به جنگیدن با کفار نموده است.

۳)خداوند مؤمنین را تشویق به صلح و همزیستی با کفار نموده است.

۴)خداوند هرگز راهی برای تسلط کفار بر مؤمنین، قرار نداده است.

ریاضی و آمارمقدماتی

۱- اگر تابع $f(x)=\sqrt{2x}-1$ **و** $g(x)=x^2+1$ **باشد، مقدار (gof) به مقدار x=۲ کدام است؟** (Www.iranestekhdam.ir)

۱) ۱ ۲) ۲ ۳) ۳ ۴) ۴

۲- مشتق تابع $y=Ln(\cos x)$ **برابر است با :** (Www.iranestekhdam.ir)

۱- tan x ۲- - tan x ۳- - sin x ۴- sin x

۳- مقدار انتگرال $I=\int_1^2 \frac{2Lnx}{x}$ **برابر کدام است ؟** (Www.iranestekhdam.ir)

۱- 2 Ln 2 ۲- $Ln2^2$ ۳- ln4 ۴- $\frac{1}{2}Ln2$

۴- اگر $\begin{bmatrix}2 & 5\\ -1 & 3\end{bmatrix}$ **و I ماتریس واحد از مرتبه دو باشند. ماتریس (A+I).(A-I) کدام است؟** (Www.iranestekhdam.ir)

۱) $\begin{bmatrix}-2 & 25\\ 5 & -3\end{bmatrix}$ ۲) $\begin{bmatrix}-2 & 25\\ -5 & 3\end{bmatrix}$ ۳) $\begin{bmatrix}-2 & 25\\ -5 & -3\end{bmatrix}$ ۴) $\begin{bmatrix}2 & 25\\ 5 & -3\end{bmatrix}$

۵- حاصل $\frac{x^2-2-x}{x^2-1}\times\frac{x^2-x}{x-1}$ **کدام است ؟** (Www.iranestekhdam.ir)

۱) –X ۲) X ۳) X +1 ۴) ۱

زبان انگلیسی عمومی

1- Tellers …… the responsibility for the safety of depositor's funds.
(Www.iranestekhdam.ir)
1) keep 2) present 3) provide 4) share

2- My friend Jack will get good job …….. he may graduate from school or not .
(Www.iranestekhdam.ir)
1) that 2) while 3) when 4) whether

3- If I Won the lottery , I ……. a home in the country . (Www.iranestekhdam.ir)
1) would Buy 2) have bought
3) buy 4) would have bought

4- we can't get there by at 3:00 p.m There is …….. time. (Www.iranestekhdam.ir)
1) few 2) too little 3) too little little 4) too few

5- Write your ……. Of the experiment in your notebook. (Www.iranestekhdam.ir)
1) importance 2) competition 3) observation 4) conversation

اطلاعات عمومی ، دانش اجتماعی و قانون اساسی

۱- کتاب «فارسی شکر است» اثر کیست؟ (Www.iranestekhdam.ir)
۱) جلال آل احمد ۲) علی اکبر دهخدا ۳) محمدعلی جمال زاده ۴) صادق چوبک

۲- تسخیر لانه جاسوسی آمریکا در چه سالی اتفاق افتاد؟ (Www.iranestekhdam.ir)
۱) ۱۳۵۸ ۲) ۱۳۵۷ ۳) ۱۳۵۹ ۴) ۱۳۶۰

۳- پدر شعر نو فارسی کیست؟ (Www.iranestekhdam.ir)
۱) مهدی اخوان ثالث ۲) احمد شاملو ۳) نیما یوشیج ۴) سهراب سپهری

۴- حمله نظامی آمریکا به طبس و شکست مفتضحانه آنان در این سال اتفاق افتاد؟ (Www.iranestekhdam.ir)
۱) ۱۳۵۸ ۲) ۱۳۵۹ ۳) ۱۳۶۰ ۴) ۱۳۶۱

۵-موسس شبکه اینترنت چه سازمانی است؟(Www.iranestekhdam.ir)
۱) وزارت دفاع آمریکا ۲)دانشگاه کلمبیا
۳) یونسکو ۴)سازمان ملل متحد

هوش و استعداد تحصیلی

۱-در شش شعبه رستورانی، جمعاً 120 کارگر، کار می کند. اگر تعداد کارگران هر شعبه ، از 12 نفر کمتر و از 36نفر بیشتر نباشد، حداکثر تعداد کارگران دو شعبه، چند نفر است؟(Www.iranestekhdam.ir)

۱)۷۲ ۲)۹۶ ۳)۲۴ ۴)۴۸

۲- کدام ترکیب مناسبت کمتری با سه ترکیب دیگر دارد؟ (Www.iranestekhdam.ir)

۱) جاذب و مجذوب ۲) فاصل و معزول ۳) قادر و مقدور ۴) ناقل و منقول

۳- موتورسواری با سرعت متوسط ۶۰ کیلومتر در ساعت فاصله بین دو شهر را طی می کند و همین فاصله را با سرعت متوسط ۴۰ کیلومتر در ساعت برمی‌گردد. سرعت متوسط او برای تمام مسیر رفت و برگشت عبارت است از:
(Www.iranestekhdam.ir)

۱) ۵۳ کیلومتر در ساعت ۲) ۵۰ کیلومتر در ساعت
۳) ۴۸ کیلومتر در ساعت ۴) ۵۲ کیلومتر در ساعت

۴- ۵۴۰۰ لیتر بنزین برای مصرف ۹ اتومبیل یک شرکت راهسازی در مدت ۲۰ روز مأموریت داده شده است. با افزوده شدن ۳ اتومبیل دیگر ۲ روز از مدت مأموریت کم می شود در صورتی که مقدار بنزین دریافتی تغییر نکند. سهمیه بنزین روزانه هر اتومبیل:
(Www.iranestekhdam.ir)

۱) زیاد شده است ۲) کم شده است ۳) تغییر نکرده است ۴) قابل تعیین نیست

۵- با توجه به شکل مقابل مساحت چهارضلعی وسطی چند است؟ (Www.iranestekhdam.ir)

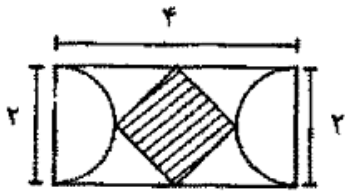

۱) ۱ ۲) ۲ ۳) $\sqrt{3}$ ۴) ۴

کاربران گرامی لطفا دقت فرمایید، این فایل تنها بخشی از محصول ویژه گلچین سوالات عمومی آزمونهای استخدامی می باشد که به صورت رایگان و برای آشنایی شما عزیزان از کیفیت و محتوای فایل معرفی شده ارائه شده است، لطفاً جهت خرید و دانلود کامل این محصول، روی لینک زیر کلیک فرمایید.

لینک دانلود و خرید بسته کامل