سوالات آزمون فراگیر چهارم سال ۱۳۹۶

نوبت صبح و عصر

ایران استخدام
سرویس خصوصی خدمات عام المنفعه اخبار شغل و استخدام
Www.IranEstekhdam.Ir

اخطار مهم: این فایل در جهت حمایت همیشگی سایت ایران استخدام از کارجویان گرامی و با هدف رشد و پیشرفت سطح علمی و آگاهی کاربران خود؛ بصورت رایگان و اختصاصی در اختیار شما قرار گرفته است.

با توجه به ارائه اختصاصی این فایل و تلاش همیشگی همکاران ما در تهیه و تنظیم این فایل ها؛ هرگونه تغییر و دستکاری در محتوای آنها مانند حذف آرم یا لوگوی سایت ایران استخدام و یا اضافه کردن آرم؛ نوشته و محتوای دیگر از نظر سایت ایران استخدام غیر مجاز بوده و شرعاً حرام است.

«توجه مهم»

جهت تهیه و دانلود بسته کامل نمونه سوالات استخدامی به همراه پاسخنامه

به آدرس زیر مراجعه بفرمایید:

اینجا کلیک نمایید

بخش اول:

فنّاوری اطلاعات و مهارت های هفتگانه *I.C.D.L*

۱- از کار افتادن کدام سخت افزار ، باعث از کار افتادن کل سیستم می شود؟

۱) Monitor ۲) Random Access Memory

۳) Network Interface Card ۴) Mouse/Keyboard

۲-کدام مورد در خصوص واحد پردازنده مرکزی، صحیح است؟

۱) ارتقای آن پس از نصب بر روی برد اصلی یک سیستم، امکان پذیر نیست.

۲) پردازنده هایی که دارای هسته های بیشتر هستند؛همیشه سریع ترند.

۳)قادر به اتصال به کارت شبکه برای دسترسی به اینترنت نیست.

۳- تفاوت log off و switch User در هنگام تغییر حساب های کاربری در سیستم عامل Windows 7 کدام است؟

۱)برخلاف Switch User؛ در Log off نمی توان به اینترنت دسترسی داشت ودسترسی سیسیتم به اینترنت قطع خواهد شد.

۲)در Log off برنامه های کاربر اولِ بسته می شوند ولی در Switch User ، باز می ماند.

۳) بر خلاف Log off؛ در Switch User کاربر نمی تواند به CD/DVD Drive دسترسی داشته باشد.

۴)بر خلاف Log off ، در Switch User می توان بودن نیاز به کلمه عبور، وارد حساب های کاربر دیگری شد.

۴- با قرار دادن مکانما میان حروف«س» و «ن» در کلمه « سنجش» و تایپ «لام» این کلمه به «سلام» تغییر پیدا می کند.فعال بودن کدام کلید باعث این تغییر می شده است؟

۱) F10 ۲) Ctrl

۳) Shift ۴) Insert

۵- جدول زیر در نرم افزار word ، به واسطه تنظیماتی که در شکل زیر نشان داده شده است؛ به کدام مورد تغییر خواهد کرد؟



Ali	Mohammadi	Isfahan	200
Reza	Jahani	Tehran	240
Ali	Ranjbar	Tehran	235
Zahra	Sadeghi	Isfahan	189
Zohreh	Sadeghi	Tehran	235

۱)

Zahra	Sadeghi	Isfahan	189
Zohreh	Sadeghi	Tehran	235
Ali	Ranjbar	Tehran	235
Ali	Mohammadi	Isfahan	200
Reza	Jahani	Tehran	240

۲)

Reza	Jahani	Tehran	240
Ali	Mohammadi	Isfahan	200
Ali	Ranjbar	Tehran	235
Zahra	Sadeghi	Isfahan	189
Zohreh	Sadeghi	Tehran	253

۳)

Zahra	Sadeghi	Isfahan	189
Ali	Mohammadi	Isfahan	200
Ali	Ranjbar	Tehran	235
Reza	Jahani	Tehran	240
Zohreh	Sadeghi	Tehran	253

۴)

Zohreh	Sadeghi	Tehran	253
Reza	Jahani	Tehran	240
Ali	Ranjbar	Tehran	235
Ali	Mohammadi	Isfahan	200
Zahra	Sadeghi	Isfahan	189

۶- در کدام حالت، عمل **Text Wrapping** در محیط نرم افزار **Word** ؛ انجام خواهد شد؟

۱)

۲)

۳)

۴)

۷- در نرم افزار **Excel**، پس از نوشتن **11:23** در یک سلول از نوع **Time** ، مقدار سلول به کدام مورد نمیتواند تغییر پیدا کند؟

۱) November 23, 2017

۲) Wednesday, November 23, 11:23 AM

۳) 11:23:00 AM

۴) Wednesday, November 23, 2017

۸-نمودار زیر، در نرم افزار Excel ایجاد شده است.به منظور تغییر مقدار سود درصدِ حاصل از فروش در سال ۲۰۱۶، از ۲۰ به ۱۰، کدام روش پیشنهاد می شود؟

۱) کشیدن خط Percentage بر روی ۱۰

۲) حذف و ایجاد مجدد نمودار با مقدار جدید

۳) دوبار کلیک ب روی سال ۲۰۱۶ و تغییر مقدار آن

۴) تغییر داده مورد نظر موجود در سلول های مربوط به نمودار

۹-شکل «الف» ، گروه Sheet Option را نشان می دهد.کدام یک از موارد زیر ؛ به منظور نمایش کاربرگ به صورتی که در شکل «ب» نشان داده شده است، انتخاب شده اند؟

	A	B
۲	نام	نام خانوادگی
۳	علی	محمدی
۴	رضا	علوی
۵	ابراهیم	صادقی
۶	محمد	جعفری

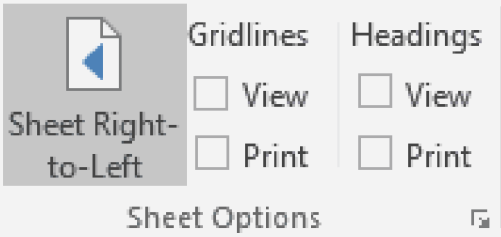

۱) Sheet Right – to –Left و View (در Gridlines)

۲) Sheet Right – to –Left و View (در Heading)

۳) View (در Heading) و Print (در Gridlines)

۴)View (در Gridlines) و Print (در Heading)

۱۰- کدام مورد در مورد نرم افزار Access ، صحیح است؟

۱) امکان تجزیه و تحلیل اطلاعات در ان وجود ندارد و فقط برای ذخیره و جست و جوی اطلاعات استفاده می شود.

۲)ایجاد پایگاه داده رابطه ای در این نرم افزار ؛ امکان پذیر نیست.

۳)کلید اصلی نمی تواند مقدار Null داشته باشد.

۴) هر سطر از جدول، یک فیلد نام دارد.

۱۱- هنگام چاپ یک اسلاید در نرم افزار PowerPoint، انتخاب گزینه Outline View، باعث چاپ کدام یک از موارد زیر خواهد شد؟

۱)فقط متن

۲)متن و تصاویر

۳) فقط تصاویر

۴) متن، تصاویر و Notes

«توجه مهم»

جهت تهیه و دانلود بسته کامل نمونه سوالات استخدامی به همراه پاسخنامه

به آدرس زیر مراجعه بفرمایید:

اینجا کلیک نمایید

بخش دوم:

زبان و ادبیات فارسی

۱۲- در کدام بیت ؛شاعر توصیه به « ترک تعلقات دنیوی» می کند؟

۱)یکی پند گویم تو را از نخست — دل از مهر گیتی ببایدت شست
۲)به گردن فتد سرکش تندخوی — بلندیت باید بلندی مجوی
۳)به دریا مرو گفتست زینهار — وگر می روی تن بهتوفان سپار
۴)حریص و جهانسوز و سرکش مباش — زخاک آفریدندت آتش مباش

۱۳- معنی واژ های « لابه- نعت-تیمار» به ترتیب کدام اند؟

۱) تضرع- صفت-اندیشه
۲)تکاپو-وصف کردن-پرستار
۳) التماس-مشخص- غم واندوه
۴) تلاش-خصلت- غم واندوه

۱۴- معنی کدام واژه ؛ در مقابل آن غلط آمده است؟

۱)بارقه:پرتو
۲)وضع:فرومرتبه
۳)حضیض:اوج
۴)پای مردی:شفاعت

۱۵- در کدام بیت ؛ آرایه های « تشبیه، تلمیح و جناس تام » یافت می شود؟

۱) اکنون که می دمد از بوستان نسیم بهشت — من وشراب فرح بخش و یار حور سرشت
۲) نه من از پرده تقوا به در افتادم و بس — پدرم نیز بهشت ابد از دست بهشت
۳) عالم بهشت گشته عنبر سرشت گشته — کاشانه زشت گشته صحرا چو روی حورا
۴) قیامت کسی بینی اندر بهشت — که معنی طلب کرد و دعوی بهشت

۱۶- آرایه های بیت زیر کدام اند؟

« بار هجران، تن چون پاره کوی خواهد — من تن و بال تنک چون پر کاهی دارم»

۱)کنایه-تضاد-تلمیح
۲) کنایه-تشبیه-تضمین
۳) تشبیه- جناس- تضاد
۴) تلمیح-تشبیه-جناس

۱۷- بیت زیر؛ با کدام بیت ، قرابت مفهومی دارد؟

« در باب کنون که نعمت هست به دست — کاین دولت و ملک می رود دست به دست»

۱) توانگرا چو دل و دست کامرانت هست — بخور، ببخش که دنیا و آخرت بردی
۲)توانگران که به جنب سرای درویشند — ضرورت است که گاهی از او بیندیشند
۳) هزاران توان یافت خنجر به داشن — یکی علم نتوان گرفتن به خنجر
۴) توانگر شد آن کس که خرسند گشت — ازو آز و تیمار در بند گشت

۱۸- بیت زیر با کدام بیت،قرابت معنایی دارد؟

« من تو را مان به عینه تو مرا مانی درست — هر دو جانسوزسم اما دوستار انجمن»

۱) ران جا که رسم و عادت عاشق کشی توست — با دشمنان قدح کش و با ما عتاب کن
۲) سوختم تا گرم شد هنگامه دل ها ز من — بر جهان بخشودم و بر خود نبخشودم چو شمع
۳) ذره خاکم و در کوی توام جای خوش است — ترسم ای دوست که بادی ببرد ناگاهم
۴) به نیم بوسه دعایی بخر ز اهل دلی — که کید دشمنت از جان و جسم دارد باز

۱۹- کدام بیت ؛ فاقد مفهوم عبارت زیر است؟« با بی خردان هرگز دوستی مکن که دوست بی خرد از دشمن باخرد بتر بود»

۱) خصم دانا که دشمن جان است / بهتر از دوستی که نادان است

۲) ز نادان نیابی جز از بدتری / نگر سوی بی دانشان ننگری

۳) دوستی ابله بتر از دشمنی است / او به هر حیله که دانی راندنی است

۴) دوست خواهی که تا بماند دوست / آن سخن گو که طبع و عادت اوست

۲۰- کدام بیت ؛ با بیت زیر، ارتباط مفهومی دارد؟

« حجاب راه تویی حافظ از میان برخیز / خوشا کسی که در این راه بی حجاب رود»

۱) زهستی پری زان تهی می روی / تهی آی تا پر معانی روی

۲) چشمت به غمزه خانه مردم خراب کرد / مخموریت مباد که خوش مست می روی

۳) ای نسیم کوی معشوق این چه باد خرم است / تا کجا بودی که جانم تازه می گردد به بوی

۴) گر بیارید کلید همه درهای بهشت / جان عاشق به تماشاگه رضوان نرود

۲۱-کدام عبارت، نیاز به ویرایش دارد؟

۱) برای نوشتن مقاله، نخست باید موضوع مناسب و جالبی را پیدا کرد.

۲) وقتی شما یکی از روزنامه های عصر را باز می کنید، ده ها مقالهٔ کوتاه و بلند در آن می بینید.

۳) با شعارهای روزنامه نویسان و فرمایشات خطیبان حرفه ای هیچ کاری نمی توان انجام داد.

۴) آثار ادبی ایران، آیینه اندیشه ها، باورها، هنرمندی ها و عظمت روحی و معنوی ملّت ایران است

۲۲- در کدام عبارت «کژتابی» وجود دارد؟

۱) با خواندن هر متن داستانی، باید به درون مایه و محتوای آن بیندیشیم.

۲) دخترک مانند پدرش، تصویری از چهره مادرش کشید.

۳) جوانان نیک بخت، اندرز خیرخواهان را می پذیرند.

۴) ادبیات داستانی، همه آثار روایی را دربر می گیرد.

۲۳- ساختمان واژه ای کدام گروه ، متفاوت است؟

۱)سروستان-لارستان ۲)گلستان-بهارستان

۳)هنرستان-نیستان ۴)دادستان-جان ستان

۲۴-مفهوم کدام بیت، با سایر ابیات متفاوت است؟

۱)کنون باید این مرغ را پای بست / نه آن گه که سررشته بردت زدست

۲)سرگرگ باید هم اول برید / نه چون گوسفندان مردم درید

۳)مگو مرغ دولت زبندم بچست / هنوزش سررشته داری به دست

۴)کنون کوش کاب از کمر درگذشت / نه وقتی که سیلابت از سر گذشت

۲۵-بیت زیر با کدام بیت قرابت معنایی دارد؟

« حجاب چهره جان می شود غبار تنم خوشا دمی گه از آن چهره پرده برفکنم»

۱)دل رمیده ما را که پیش می گیرد خبر دهید به مجنون خسته از زنجیر

۲)میان عشق و معشوق هیچ حایل نیست تو خود حجاب خودی حافظ از میان برخیز

۳)گداخت جان که شود کار دل تمام و نشد بسوختیم در این آرزوی خام و نشد

۴)یاری اندر کس نمی بینم یاران را چه شد دوستی کی آخر آمد دوستدارا را چه شد

۲۶-کدام عبارت به ویرایش نیاز دارد؟

۱)استاد، با او دیدار کرد و به گفتگو نشست.

۲)صائب، بزرگ ترین شاعر سبک هندی به شمار می آید.

۳)نتایجی را که امروز به دست آمد، گزارش می کنم.

۴)وظیفه خود را به عنوان داور، انجام می دهد.

۲۷- در کدام گروه از واژه ها، پدیده «ابدال» صورت می گیرد؟

۱)بدو-می بخشد-اجتماع ۲)شنبه-برمی خیزد-آیین

۳)نامه-نمی آید-سنبل ۴)سپید-نگفت-برو

۲۸-ساختمان واژه های کدام گروه یکسان هستند؟

۱)با ایمان-بی علاقه-ناکام ۲)کردار-جویا-باغبان

۳)نادار-تهران-خیاطی ۴)لاله زار-خیریه-عروسک

۲۹- با توجه به بیت زیر، معنی «قدوم» در مصراع اول و «گوهر» در مصراع دوم کدام است؟

«زرش داد و گوهر به شکر قدوم بپرسیدش از گوهر و زاد بوم»

۱)آمدن- خاندان ۲)قدم ها- سرزمین

۳) گام ها- اصل ونسب ۴)گام ها- جواهر

۳۰-کدام گروه کلمه ها، فاقد «غلط املایی» است؟

۱) جملات تأثیر گزار- افراط و تفریط – سلامت و روانی

۲)حظّ زیباشناسی – بیت معمور ادب- مظهر اعتدال

۳)اغتنام فرصت – حسن خطام – مخلّ اعتدال

۴)مدح و زم – تفقد و دل جویی – آرایش صُوری

۳۱- در کدام عبارت ،املای «گزاردن» غلط است؟

۱) هرکه صلت دهد حق مهتری گزارد.

۲)از قضا عفو خواست و به حج رفت و حج گزارد.

۳)فرمانی که خدای تعالی بر تو کرده بود؛ نگزاردی.

۴) دوستی را که به عمری فرا چنگ آرند به یک خطا نگزارند.

۳۲- در بیت زیر، کدام واژه «ایهام» دارد؟

« چشم چپ خویشتن بر آرم تا روی نبیندت به جز راست»

۱) چشم
۲) راست
۳) چپ
۴) روی

۳۳-آرایه های بیت زیر ، کدام اند؟

« آن کس که به دینار و درم خیر نیندوخت سر عاقبت اندر سر دینار و درم کرد»

۱)جنس تام – مجاز
۲)کنایه- تشبیه
۳) تشبیه- استعاره
۴) تلمیح-کنایه

۳۴- با توجه به بیت زیر؛ مفهوم کنایی «دم در کشیدن» چیست؟

« دمادم *شراب الم در کشند* وگر تلخ بینند دم درکشن»

۱)نفس کشیدن
۲)سکوت کردن
۳)زبان باز کردن
۴)بازدم کردن

۳۵- کدام بیت، بیانگر مفهوم « کم گوی و گزیده گوی چون دُر» است؟

۱) تا ندانی که سخن عین صواب است مگوی و آن چه دانی که نه نیکوش جوابست مگوی
۲) دین وزر و معرفت که سخندان سجع گوی بر در سلاح دارد و کس در حصار نیست
۳) سخن گفت و دامان گوهر فشاند به نطقی که شاه آستین برفشاند
۴) زصاحب غرض تا سخن نشنوی که گر کار بندی پشیمان شوی

۳۶- در عبارت زیر ، بعد از «دید»، کدام علامت نگارشی، کاربرد دارد؟

« هنگام نگارش باید خوب دید یعنی، دقت داشت و هوشیار بود.»

۱)ویرگول(،)
۲) نقطه ویرگول(؛)
۳) دو نقطه(:)
۴) نقطه (.)

۳۷-مفهوم کدام بیت، با سایر ابیات متفاوت است؟

۱)کنون باید این مرغ را پای بست نه آن گه که سررشته بردت زدست
۲)سرگرگ باید هم اول برید نه چون گوسفندان مردم درید
۳)مگو مرغ دولت زبندم بچست هنوزش سررشته داری به دست
۴)کنون کوش کاب از کمر درگذشت نه وقتی که سیلابت از سر گذشت

۳۸-بیت زیر با کدام بیت قرابت معنایی دارد؟

« حجاب چهره جان می شود غبار تنم خوشا دمی گه از آن چهره پرده برفکنم»

۱)دل رمیده ما را که پیش می گیرد خبر دهید به مجنون خسته از زنجیر
۲)میان عشق و معشوق هیچ حایل نیست تو خود حجاب خودی حافظ از میان برخیز
۳)گداخت جان که شود کار دل تمام و نشد بسوختیم در این آرزوی خام و نشد
۴)یاری اندر کس نمی بینم یاران را چه شد دوستی کی آخر آمد دوستدارا را چه شد

۳۹-کدام عبارت به ویرایش نیاز دارد؟

۱)استاد، با او دیدار کرد و به گفتگو نشست.
۲)صائب، بزرگ ترین شاعر سبک هندی به شمار می آید.
۳)نتایجی را که امروز به دست آمد، گزارش می کنم.
۴)وظیفه خود را به عنوان داور، انجام می دهد.

۴۰- در کدام گروه از واژه ها، پدیده «ابدال» صورت می گیرد؟

۱)بدو-می بخشد-اجتماع
۲)شنبه-برمی خیزد-آیین
۳)نامه-نمی آید-سنبل
۴)سپید-نگفت-برو

۴۱-ساختمان واژه های کدام گروه یکسان هستند؟

۱)با ایمان-بی علاقه-ناکام
۲)کردار-جویا-باغبان
۳)نادار-تهران-خیاطی
۴)لاله زار-خیریه-عروسک

«توجه مهم»

جهت تهیه و دانلود بسته کامل نمونه سوالات استخدامی به همراه پاسخنامه

به آدرس زیر مراجعه بفرمایید:

اینجا کلیک نمایید

بخش سوم:

معارف اسلامی

۴۲- اگر متغلق شناخت علم حضوری؛خدا و امور مرتبط به ان باشد، آن را چه می گویند؟

۱)حکمت عملی ۲)دریافت درونی
۳)جکمت نظری ۴)شهود عرفانی

۴۳-کدام یک از متعلقات ایمان،از اهمیت ویژه ای برخوردار هستند؟

۱)ایمان به قرآن؛خدا و معاد ۲)ایمان به خدا، رسالت و معاد
۳)ایمان به خدا،رسالت و امامت ۴)ایمان به قرآن،خدا و پیامبر

۴۴-عبارت زیر ؛بیانگر کدام یک از راه های شناخت صفات الهی است؟

«از انسجام و وحدت حاکم بر جهان هستی ؛می توان به وحدت حالق و ناظم پی برد.»

۱)استدلا عقلی ۲)کشف وشهود
۳)توفیقی بودن اسماء ۴)سیر در آفاق و انفس

۴۵-معنای «حکیم بودن خداوند» ؛در کدام مورد آمده است؟

۱)کلیه افعال خدا هدفدار است. ۲)کلیه اعمال انسان تحت کنترل اوست.
۳) همه موجودات را یکسان آفریده است. ۴)هیچ تفاوتی در آفرینش انسان ها وجود ندارد.

۴۶- عبارت زیر، ناظر بر کدام قسم از اقسام عدل است؟

«خداوند به اندازه ظرفیت و شایستگی هر شیء به او وجود و کمال افاضه کرده است.»

۱)تکلیفی ۲)تشریعی
۳)تکوینی ۴)جزایی

۴۷-از آیه شریفه (ان الله لایغیر ما بقوم حتی یغیرو ما بانفسهم)،کدام مفهوم دریافت می شود؟

۱)دلیل ناخوش دانستن برخی امور؛ناشی از عدم شناخت جامع و کامل است.
۲)بسیاری از ابهامات و ناسازگاری ها در جامعه، از ضعف علمی و جهل ما سرچشمه گرفته است.
۳)بسیاری از درد و رنج هایی که از ستمگران به مردم می رسند،نتیجه عملکرد خود مردم هستند.
۴)انسان بسیاری از امور را شر می پندارد به این دلیل که برای او خوشایند نیست.

۴۸-تاریخ انبیاء نشان می دهد که مسئله توحید در خالقیت ؛مورد مناقشه امت ها نبوده است.اگر شرکی در کار بوده ،بیشتر مربوط به کدام بعد است؟

۱)ذاتی ۲)ربوبی
۳)عبادی ۴)صفاتی

۴۹-انبیاء الهی وظیفه دارند با بشارت و انذار،حجت را بر مردم تمام کنن تا چه امری محقق شود؟

۱)را هرگونه بانه و عذری بر مردم بسته شود. ۲)راه شرک و کفر در جامعه مسدود شود.
۳)کتاب و حکمت را به مردم بیاموزند تا هدایت شوند. ۴)قسط و عدل را درجامعه بشری جاری کنند.

۵۰-شرط پذیرفته شدن نماز چیست؟

۱)دوری از گناه ۲)اطاعت پذیری

۳)اخلاص در نماز ۴)آرامش روحی

۵۱- آیه شریفه (افحسبتم انما خلقناکم عبثاً و انکم الینا لا ترجعون) ؛ بیانگر کدام برهان عقلی معاد است؟

۱)معقولیت ۲)عدالت

۳)فطرت ۴)حکمت

۵۲-از دیدگاه قرآن کریم؛معاد به کدام معناست؟

۱)فقط محشور شدن روح مجرد ؛بعد مرگ و در قیامت

۲)برانگیخته شدن دوباره روح و جسم با هم

۳)به محشر گام ننهادن بدنی که روح به آن تعلق داشته

۴)متعلق پاداش و کیفر قرار گرفتن بدن یا روح؛به تنهایی

۵۳- از آیه شریفه (حتی اذا جاء احدهم الموت قال رب ارجعون لعلی اخمل صالحاً فی ما ترکت)، کدام مفهوم دریافت می شود؟

۱)هنگام مرگ ؛حجاب های مادی از دیگان برداشته می شود و آدمی می تواند از سرنوشت خود آگاه گردد.

۲)هنگامی که مرگ یکی از مومنان فرا می رسد می گوید:پروردگارا مرا بازگردان تا عمل صالح بیشتری انجام دهم.

۳)اولین مرحله پاداش و جزا از عالم مرگ برای انسان شروع می شدو و همه اعمال او مود بازخواست قرار می گیرد.

۴)در عالم مرگ ؛فعالیت های آگاهانه روح و جسم ادامه پیدا می کند و پرونده اعمال انسان بسته نمی شود.

۵۴-با توجه به آیه شریفه (و لقد بعثنا فی کل امهٍ رسولاً.....) ،مهم ترین هدف انبیای الهی چیست؟

۱)به کمال رساندن فضایل اخلاقی ۲)دعوت به توحید و پرهیز از شرک

۳)برپایی قسط وعدل در جامعه ۴) آشنا کردن مردم با حکمت الهی

۵۵- پیام آیه شریفه (یا ایّها النّاس انتم فقراء الی الله و الله هو الغنی الحمید)، چیست؟

۱) وجود ممکنات، وابسته به خداست.

۲) خداشناسی مقدمه خودشناسی است.

۳)خودشناسی مقدمه محبت

۴) همه موجودات در مرحله پیدایش، نیازمند به خدایند.

۵۶-عبارت « خداوند سمیع و بصیر است» ؛بیانگر کدام صفت خداوند است؟

۱) حیات الهی که از صفات ذات است ۲)علم الهی که از صفات ذات است

۳) حیات الهی که از صفات فعل است. ۴)علم الهی که از صفات فعل است

۵۷- قرآن کریم؛ غایت آفرینش ادمی را چه می داند و تجلی آن ، کدام است؟

۱) وصول به مقام عبودیت- توحید ۲) وصول به مقام عبودیت- نماز

۳)ایصال به کمال مطلوب- نماز ۴)ایصال به کمال- توحید

۵۸- ترجمه آیه شریفه « هرکس به احکامی که خدا نازل کرده است، حکم نکند، ستمگر است» ، بیانگر کدام مرتبه از مراتب توحید است؟

۱) تکوین ۲)حاکمیت

۳)ذاتی ۴)ربوبیت

۵۹- عبارت ﴿ لاحول و لا قوه الا بالله العلی العظیم﴾، بیانگر کدام مرتبه توحید است؟

۱)افعالی ۲) صفاتی

۳) ذاتی ۴) عبادی

۶۰- با توجه به آیه شریفه زیر؛ کدام مطلب برای همیشه از شکاکان نوبت پیامبر اسلام (ص) سلب شده است؟

﴿ وَإِنْ كُنْتُمْ فِي رَيْبٍ مِمَّا نَزَّلْنَا عَلَى عَبْدِنَا فَأْتُوا بِسُورَةٍ مِنْ مِثْلِهِ وَادْعُوا شُهَدَاءَكُمْ مِنْ دُونِ اللَّهِ إِنْ كُنْتُمْ صَادِقِينَ﴾

۱) راستگو بودن در ادعایشان ۲) قدرت وتوان آوردن سوره ای مثل قرآن

۳)قدرت وتوان جمع آوری گواهان ۴) تقوی و پرهیز از نافرمانی خدا

۶۱- قرآن کریم، کدام عبادت را در بسیاری از موارد، پس از برپا داشتن نماز؛ تاکید کرده است و شرایط آن کدام است؟

۱) خمس؛ اگر سرمایه و اموالش بعد از یکسال ، مشمول خمس شوند.

۲) خمس؛ اگر با حفظ حرمت شخص پرداخت کننده، دریافت شود.

۳) زکات؛ اگر با حفظ حرمت شخص پرداخت کننده، دریافت شود.

۴)زکات؛ اگر اموال نه گانه به حدّنصاب معینی برسد.

۶۲- با توجه به آیات قرآن کریم و روایات اسلامی که عامل اصلی گناه را «خود انسان» معرفی می کند؛ منظور از «خود» کدام است؟

۱) روحانی است که که همراه با تغییر و تحول است. ۲) جسمانی است که مصون از استهلاک می باشد

۳) روحانی است که مصون از استهلاک می باشد ۴)جسمانی است که همراه با تغییر و تحول است.

۶۳- آیه شریفه (مِنْها خَلَقْناكُمْ وَ فِيها نُعِيدُكُمْ وَ مِنْها نُخْرِجُكُمْ تارَةً أُخْرى)، در پاسخ چه کسانی است؟

۱)شبه قدرت فاعل ۲)منکرین معاد جسمانی

۳) شبه علم فاعل ۴) منکرین تجرد روح

۶۴- با توجه به ایه شریفه (کتب علیکم اذا حضر احدکم الموت ان ترک خیراً .....) ، هر مسلمانی قبل از اینکه مرگش فرا برسد؛ چه عملی را باید انجام دهد؟

۱)از درگاه خداوند طلب مغفرت نماید. ۲) از بستگان خود، طلب حلالیت کند.

۳)ذکر و یاد خدواند و استغفار نماید. ۴)اگر مالی از خود بر جای گذاشته؛ وصیت کند.

۶۵- ریشه بحران اخلاقی انسان مدرن؛ در کدام مورد است؟

۱)غفلت از ساحت غیر مادی انسان و فضایل فطری و عدم توجه به خدا و تعالیم پیامبران الهی

۲) غفلت از ارزش های اخلاقی و فضایل انسانی و فطری و عدم انگیزه عمل به دستورهای الهی

۳) عدم شناخت راه های زندگی سعادتمند و وجود اضطراب ها و فشارهای روانی و پوچ گرایی

۴) عدم شناخت راه های زندگی سعادتمند و غفلت از ارزش های اخلاقی و فضایل انسانی

۶۶- با توجه به آیه شریفه (الله یتوفی الانفس حین موتها)؛ کلمه «توفی» به کدام معناست؟

۱) پس از آفرینش بدن که در حدّ اعتدال است؛خدا روحی در آن بدن می دمد.

۲) فرشته مرگ، حقیقیت انسان که روح و جسم است را بطور تمتم دریافت می کند.

۳) حقیقت انسان، همان روح است که قابض الارواح، به طور تمام آن را می ستاند.

۴) انسان دارای دو ساحت روح و بدن است که هنگام مرگ، تمام آنها ستانده می شوند.

۶۷- کدام آیهٔ شریفه، ما را متوجه حقیقت زیر می کند؟

« انسان ها در هنگام مواجه با حوادٍ بسیار سخت، با همه وجود، به سوی خدای خویش متوجه می شوند و از او کمک می خواهند.»

۱) (یا ایها النّاس انتم الفقراء إلی الله و الله هو الغنی)

۲) (فاذا رکبو فی الفلک دعوا الله مخلصین له الدین)

۳) (افحسبتم انما خلقناکم عبثاً و انّکم الینا لایرجعون)

۴) (و فی الرض آیات للموقنین و فی انفسکم افلا تبصرون)

۶۸- قرآن به پیامبر گرامی اسلام (ص) می فرماید :« پس تذکر ده که تو تناپها تذکر دهنده ای».از این مورد کدام مفهوم دریافت می شود؟

۱) هرکس در فطرت خویش ؛ به خداوند شناخت و معرفت دارد.

۲)انبیای الهی آمده اند تا به انسان بگویند:« خدا وجود دارد».

۳) خداجویی و خداپرستی، از گرایش دورنی انسان به خدا حکایت می کند.

۴) تمام کسانی که در آسمان ها و زمین هستند، از خداوند اطاعت می کنند.

۶۹- ملاک احتیاج معلول به علت ، کدام است؟

۱) تغییر پذیری معلول ۲) وابستگی به غیر

۳) فقر وجودی علت ۴) فقر وجودی معلول

۷۰- اراده تشریعی الهی، به کدام معناست؟

۱) اگر خداوند امری را اراده کند، بالضروره تحقق می یابد.

۲) از رابطه خاص خدا با برخی افعال اختیاری انسان سرچشمه می گیرد.

۳) رابطه خاص خدا با انسان هاست که امکان تخلف اراده از مراد وجود ندارد.

۴) اعمال قدرت و حاکمیت خدواند است که از رابطه خدا با مخلوقات سرچشمه می گیرد.

۷۱- با توجه به اینکه هرچیزی از خدا صادر می شود، خیر است، چرا خدواند مانع شر در عالم نشد تا جهانی که خیر محض است، محقق شود؟

۱) زیرا شر، ناشی از جزئی نگری است. ۲) زیرا شر، ناشی از جهل انسان است.

۳) چون شر، لازمه جهان مادی است. ۴) چون شر، ناشی از آزادی انسان است.

۷۲- ترجمهٔ آیهٔ شریفهٔ « آیا مردم گمان کردن که همین که بگویند: ایمان اوردیم، به حال خود رها می شوند و آزمایش نخواهند شد؟ »، بیانگر کدام مفهوم است؟

۱) خداوند ، بندگانش را با مصیبت ها و سختی ها می آزماید تا مؤ منان راستین، بازشناخته گردند.

۲) بلا وسختی برای دوستان و بندگان خاص خدا، لطفی است که به صورت مصیبت جلوه می نماید.

۳) شرور، عاملی برای عبرت آموزی انسان است تا شاید پند گیرد و به راه راست هدایت شود.

۴) وجود سختی ها و امتحانات ، برای تکامل روحی، معنوی و علمی انسان سودمند است.

۷۳- اگر متغلق شناخت علم حضوری؛خدا و امور مرتبط به ان باشد، آن را چه می گویند؟

۱)حکمت عملی ۲)دریافت درونی

۳)جکمت نظری ۴)شهود عرفانی

۷۴-کدام یک از متعلقات ایمان،از اهمیت ویژه ای برخوردار هستند؟

۱)ایمان به قرآن؛خدا و معاد ۲)ایمان به خدا، رسالت و معاد

۳)ایمان به خدا،رسالت و امامت ۴)ایمان به قرآن،خدا و پیامبر

۷۵-عبارت زیر ؛بیانگر کدام یک از راه های شناخت صفات الهی است؟

«از انسجام و وحدت حاکم بر جهان هستی ؛می توان به وحدت حالق و ناظم پی برد.»

۱)استدلا عقلی ۲)کشف وشهود

۳)توفیقی بودن اسماء ۴)سیر در آفاق و انفس

۷۶-معنای «حکیم بودن خداوند» ؛در کدام مورد آمده است؟

۱)کلیه افعال خدا هدفدار است. ۲)کلیه اعمال انسان تحت کنترل اوست.

۳) همه موجودات را یکسان آفریده است. ۴)هیچ تفاوتی در آفرینش انسان ها وجود ندارد.

۷۷- عبارت زیر، ناظر بر کدام قسم از اقسام عدل است؟

«خداوند به اندازه ظرفیت و شایستگی هر شیء به او وجود و کمال افاضه کرده است.»

۱)تکلیفی ۲)تشریعی

۳)تکوینی ۴)جزایی

۷۸-از آیه شریفه (ان الله لایغیر ما بقوم حتی یغیرو ما بانفسهم)،کدام مفهوم دریافت می شود؟

۱)دلیل ناخوش دانستن برخی امور؛ناشی از عدم شناخت جامع و کامل است.

۲)بسیاری از ابهامات و ناسازگاری ها در جامعه، از ضعف علمی و جهل ما سرچشمه گرفته است.

۳)بسیاری از درد و رنج هایی که از ستمگران به مردم می رسند،نتیجه عملکرد خود مردم هستند.

۴)انسان بسیاری از امور را شر می پندارد به این دلیل که برای او خوشایند نیست.

۷۹-تاریخ انبیاء نشان می دهد که مسئله توحید در خالقیت ؛مورد مناقشه امت ها نبوده است.اگر شرکی در کار بوده ،بیشتر مربوط به کدام بعد است؟

۱)ذاتی ۲)ربوبی

۳)عبادی ۴)صفاتی

۸۰-انبیاء الهی وظیفه دارند با بشارت و انذار،حجت را بر مردم تمام کنن تا چه امری محقق شود؟

۱)را هرگونه بانه و عذری بر مردم بسته شود. ۲)راه شرک و کفر در جامعه مسدود شود.

۳)کتاب و حکمت را به مردم بیاموزند تا هدایت شوند. ۴)قسط و عدل را درجامعه بشری جاری کنند.

۸۱-شرط پذیرفته شدن نماز چیست؟

۱)دوری از گناه ۲)اطاعت پذیری

۳)اخلاص در نماز ۴)آرامش روحی

۸۲- آیه شریفه (قال فبعزتک لاغوینهم اجمعین الاّ عبادک منهم المخلصین) ؛ بیانگر کدام ویژگی پیامبران است؟

۱) معجزه ۲)عصمت

۳) علم الهی ۴) وحی

۸۳- آیه شریفه (لو کان فیهما الهه الاّ الله لفسدتا)، بیانگر کدام بعد از ابعاد در توحید است؟

۱) توحید در ربوبیت ۲)توحید در مالکیت

۳)توحید در عبادت ۴)توحید در خالقیت

۸۴- آیه شریفه (ربنا انی اسکنت من ذریتی بواد ذی زرع عند بیتک المحرّم)، کدام وظیفه را بر دوش فرزندان حضرت ابراهیم (ع) قرار داد؟

۱)ساختن کعبه ۲) اقامه نماز

۳)اقامه عدل ۴)یاد خداوند

۸۵- از ترجمه آیه شریفه « برای هر ملتی اجلی است ، که چون فرا رسد نه ساعتی ان را پس اندازد و نه پیش»، کدام مفهموم دریافت می شود؟

۱) انسان هایی که در جامعه ظلم و ستم می کنند، از کیفر اعمال خویش می هراسند.

۲) اگر در جامعه امر به معرفو و نهی از منکر ترک شود، بد وخوب با هم هلاک می شوند.

۳)مرگ جامعه، بر اثر ظلم و ستم و گناه و نافرمانی از خدا پیش می آید.

۴) بسیاری از انسان ها که از حقیقیت مرگ بی خبرند؛ از گناهان خویش بیم دارند.

۸۶- از آیه شریفه (وابتع فیما اتاک الله الدّار الاخره و لاتنسی نصیبک من الدّنیا)، کدام مفهوم دریافت می شود؟

۱)همه مردم در برابر قاون و اجرای آن برابرند و هیچ تفاوتی میانطبقات اجتماعی نیست.

۲)وظیفه حاکم اسلامی این است که در تمامی ارکان حکومت اسلامی برپایه عدل نماید.

۳)هرکس به اندازه کوشش خود حف دارد از منافع مادی زندگی بهره مند گردد.

۴) هنگامی که به آخرت توجه می کنید؛ نباید به گونه ای باشد که از دنیا رویگردان شوید.

۸۷- آیه شریفه (افحسبتم انما خلقناکم عبثاً و انکم الینا لا ترجعون) ؛ بیانگر کدام برهان عقلی معاد است؟

۱)معقولیت ۲)عدالت

۳)فطرت ۴)حکمت

۸۸-از دیدگاه قرآن کریم؛معاد به کدام معناست؟

۱)فقط محشور شدن روح مجرد ؛بعد مرگ و در قیامت

۲)برانگیخته شدن دوباره روح و جسم با هم

۳)به محشر گام ننهادن بدنی که روح به آن تعلق داشته

۴)متعلق پاداش و کیفر قرار گرفتن بدن یا روح؛به تنهایی

۸۹- از آیه شریفه (حتی اذا جاء احدهم الموت قال رب ارجعون لعلی اخمل صالحاً فی ما ترکت)، کدام مفهوم دریافت می شود؟

۱)هنگام مرگ ؛حجاب های مادی از دیگان برداشته می شود و آدمی می تواند از سرنوشت خود آگاه گردد.

۲)هنگامی که مرگ یکی از مومنان فرا می رسد می گوید:پروردگارا مرا بازگردان تا عمل صالح بیشتری انجام دهم.

۳)اولین مرحله پاداش و جزا از عالم مرگ برای انسان شروع می شدو و همه اعمال او مود بازخواست قرار می گیرد.

۴)در عالم مرگ ؛فعالیت های آگاهانه روح و جسم ادامه پیدا می کند و پرونده اعمال انسان بسته نمی شود.

۹۰-با توجه به آیه شریفه (و لقد بعثنا فی کل امهٍ رسولاً.....) ،مهم ترین هدف انبیای الهی چیست؟

۱)به کمال رساندن فضایل اخلاقی ۲)دعوت به توحید و پرهیز از شرک

۳)برپایی قسط وعدل در جامعه ۴) آشنا کردن مردم با حکمت الهی

۹۱- با توجه به آیات قرآن کریم و روایات اسلامی که عامل اصلی گناه را «خود انسان» معرفی می کند؛ منظور از «خود» کدام است؟

۱) روحانی است که که همراه با تغییر و تحول است. ۲) جسمانی است که مصون از استهلاک می باشد

۳) روحانی است که مصون از استهلاک می باشد ۴)جسمانی است که همراه با تغییر و تحول است.

۹۲- با توجه به ایه شریفه (کتب علیکم اذا حضر احدکم الموت ان ترک خیراً .....) ، هر مسلمانی قبل از اینکه مرگش فرا برسد؛ چه عملی را باید انجام دهد؟

۱)از درگاه خداوند طلب مغفرت نماید. ۲) از بستگان خود، طلب حلالیت کند.

۳)ذکر و یاد خدواند و استغفار نماید. ۴)اگر مالی از خود بر جای گذاشته؛ وصیت کند.

«توجه مهم»

جهت تهیه و دانلود بسته کامل نمونه سوالات استخدامی به همراه پاسخنامه

به آدرس زیر مراجعه بفرمایید:

اینجا کلیک نمایید

بخش چهارم

ریاضی و آمارمقدماتی

۹۳- در یک دنباله حسابی جمله اول و قدر نسبت با هم برابرند.اگر جمله ششم ۳۰ باشد ؛مجموع بیست جمله اول این دنباله کدام است؟

۱) ۱۱۵۰

۲) ۱۱۰۰

۳) ۱۰۵۰

۴) ۱۰۰۰

۹۴-محیط یک مستطیل ۸۰ واحد است. اگر از طول آن ۶ واحد کم کنیم یک مربع حاصل می شود.اندازه ضلع بزرگ مستطیل کدام است؟

۱) ۱۱

۲) ۱۷

۳) ۲۳

۴) ۲۹

۹۵-اگر α و β ریشه های معادله $x^2-7x+2=0$ باشند، حاصل $(\alpha^2-5\alpha+3)(\beta^2-5\beta+3)$ کدام است ؟

۱) ۲۲

۲) ۲۳

۳) ۳۲

۴) ۳۳

۹۶- حاصل عبارت $\frac{1+t+t^2+\cdots+t^8}{1+t^3+t^6}$ به ازای $t=\frac{\sqrt{5}-1}{2}$، کدام است؟

۱) ۲,۵

۲) ۱

۳) ۱,۵

۴) ۲

۹۷- دامنه وبرد تابع y=f(x)، به ترتیب بازه های [-2,4] و [-5,3] است.برد تابع g(x)=2f(x+3) -1، کدام است؟

۱) [-1,1.5]

۲) [-5,5]

۳) [-5,7]

۴) [1,13]

۹۸-مجموعه جواب نامعادله $x-1\le\frac{2x+7}{x+1}+\frac{x^2-4}{2+x-x^2}$ ، شامل چند عدد طبیعی است؟

۱) ۱

۲) ۲

۳) ۳

۴) ۴

۹۹- اگر $A2+B2=\begin{bmatrix}7 & 6\\ 6 & 10\end{bmatrix}$ و $A+B=\begin{bmatrix}3 & 2\\ 2 & 3\end{bmatrix}$ باشد، حاصل AB+BA کدام است؟

۱) $\begin{bmatrix}6 & 1\\ 6 & 1\end{bmatrix}$

۲) $\begin{bmatrix}6 & 4\\ 6 & 4\end{bmatrix}$

۳) $\begin{bmatrix}4 & 4\\ 4 & 7\end{bmatrix}$

۴) $\begin{bmatrix}6 & 6\\ 6 & 3\end{bmatrix}$

۱۰۰- در شکل زیر، طول ضلع مربع های کوچک واحد است.تانژانت زاویه A، کدام است؟

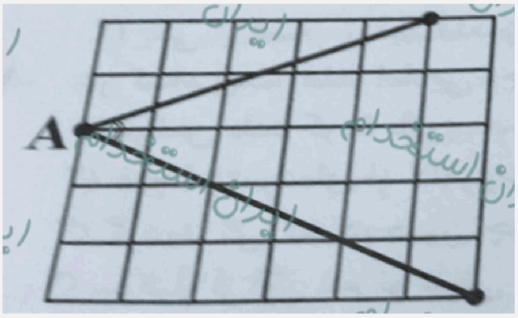

۱) $\frac{10}{9}$

۲) $\frac{9}{8}$

۳) $\frac{8}{7}$

۴) $\frac{7}{8}$

۱۰۱- جدول زیر، فراونی نسبی مراجعات به اورژانس یک بیمارستان در ۱۲۰ روز را نشان می دهد.در چند روز تعداد مراجعات کمتر از ۴ مورد است؟

تعداد در یک روز	۰	۱	۲	۳	۴
فروانی نسبی	۰,۲	۰,۱	۰,۲۵	X	۰,۳

۱) ۳۶

۲) ۷۲

۳) ۸۴

۴) ۹۶

۱۰۲- داده های ۱۱و۱۶و۱۸و۱۸و۱۰و۱۴و۷,۵و۴و۳و۱۳,۵و۹ در نمودار جعبه ای نمایش داده می شود.طول دامنه میان چارکی کدام است؟

۱) ۸,۵

۲) ۹,۵

۳) ۱۲

۴) ۱۵

۱۰۳- میانگین و انحراف معیار ۶ داده آماری به ترتیب ۱۰ و ۲ است.اگر به همه داده ها ۶ واحد اضافه کنیم،ضریب تغییرات به چه میزانی تغییر می کند؟

۱) +۰,۱۲۵

۲) -۰,۱۲۵

۳) +۰,۰۷۵

۴) -۰,۰۷۵

«توجه مهم»

جهت تهیه و دانلود بسته کامل نمونه سوالات استخدامی به همراه پاسخنامه

به آدرس زیر مراجعه بفرمایید:

اینجا کلیک نمایید

بخش پنجم:

زبان انگلیسی– عمومی

PART A: GRAMMAR & VOCABULARY

DIRECTIONS: CHOOSE THE WORD OR PHRASE (1), (2), (3) OR (4) THAT BEST COMPLETES EACH SENTENCE. THEN MARK THE CORRECT CHOICE ON YOUR ANSWER SHEET.

105-.....THE PROBLEM, HE WOULD NOT HAVE COMMITTED THOSE SILLY MISTAKES.

1)HAD TERRY UNDERSTOOD 2)WHETHER TERRY UNDERSTOOD
3)IF TERRY HAS UNDERSTOOD 4)SHOULD TERRY UNDERSTOOD

106- WHILE THERE ARE MANY HYPOTHESES ABOUT ATLANTIS, BUT THE VAST MAJORITY OF SCIENTISTS.....
ATLANTIS NEVER EXISTED.

1)CONCLUDE THAT IS 2)CONCLUDE THAT
3)THAT CONCLUDE 4)THEY CONCLUDE THAT

107-AMONG CHARITY ORGANIZATIONS EXISTING CURRENTLY,.....TAKES ITS MISSION SO SERIOUSLY THAT
IT SEES ITSELF AS A MILITARY UNIT ON DUTY.

1)THAT ONE THERE IS 2)IT IS ONE THAT IT
3)THERE IS ONE THAT 4)THAT THERE IS ONE IT

108-POSITIVE THINKING CAN BE HELPFUL, BUT WHEN .....BY A REALISTIC ASSESSMENT OF A PERSON`S
SITUATION, IT CAN ALSO BE HARMFUL.

1)IT HAS NOT BALANCED 2)NOT BALANCED
3)IT DID NOT BALANCED 4)NOT BALANCING

109-JEREMY PUT IN EXTRA HOURS THIS AFTERNOON TO .....FOR HIS LATE ARRIVAL TO WORK THIS MORNING.

1)COLLABORATE 2)ALLEVIATE
3)ACCELERATE 4)COMPENSATE

110- I WOULD NOT HAVE BEEN ABLE TO..... MY ACADEMIC GOALS WITHOUT THAT SUPPORT AND
GUIDANCE OF MY PROFESSORS.

1)ATTAIN 2)ASSIST
3)ASSIGN 4)ANNEX

111-SINCE TOM NEVER WEARS SHOES, IT WAS .....THAT HE WOULD GET A PIECE OF GLASS IN HIS FOOT.

1)FASHIONABLE 2)PROFITABLE
3)CAPABLE 4)INEVITABLE

112-AS A RESULT OF ....., AN ITEM THAT USED TO COST EIGHTY CENTS NOW COST ON DOLLAR
AND FIFTY CENTS.

1)INSTRUCTION 2)INHIBITION
3)INFLATION 4)INSPECTION

PART B: READING COMPREHENSION

DIRECTIONS: READ THE FOLLOWING PASSAGE AND SELECT THE CHOICE (1), (2), (3) OR (4) THAT BEST ANSWERS EACH QUESTION. THEN MARK THE CORRECT CHOICE ON YOUR ANSWER SHEET.

KARL FRIEDRICH BENZ WAS A MECHANICAL ENGINEER WHO DESIGNED AND BUILT THE WORLD`S FIRST PRACTICAL AUTOMOBILE TO BE POWERED BY AN INTERNAL-COMBUSTION ENGINE.IN 1883 HE FOUNDED BENZ & CO. IN MANNHEIM TO BUILD STATIONARY INTERNAL-COMBUSTION ENGINES, BUT HE WAS COMPLETELY DEDICATED TO THE PROPOSITION THAT THE INTERNAL-COMBUSTION ENGINE WOULD SUPERSEDE THE HORSE AND REVOLUTIONIZE THE WORLD`S TRANSPORTATION. HE PERSISTED IN HIS EFFORT TO BUILD A GASOLINE FUELED VEHICLE IN THE FACE OF MANY OBSTACLES, INCLUDING LACK OF MONEY TO THE POINT OF POVERTY AND THE BITTER OBJECTIONS OF HIS ASSOCIATES, WHO CONSIDERED HIM IN COMPETENT.

BENZ RAN HIS FIRST CAR, A THREE WHEELER POWERED BY A TWO-CYCLE, ONE-CYLINDER ENGINE, ON A HAPPY AND TRIUMPHANT DAY EARLY IN 1885. HE CIRCLED A CINDER TRACK BESIDE HIS SMALL FACTORY, HIS WORKMEN RUNNING BESIDE THE CAR, HIS WIFE RUNNING TOO, CLAPPING HER HANDS; THE LITTLE MACHINE MADE FOUR CIRCUITS OF THE TRACK, STALLING ONLY TWICE BEFORE A BROKEN CHAIN STOPPED IT. EVEN MAX ROSE, BENZ`S SKEPTICAL PARTNER, WHOSE MONEY HAD MADE THE CAR POSSIBLE, CONCEDED THAT HE WAS MILDLY IMPRESSED; BUT HE REMAINED CONVINCED TO THE END OF HIS ASSOCIATION WITH BENZ THAT THERE WAS NO FUTURE IN THE HORSELESS CARRIAGE.
THE ORIGINAL BENZ THREE-WHEELED VEHICLE, THE MOTORWAGEN, IS NOW PRESERVED IN MUNICH.
ALTHOUGH IT FIRST RAN EARLY IN 1885, ITS DESIGN WAS NOT PATENTED UNTIL JAN. 29, 1886.

113-WHAT IS THE PASSAGE MAINLY ABOUT?
1)KARL BENZ`S EFFORT TO MAKE THE FIRST AUTOMOBILE.
2) KARL BENZ`S PERSONAL LIFE
3) KARL BENZ`S TALENT IN ENGINEERING
4) KARL BENZ`S FACTORY IN MANNHEIM.

114-WHAT DOES THE WORD "SUPERSEDE" IN PARAGRAPH 1 MEAN?
1)RIVAL
2)IMPROVE
3)REPLACE
4)DEFEAT

115-WHICH OF THE FOLLOWING STATEMENT ABOUT KARL BENZ CAN BE INFERRED FROM THE PASSAGE?
1)NO ONE EVER OBJECTED TO HIM
2)HE HAD NO FINANCIAL DIFFICULTY.
3)HIS PARTNERS BELIEVED IN HIM.
4)HE WAS APPROVED BY HIS WIFE.

116-WHICH OF THE FOLLOWING IS NOT TRUE ABOUT BENZ`S MOTORWAGEN?
1)IT WAS PATENTED ABOUT A YEAR AFTER IT FIRST RAN.
2)IT WAS BOUGHT BY MAX ROSE.
3)IT FIRST RAN NEAR HIS FACTORY
4)IT HAD A ONE-CYLINDER ENGINE.

PART A: GRAMMAR & VOCABULARY

DIRECTIONS: CHOOSE THE WORD OR PHRASE (1), (2), (3) OR (4) THAT BEST COMPLETES EACH SENTENCE. THEN MARK THE CORRECT CHOICE ON YOUR ANSWER SHEET.

117-..... THAT ONLY SPECIALISTS CAN FATHOM ITS COMPLEXITIES.

1)VERY DIFFICULT SCIENCE HAS BECOME
2) TOO DIFFICULT SCIENCE HAS BECOME
3)SO DIFFICULT HAS SCIENCE BECOME
4) SUCH A DIFFICULT HAS SCIENCE BECOME

118- GEOTHERMAL ENERGY---AND IN PARTICULAR, THE PRICE OF IT--- DOES NOT DEPEND ON THE WORLD`S ECONOMIC AND POLITICAL SITUATION AS ..... FOSSIL FUELS DO.

1)STRONGLY AS
2)STRONGER THAN
3)STRONG AS
4)STRONGLY THAN

119- ONE OF THE FEATURES OF THE ZIKA VIRUS POSING DIFFICULTIES FOR ITS DIAGNOSTICS IS THAT ONLY ONE OUT OF FOUR..... BY AN INFECTION-TRANSMITTING MOSQUITO DEVELOPS ANY SYMPTOMS.

1)PEOPLE WHO BITTEN
2)PEOPLE BITTEN
3)PEOPLE ARE BITTEN
4)WHOSE PEOPLE BITTEN

120- THE MOST COMMON DATA ..... OFFICIAL STATISTICS, WHICH ARE COLLECTED AS PART OF THE OPERATION OF CRIMINAL JUSTICE AGENCIES.

1)TO BE USED IN CRIMINOLOGICAL RESEARCH THAT ARE
2)WHICH ARE USED IN CRIMINOLOGICAL RESEARCH THAT
3) USED IN CRIMINOLOGICAL RESEARCH ARE
4)ARE USED IN CRIMINOLOGICAL RESEARCH THAT

121-THE ENDING OF THE MOVIE WAS TOTALLY ..... . I GUESS WE HAVE TO DECIDE FOR OURSELVES WHAT REALLY HAPPENED.

1)MIRACULOUS
2)PROSPEROUS
3)HAZARDOUS
4)AMBIGUOUS

122-EMMA ENDURED A GREAT DEAL OF ..... WHEN HER PEERS MADE FUN OF HER IN THE OFFICE.

1)CONTAMINATION
2)HUMILIATION
3)ACQUISITION
4)STIMULATION

123-WHEN STUDYING AT SCHOOL, IT IS ESSENTIAL TO ..... BETWEEN WHAT INFORMATION IS IMPORTANT AND WHAT INFORMATION IS NOT.

1)COOPERATE
2)TERMINATE
3)ACCUMULATE
4)DISCRIMINATE

124-THE MEDIA IS GOING TO ..... THE KILLER AS A VICTIM OF SOCIETY`S AVOIDANCE OF MENTAL HEALTH ISSUES.

1)PORTRAY
2)ASSIMILATE
3)BROADEN
4)DISPERSE

PART B: READING COMPREHENSION

DIRECTIONS: READ THE FOLLOWING PASSAGE AND SELECT THE CHOICE (1), (2), (3) OR (4) THAT BEST ANSWERS EACH QUESTION. THEN MARK THE CORRECT CHOICE ON YOUR ANSWER SHEET.

REGULAR EXERCISE MAY OFFER SOME PROTECTION AGAINST ALZHEIMER`S DISEASE, EVEN FOR PEOPLE WHO ARE GENETICALLY AT RISK, ACCORDING TO RECENT RESEARCH, IN THE STUDY PUBLISHED IN THE JOURNAL OF ALZHEIMER`S DISEASE, PEOPLE WHO DID MORE MODERATE-INTENSITY PHYSICAL ACTIVITY WERE MORE LIKELY TO HAVE HEALTHY PATTERNS OF GLUCOSE METABOLISM IN THEIR BRAINS – A SIGN OF HEALTHY BRAIN ACTIVITY – THAN THOSE WHO DID LESS. LIGHT – INTENSITY PHYSICAL ACTIVITY. ON THE OTHER HAND, WAS NOT ASSOCIATED WITH SIMILAR BENEFITS.

THE STUDY INVOLVED 93 ADULTS WITH AN AVERAGE AGE OF 64, ALL OF WHOM HAD AT LEAST ONE PARENT WITH ALZHEIMER`S DISEASE, AT LEAST ONE GENE VARIATION LINKED TO ALZHEIMER`S DISEASE, OR BOTH. THIS PUT THEM AT HIGH RISK FOR DEVELOPING THE DISEASE THEMSELVES, ALTHOUGH NONE SHOWED ANY COGNITIVE IMPORTANT AT THE TIME OF THE STUDY.

TO ILLUMINATE THE RELATIONSHIP BETWEEN BRAIN ACTIVITY AND EXERCISE LEVELS, EVERYONE WORE AN ACCELEROMETER FOR A WEEK TO MEASURE THEIR DAILY PHYSICAL ACTIVITY AND RECEIVED PET SCANS TO MEASURE GLUCOSE METABOLISM, WHICH REVEALS NEURON HEALTH AND ACTIVITY, IN SEVERAL REGIONS OF THE BRAIN. FOR PEOPLE WITH ALZHEIMER`S DISEASE, THESE REGIONS TEND TO HAVE DEPRESSED GLUCOSE METABOLISM.

RESEARCHERS FOUND THAT PEOPLE WHO SPENT AT LEAST 68 MINUTES A DAY ENGAGED IN PHYSICAL ACTIVITY AT A MODERATE LEVEL – THE EQUIVALENT OF A BRISK WALK – HAD BETTER GLUCOSE METABOLISM IN ALL OF THOSE REGIONS THAN THOSE WHO SPENT LESS TIME DOING SO. THE AMOUNT OF TIME SPENT BEING SEDENTARY OR DOING LESS-INTENSE PHYSICAL ACTIVITY (LIKE SLOW WALKING) WERE NOT ASSOCIATED WITH CHANGES IN ANY OF THE BRAIN REGIONS STUDIED.

125-WHAT IS THE PASSAGE MAINLY ABOUT?

1)LIGHT-INTENSITY VERSUS MODERATE-INTENSITY PHYSICAL ACTIVITY.
2)RELATIONSHIP BETWEEN REGULAR EXERCISE AND ALZHEIMER`S DISEASE.
3)GLUCOSE METABOLISM IN HUMAN BRAIN.
4)PEOPLE VULNERABLE TO ALZHEIMER`S DISEASE.

126-ALL OF THE FOLLOWING ARE TRUE ABOUT THE PEOPLE WHO PARTICIPATE IN THIS STUDY EXCEPT THEY.....

1)ALL SHOWED SYMPTOMS OF COGNITIVE IMPAIRMENT.
2)HAD AT LEAST ONE GENE VARIATION ASSOCIATED WITH ALZHEIMER`S DISEASE.
3)HAD AN AT LEAST ONE PARENT WITH ALZHEIMER`S DISEASE.

127-WHICH OF THE FOLLOWING STATEMENTS IS TRUE?

1)PEOPLE WHO WALK BRISKLY ARE MORE LIKELY TO SUFFER ALZHEIMER`S DISEASE THAN THOSE WHO DO NOT.
2)PEOPLE WHO ARE GENETICALLY AT RISK OF ALZHEIMER`S DISEASE SHOULD SPEND 68 MINUTES A DAY DOING PHYSICAL ACTIVITY.
3)PEOPLE SUFFERING FROM ALZHEIMER`S DISEASE HAVE DIMINISHED GLUCOSE METABOLISM.
4)PEOPLE SUFFERING FROM ALZHEIMER`S DISEASE SHOULD ALWAYS WEAR AN ACCELEROMETER.

128-WHICH OF THE FOLLOWING IS CLOSEST IN MEANING TO THE WORD "SEDENTARY" IN PARAGRAPH 4?

1)EXHAUSTED 2)DEPRESSED
3)SICK 4)INACTIVE

PART A: GRAMMAR & VOCABULARY

DIRECTIONS: CHOOSE THE WORD OR PHRASE (1), (2), (3) OR (4) THAT BEST COMPLETES EACH SENTENCE. THEN MARK THE CORRECT CHOICE ON YOUR ANSWER SHEET.

129- THE HUMAN PSYCHE ..... A POWERFUL AND AT THE SAME TIME DELICATE TOOL OF PERCEPTION AND COGNITION.

1)WHICH IS 2)IS
3)THAT IT IS 4)IT IS

130- REPRESSION IS PROBABLY ..... PSYCHOLOGICAL DEFENSE MECHANISM, UNDERLYING ALL THE OTHERS.

1) MOST OF ALL WIDESPREAD 2)MOST OF THE WIDESPREAD OF
3)THE MOST WIDESPREAD 4)THE MOST WIDESPREAD OF

131-..... THE PHRASE " MASS EXTINCTION" DEFINITELY SOUNDS ALARMING, IT IS NOT SOMETHING UNCOMMON FOR OUR PLANET.

1)ALTHOUGH 2)DESPITE
3)IN ADDITION TO 4)HOWEVER

132-PHOTOGRAPHERS IN THE NINETEENTH CENTURY WERE ANXIOUS TO FIND A WAY ..... MOVEMENT, ALMOST FROM THE MOMENT THEY DISCOVERED THE ART OF PHOTOGRAPHY.

1)TO BE CAPTURED 2)TO CAPTURING
3)BEING CAPTURED 4)TO CAPTURE

133-BECAUSE THERE HAVE BEEN THREATS MADE AGAINST THE PRINCE, A TEAM OF BODYGUARDS ..... HIM WHEREVER HE GOES.

1)ACCOMPANY 2)ENDORSE
3)PROMOTE 4)RELEASE

134- NOTHING IS MORE ..... TO A MOTHER THAN HER CHILDREN, AND SHE WILL ALWAYS CHOOSE TO PROTECT THEM OVER ANYTHING ELSE.

1)RIDICULOUS 2)PRECIOUS
3)SUSPICIOUS 4)PROSPEROUS

135- THE ..... OF THE DIGITAL CAMERA HAS COMPLETELY CHANGED THE NATURE OF POPULAR PHOTOGRAPHY.

1)EMERGENCE 2)RESIDENCE
3)PERSISTENCE 4)COINCIDENCE

136- DOCTORS FREQUENTLY ..... OF THEIR PATIENTS EATING UNHEALTHY AND EXERCISING INFREQUENTLY SINCE IT CAN LEAD TO MEDICAL PROBLEMS.

1)BOAST 2)CONCEIVE
3)DISAPPROVE 3)ACCUSE

PART B: READING COMPREHENSION

DIRECTIONS: READ THE FOLLOWING PASSAGE AND SELECT THE CHOICE (1), (2), (3) OR (4) THAT BEST ANSWERS EACH QUESTION. THEN MARK THE CORRECT CHOICE ON YOUR ANSWER SHEET.

MECHANICAL ENGINEER GOTTLIEB WILHELM DAIMLER BECAME A MAJOR FIGURE IN THE EARLY HISTORY OF THE AUTOMOTIVE INDUSTRY. MAKING GUNS WAS HIS FIRST VOCATION, AND HE SHOWED MARKED TALENT, BUT HE ABANDONED THE TRADE TO GO TO ENGINEERING SCHOOL, STUDYING IN GERMANY, ENGLAND, AND FRANCE. IN GERMANY HE WORKED FOR VARIOUS ENGINEERING AND MACHINING CONCERNS, INCLUDING THE FIRM THAT MUCH EARLIER HAD EMPLOYED KARL BENZ. IN 1872 DAIMLER BECAME TECHNICAL DIRECTOR IN THE FIRM OF NIKOLAUS A. OTTO, THE MAN WHO STATIONARY GASOLINE ENGINES. DURING THE NEXT DECADE, IMPORTANT WORK WAS DONE ON THE FOUR-STROKE ENGINE.

DAIMLER BROUGHT IN SEVERAL BRILLIANT RESEARCHERS, AMONG THEM WILHELM MAYBACH, BUT IN 1882 BOTH DAIMLER AND MAYBACH RESIGNED BECAUSE OF DAIMLER`S CONVICTION THAT OTTO DID NOT UNDERSTAND THE POTENTIAL OF THE INTERNAL-COMBUSTION ENGINE. THEY SET UP A SHOP AND BUILT AN AIR-COOLED, ONE-CYLINDER ENGINE IN 1885. THE FIRST HIGH-SPEED INTERNAL-COMBUSTION ENGINE, IT WAS DESIGNED TO RUN AT 900 REVOLUTIONS PER MINUTE (RPM). FOR COMPARISON, BENZ`S FIRST TRICYCLE ENGINE HAD OPERATED AT ONLY 250 RPM. DAIMLER AND MAYBACH USED ONE OF THEIR EARLY GASOLINE ENGINE ON A WOODEN BICYCLE FITTED WITH AN OUTRIGGER, WHICH FIRST RAN ON NOV. 10, 1885. THIS MAY HAVE BEEN THE FIRST MOTORCYCLE IN DRAWN CARRIAGE MODIFIED TO BE DRIVEN BY A ONE-CYLINDER ENGINE.

137-WHAT IS THE PASSAGE MAINLY ABOUT?

1)GOTTLIEB DAIMLER`S COMPETITION WITH KARL BENZ.
2) GOTTLIEB DAIMLER`S EFFORT IN THE AUTOMOTIVE INDUSTRY.
3) HISTORY OF THE AUTOMOTIVE INDUSTRY.
4)THE AUTOMOTIVE INDUSTRY IN THE 19TH CENTURY.

138-ACCORDING TO THE PASSAGE, DAIMLER STUDIED IN ALL OF THE FOLLOWING COUNTRIES EXCEPT.....

1)FRANCE
2)GERMANY
3)ENGLAND
4)ITALY

139-WHAT WAS INVENTED ON NOV. 10, 1885?

1)THE FIRST TRICYCLE ENGINE
2)THE FIRST MOTORCYCLE
3)A FOUR-WHEELED ROAD VEHICLE
4)A WOODEN BICYCLE

140- WHO DOES THE WORD "THEY" IN PARAGRAPH 2 REFER TO?

1)BRILLIANT RESEARCHERS
2)DAIMLER AND OTTO
3)MAYBACH AND OTTO
4)DAIMLER AND MAYBACH

«توجه مهم»

جهت تهیه و دانلود بسته کامل نمونه سوالات استخدامی به همراه پاسخنامه

به آدرس زیر مراجعه بفرمایید:

اینجا کلیک نمایید

بخش ششم:

اطلاعات عمومی، دانش اجتماعی و حقوق اساسی

۱۴۱- آبشار کبودال، در کدام شهر واقع شده است؟

۱)خرم آباد ۲)درود

۳)علی اباد کتول ۴)کبودرآهنگ

۱۴۲- نارین قلعه ، از آثار ملی ایران در کدام شهر واقع شده است؟

۱)بندرعباس ۲)سمنان

۳)کرمان ۴)میبد

۱۴۳- کتاب « مردی در تبعید ابدی»؛زندگی نامه کدام عالم بزرگ است؟

۱)قطب رازی(ره) ۲)ملاصدرا (ره)

۳)علامه مجلسی(ره) ۴)شیخ بهایی (ره)

۱۴۴-نقاشی « حوضخانه صاحبقرانیه» ؛اثر کدام نقاش است؟

۱)حسن بهزاد ۲)محمود فرشچیان

۳)احمد وکیلی ۴) کمال الملک

۱۴۵- تبعید امام خمینی (ره) در دوره رژیم پهلوی ؛ به ترتیب در چه کشورهایی بود؟

۱)ترکیه-فرانسه-عراق ۲)ترکیه-عراق-فرانسه

۳)عراق-ترکیه-فرانسه ۴)عراق- کویت-فرانسه

۱۴۶- کدام یک از شهدای زیر؛ از شهدای هسته ای کشورمان است؟

۱)داریش رضایی نژاد ۲)محمدرضا فیروزی

۳)احدم کاظمی ۴) حسن تهرانی مقدم

۱۴۷- «سردار خیبر» ، لقب کدام فرمانده دوران دفاع مقدس است؟

۱) شهید مهدی باکری ۲)شهید حسن باقری

۳) شهید محمدابراهیم همت ۴)شهید حسن خرازی

۱۴۸- « شورای عالی حفاظت فنی» ؛ تحت نظر کدام وزارتخانه اداره می شود؟

۱)تعاون، کار و رفاه اجتماعی ۲)صنعت، معدن و تجارت

۳)دفاع و پشتیبانی نیروهای مسلح ۴) نیرو

۱۴۹- طبق برنامه پنج ساله ششم توسعه، دولت مکلف شده است گزارش کدام بند از ماده ۴ بخش اقتصادی کلان را در سه ماهه اول هر سال به کمیسیون های برنامه و بودجه و محاسبات و اموزش، تحقیقات و فناوری مجلس شورای اسلامی ارائه کند؟

۱) جذب سرمایه خارجی ۲) سود تسهیلات و سپرده های بانکی

۳)اهداف اقتصادی ساسیت خارجی کشور ۴) افزایش مهارت و تخصص نیروی کار

۱۵۰- انتخابات مجلس خبرگان رهبری، با کدام نظام انتخاباتی برگزار می شود ؟

۱) تناسبی تک رأی ۲)تناسبی نسبی

۳) اکثریت نسبی ۴)اکثریتی مطلق

۱۵۱- در نظام تفکیک قوای نسبی؛حاکمیت مردم در قوه مجریه چونه محقق می شود؟

۱)با رأی عمومی مردم به رئیس دولت
۲) با رأی نخبگان به رئیس دولت
۳)بطور غیرمستقیم
۴)به طور مستقیم

۱۵۲- براساس قانون اساسی؛مقام رهبری در صدور فرمان جنگ، با کدام نهاد الزاماً باید مشورت نماید؟

۱)رئیس ستاد مشترک نیروهای مسلح
۲)شورای عالی امنیت ملی
۳)اخذ مشورت، قانوناً الزامی نیست.
۴)مجمع تشخیص مصلحت نظام

۱۵۳-پهناورترین استان ایران، کدام است؟

۱)کرمان
۲)سیتان وبلوچستان
۳)خراسان جنوبی
۴)فارس

۱۵۴-ایوان مدائن؛امروزه در کدام کشور است؟

۱)ترکیه
۲)عراق
۳)فلسطین
۴)سوریه

۱۵۵- کتاب راهنمای حقائق ، اثر کیست؟

۱)شهید مطهری (ره)
۲) شهید بهشتی(ره)
۳) شهید نواب صفوی(ره)
۴)شهید چمران (ره)

۱۵۶- پس از درگذشت کدام شخصیت ؛ فتواهای حضرت امام خمینی (ره) ؛ در قالب رساله علمیه به چاپ رسید؟

۱)آیت الله یثربی کاشانی (ره)
۲) آیت الله بروجردی (ره)
۳) آیت الله حائری (ره)
۴)آیت الله ثقفی تهرانی (ره)

۱۵۷- خاتم الشعراء ، لقب کدام شاعر است؟

۱) نظامی
۲)صائب
۳)مولانا
۴) جامی

۱۵۸- مقر سازمان اوپک، درکدام کشور است؟

۱)نیویورک
۲)لندن
۳)وین
۴)پاریس

۱۵۹- در کدام عملیات؛ رزمندگان اسلام با عبور از اروندکنار و تصرف فاو،راه ورود عراق به خلیج فارس را بستند؟

۱)والفجر ۸
۲)بدر
۳)کربلا
۴)خیبر

۱۶۰- فرهنگستان ها ؛ وابسته به کدام دستگاه هستند؟

۱) وزارت فرهنگ و ارشاد اسلامی
۲) شورای عالی انقلاب فرهنگی
۳) وزارت علوم، تحقیقات وفناوری
۴)نهاد رسایت جمهوری

۱۶۱- «معاهده مفصل»، بین ایران وکدام کشور منعقد شد؟

۱)روسیه ۲)فرانسه

۳)امریکا ۴) انگلستان

۱۶۲- رسیدگی به اعتبار نامه نمایندگی منتخبین مجلس شورای اسلامی ؛ توسط کدام یک از موارد زیر انجام می شود؟

۱) کمیسیون تلفیق و شورای نگهبان

۲)کمیسیون مشترک قوای سه گانه

۳) کمیسیون مشترک مجلس ، شورای نگهبان و وزارت کشور

۴) هئیت رئیسه موقت مجلس شورای اسلامی

۱۶۳- چنانچه مصوبه یک وزارتخانه مغایر موازین شرعی باشد، دیوان عدالت اداری چه اقدامی می تواند انجام دهد؟

۱)بعد از ارجای شکایت شاکی، توسط شعبه اول دیوان به هئیت عمومی،هئیت مزبوز موضوع را بررسی و اقدام به صدور رأی می کند.

۲)دیوان صرفاً صلاحیت ازجاع مصوبه به شورای نگهبان را دارد و رأساً هیچ تصمیمی نمی گیرد.

۳)پس از أخذ نظریه شورای نگهبان، موضوع بعه یکی از شعبات دیوان ارجاع می شود تا شعبه مزبور مبتنی بر نظر شورای نگهبان رأی صادر کند.

۴) برحسب شکایت شاکی وأخذ نظریه فقهای شورای نگهبان مبنی بر مغایرت با شرع، هئیت عمومی دیوان اقدام به ابطال مصوبه می کند.

۱۶۴- سازمان برنامه و بودجه؛در ساختار کدام نهاد قرار دارد؟

۱)قوه مقننه ۲)دیوان محاسبات

۳)اساساً مستقل از قواست. ۴)قوه مجریه

۱۶۵- کمترین مساحت بین استانهای ایران ،متلعق به کدام استان است؟

۱)گیلان ۲)البرز

۳)تهران ۴)قم

۱۶۶-قلعه دختر ؛ از آثار باستانی کدام شهرستان است؟

۱)فیروزآباد فارس ۲)میبد یزد

۳)درود لرستان ۴)نائین اصفهان

۱۶۷- کتاب « اسلام وانسان معاصر» ، اثر کیست؟

۱)دکتر شریعتی(ره) ۲)شهید مطهری (ره)

۳) شهید بهشتی(ره) ۴)علامه طباطبایی (ره)

۱۶۸- کدام نقاش معاصر ایرانی با تابلو « شقایق ها ،جویبارها وتنه درخت»؛ تمایر سبکش با سایرین ،در خلق آثار نمیه انتزاعی با فرم های هندسی است؟

۱)محمود جوادی پور ۲)حسین بهزاد

۳)ناصر اویسی ۴)سهراب سپهری

۱۶۹- فعالیت سیاسی امام خمینی (ره) ، به طور علنی از چه سالی و همزمان با کدام واقعه آغاز شد؟

۱)۱۳۴۱- اعتراض به تصویب لایحه انتخابات انجم های ایالتی و ولایتی

۲)۱۳۴۱-سخنرانی به مناسب روز عاشورا و چهلم شهدای مدرسه فیضیه

۳)۱۳۴۲-سخنرانی به مناسبت روز عاشورا و چهلم شهدای مدرسه فیضیه

۴)۱۳۴۲- اعتراض به تصویب لایحه انتخابات انجم های ایالتی و ولایتی

۱۷۰- مأموریت شورای انقلاب اسلامی؛همزمان با کدام مناسبت به پایان رسید؟

۱)افتتاح مجلس خبرگان رهبری

۲)انتصاب فقهای اولین دوره شورای نگهبان

۳)افتتاح اولین دوره مجلس شورای اسلامی

۴)انتخاب اولین رئیس جمهور کشور

۱۷۱-کدام عملیات ، با هدف تصرف جزایر مجنون و عبور از هور به انجام رسید و طی آن ؛ فرماندهان بزرگی چون حمید باکری و ابراهیم همت به شهادت رسیدند؟

۱۹رمضان

۲)خیبر

۳)کربلا

۴)فتح المبین

۱۷۲- برای رئیس کل سازکان خصوصی سازی، به طور همزمان ، چه سمت دیگری تعریف شده است؟

۱)ریاست شورا و مرکز ملی رقابت

۲)عضویت شورای عالی بورس و اوراق بهادار ایران

۳)معاونت وزیر صنعت؛معدن و تجارت

۳)معاونت وزیر امور اقتصادی-دارایی

۱۷۳- در برنامه پنج ساله ششم توسعه، منبع بیشترین سهم تأمین مالی سالانه سرمایه گذاری، کدام است؟

۱) شرکت ها و مؤسسات غیردولتی

۲)تأمین مالی و سرمایه گذاری خارجی

۳)صندوق توسعه ملی

۴) تملک دارایی های سرمایه ای

۱۷۴- در نظام ریاستی؛مجلس چگونه می تواند وزرا را استیضاح کند؟

۱)اساساً چنین اختیاری ندارد

۲)پس از کسب موافقت مجلس دوم و با اکثریت نسبی

۳)با اکثریت مطلق دو سوم نمایندگان

۴)با اکثریت نسبی کل نمایندگان

۱۷۵-مجلس خبرگان رهبری؛ کدام نوع نظارت را بر نهاد رهبری انجام می دهد؟

۱) سیاسی, قضایی و مالی

۲)قضایی

۳)سیاسی

۴) مالی وقضایی

۱۷۶- تعیین رئیس شورای عالی امنیت ملی، چگونه است؟

۱) تحت شرایط خاص

)انتخابی

۳)قانونی

۴)انتصابی

«توجه مهم»

جهت تهیه و دانلود بسته کامل نمونه سوالات استخدامی به همراه پاسخنامه

به آدرس زیر مراجعه بفرمایید:

اینجا کلیک نمایید

بخش هفتم

هوش و توانمندی های عمومی

راهنمایی: متن زیر را به دقت بخوانید و صحیح ترین پاسخ را برای سوال های ۱۷۷ تا ۱۸۰ انتخاب کنید و درپاسخنامه علامت بزنید.

در روشهای درمانی مکمل، بیمار به عنوان یک کل درنظر گرفته می شود.در مراقبت کل نگر نیز تأثیر متقابل جسم، ذهن و روح مدنظر است و این موضوع با بسیاری از تئوری های پرستاری همخوانی دارد. به علاوه ، خودشفایی، خود مراقبتی، خود مسئولیتی و ایجاد مشارکت بین درمانگر و مددجو ؛از ویژگی های کلیدی درمان های مکمل می باشند.این ویژگی ها در پرستاری کل نگر نیز مطرح هستند و در بسیاری از تئوریهای پرستاری، روی این مفاهیم تأکید شده است.در اصل وارد کردن در مان های مکمل در فرآیند مراقبت، به منزله در نظر گرفتن رویکرد کل نگر در امر پرستاری است.پرستاری کل نگر مبتنی بر دیدگاه انسان گرایانه است و طب مکمل را می توان با تأکید بر تئوریهای پرستاری، اخلاق پرستاری و وجود طبقه بندی های نختلف در علم پرستاری نیز تشریح نمود. در مجموع، تجانس و سنخیت مشابه عملکرد پرستاری و روشهای درمانی مکمل سبب شده تا بسیاری از بوردهای پرستاری، درمان های مکمل را در گستره فعالیت های پرستاری به رسنیت شناخته و در خصوص علت به کارگیری این گونه روشها در عملکرد بالینی،روی همین نکته تأکید نمایند.

سؤال اینجاست که بر اساس ادراک پرستاران، علت استفاده از درمان های مکمل در عملکرد پرستاری بالینی چیست؟آیا به راستی فلسفه کاربرد درمان های مکمل در عملکرد پرستاری بر اساس تجارب پرستاران بالینی یا آنچه که در رابطه با دیدگاه متخصصین و صاحب نظران حرفه ای که در رابطه با لزوم کاربرد این نوع درمان در عملکرد پرستاری گفته شد، مطابقت دارد؟ در رابطه با عوامل مؤثر تر بر استفاده پرستاران از درمان های مکمل ذر عملکرد بالینی در سطح بین الملل، مطالعاتی با رویکرد کمی یا کیفی انجام شده است که عمدتاً در گزارش یافته های آنها، این عوامل در قالب عوامل بازدارنده،تسهیل کننده ، یا حداقل عوامل مرتبط مورد بحث قرار گرفته اند. در این میان، تمرکز خاص محققین روی علل کاربرد کمتر مشهود است. در برخی از مطالعات مرتبط نیز عملکرد پرستاران مدّنظر نبوده و در آنها علل کاربرد درمان های مکمل توسط پرستاران در کلینیک های خصوصی مورد بررسی قرار گرفته است. به علاوه ، بر اساس مستندات موجود در پایگاه های علمی ملّی و بین المللی، مطالعه ای که به بررسی علل کاربرد درمان های مکمل در عملکرد پرستاری پرداخته باشد، در ایران انجام نشده است. این در حالی است که پدیده مورد مطالعه مبتنی بر زمینه و متأثر از مشخصات عرصه پژوهش بوده و تبیین دقیق آن در عرصه های بلینی کشورهای مختلف مهم و ضروری است؛ چرا که کشف دقیق و کاملاً شفاف این علل، می تواند به دست اندرکاران در تدوین دستور العمل های کاربردی و ارائه مدل ترویج در مان های مکمل در عملکرد پرستاری کمک نماید.

۱۷۷- موضوع اصلی متن فوق ؛ کدام است؟

۱) علل گسترش درمان های مکمل در مراکز درمانی

۲) پژوهش های انجام شده در یک حوزه درمانی خاص

۳) استفاده از درمان های مکمل در فعالیت های پرستاری

۴)تعریف یک واژه کلیدی و پرتکرار در تئوری های پرستاری

۱۷۸- بر اساس متن، کدام مورد در خصوص رویکرد کل نگر در پرستاری صحیح است؟

۱)مراقبت از روح بیمار را مقدم بر مراقبت از جسم وی می داند.

۲) برخی از ویژگی های اصلی روش های درمانی مکمل را داراست.

۳) بعد از گسترش و موفقیت درمان های مکمل ظهور پیدا کرد.

۴) سعی در بی نیاز ساختن بیمار از پزشک دارد.

۱۷۹- کدام مورد، نقش پاراگراف دوم را در ارتباط با پاراگراف اول، به خوبی توصیف می کند؟

۱) مطالب آن را در مقابل یک استثنا قرار می هد.

۲) با طرح سوال هایی، ایده اصلی ان را به چالش می کشد.

۳) ایده اصلی آن را در قالب سؤال بازگو می کند ، تا ذهن خواننده را به چالش بکشد.

۴) رابطه موردِ اشاره در آن را، در زمینه ای تجربی مورد بحث و بررسی بیشتر قرار می دهد.

۱۸۰-بر اساس متن، پژوهش های انجام شده روی استفاده از درمان های مکمل در عملکرد پرستاری بالینی.....

۱) بیشتر به بررسی متغییر هایی غیر از علل کاربرد درمان های مکمل پرداخته اند.

۲) بیشتر در مراکز درمانی کوچک انجام گرفته اند تا بیمارستان های بزرگ

۳) بیشتر به روابط علت و معلولی موجود بین عوامل متعدد پرداخته اند.

۴) دارای نقایص روش شناسی متعددی هستند.

راهنمایی: متن زیر را به دقت بخوانید و صحیح ترین پاسخ را برای سوال ۱۸۱ انتخاب کنید و دراسخنامه علامت بزنید.

اولین و اساسی ترین قدم به سوی همدلی، خودشناسی است. معلم برای موفقیت در برقراری یک رابطه همدلانه با زبان آموز می باید پیش از هر چیز به شناخت خود بپردازد.پاستیک می گوید: معلمی که قدم در این راه می گذارد، به تدریج اعتماد به نفسی به دست می اورد که باعث می شود واکنش های نادرست دانش اموزان را به عنوان حملات شخصی نپندارد.شناخت خود، اولین قدم در راه ورود به دنیای دیگر است. به عقیده راجرز، فقط کسی که به خود اعتماد دارد، می تواند به دیگران اجازه دهد که متفاوت و منحصر به فرد باشند.به عبارت دیگر ، ارتباطی مستقیم بین شناخت خود ؛ اعتماد به نفس و توانایی کمک به دیگران وجود دارد.معلمی که به اسرار دورنی خویش آگاه است، توانایی هایش را می شناسد و احساساتش را تشخیص می هد؛ بهتر می تواند شاگردش را درک کند و نیازهای او را بفهمد.[۱] معلم می باید قبل از هر چیز به این سوالها در ذهن خدو پاسخ دهد ، جایگاه من در این کلاس چیست؟هدف من از تدریس چیست؟نیازهای فراگیران تاچه حد برای من مهم است؟

پس از این مرحله، خود را به جای زبان اموز می گذارد و به او و خواسته هایش توجه می کند. هنگامی که معلم وارد کلاس می شود، علاقه و توجه او به شکلی ناخودآگاه به شاگردان معطوف شده و دغدغه های خودش به فراموشی سپرده می شود.در واقع ، او آنجاست برای آنها [۲] معلم در این مسیر، از هر قضاوتی درباره شاگردانش پرهیز می کند و آنها را بی قید و شرط می پذیرد. در کلاسی که همدلی در ان جریان دارد، هیچ بازنده یا مقصری وجود ندارد.هیچ کسمورد تحقیر یا تمسخر قرار نمی گیرد. از نظر بوبر، هر نوع قضاوتی چه مثبت و چه منفی ، سبب اختلاف بین افراد می شود و در محیط آموزشی ، عواقب پیش داروی های معلم منجر به ایجاد فضای رقابت ناسالم می شود. [۳] علاوه براین، وقتی که قضاوتی منفی نسبت به دانشجویی در مقابل دیگران مطرح می شود، تا مدتی نا مشخص رابطه اش با معلم و در نتیجهریال درس مربوط قطع می شود. وقتی قضاوت ، مثبت نیز باشد، عواقبش کمتر از نوع اول نیست، زیرا احتمال طرد شدن او از گروه دوستانش وجود دارد.[۴]

۱۸۱- کدام جنبه همدلی؛ در متن فوق، مورد بحث قرار گرفته است؟

۱)روش های ابراز آن توسط معلم

۲)پایه های آن به ترتیب اهمیت

۳)اثرات آن بر پیشرفت تحصیلی دانش آموزان

۴)رابطه ان با تدریس مؤثر

راهنمایی : برای پاسخگویی به سوال ۱۸۱ ، لازم است موقعیتی را که در هر سوال مطرح شده ، مورد تجیه وتحلیل قرار دهید و سپس گزینه ای را که فکر می کنید پاسخ مناسب تری برای آن سوال است ، انتخاب کنید. هر سؤال را با دقت بخوانید و با توجه به واقعیت های مطرح شده در هر سؤال و نتایجی که بیان شده و بیان نشده ولی قابل استنتاج است، پاسخی که صحیح تر به نظر می رسد، انتخاب و در پاسخنامه علامت بزنید.

۱۸۱- تعداد صندلی های سینما برای هر کشور مهم است. این صندلی ها شاخص توسعه فرهنگی کشور ها به حساب می آیند و نشان می دهند کشور در چه رده ای قرار دارد.اینکه بخواهیم به جز توسعه یافتگی فرهنگی در آسیا، رده جهانی هم داشته باشیم، این امر نیازمند افزایش معینی تعداد صندلی و سالن های سینماست.پس باید سینماهای بیشتر با ظرفیت بالاتر ساخته شوند تا در عرصه جهانی ؛ هم ضریب توسعه فرهنگی مان بالا رود.

نتیجه گیری متن فوق، بر کدام یک از فرضیات زیر ، استوار است؟

۱) کشورهای موجود در آسیا، همگی به فکر تأسیس سینماهای جدید هستند.

۲) سینماروها متناسب با صندلی های جدیدی که ایجاد می شود، افزایش می یابند.

۳) سینماهای جدید، از لحاظ امکانات، از سینماهای موجدو در سطحی بالاتر خواهند بود.

۴) افزایش تعداد سینما، باعث رشد فرهنگی و رشد فرهنگی، باعث ارتقای کیفی فیلم ها می شود که این به نوبه خود، مخاطبین بیشتری را به سینما می کشاند.

راهنمایی: در سوال ۱۸۲، تعدادی چوب کبریت کنار هنم چیده شده است. با جابه جا کردن حداقل چند چوب کبریت می توان چهار مربع یکی در یک با این چوب کبریت ها ساخت،بطوری که چوب کبریتی اضافه نماند؟

۱۸۲-

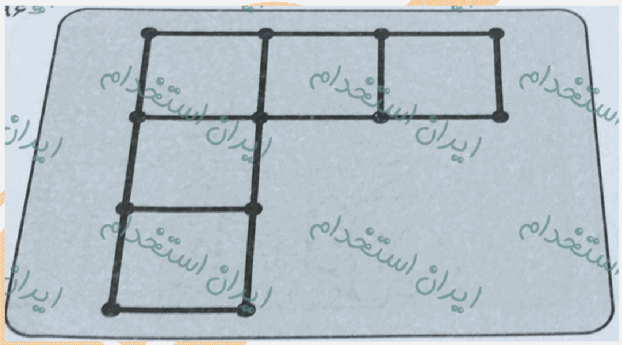

۱) ۲

۲) ۳

۳) ۴

۴) ۵

راهنمایی: در سوال ۱۸۳، ارتباط خاصی بین الگوها از چپ به راست وجود دارد. به جای علامت سوال، کدام الگو (موارد ۱ تا ۴) باید قرار بگیرد تا این ارتباط حفظ شود؟

۱۸۳-

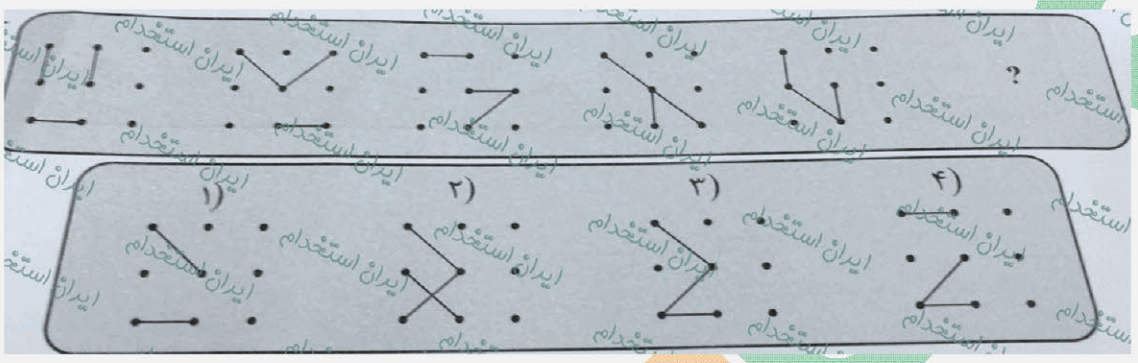

راهنمایی: در سوال ۱۸۴، دو تساوی ارائه شده است که در تساوی دوم (تساوی پایین) ؛ همان ارتباطی برقرار است که در تساوی اول (تساوی بالا) برقرار است. به جای علامت سوال، کدام الگو (موارد ۱ تا ۴) باید قرار بگیرد؟

۱۸۴-

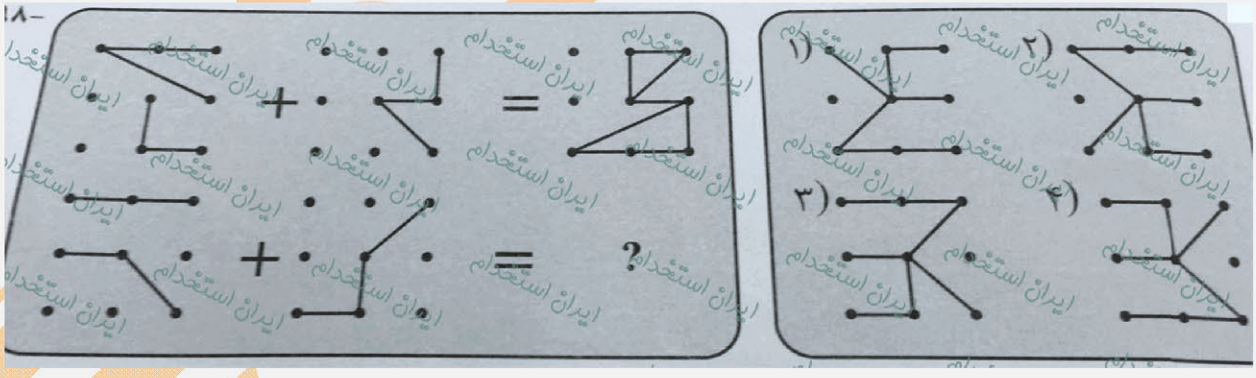

راهنمایی: در سوال ۱۸۵، الگوی سمت چپ باز شدهٔ یک مکعب را نمایش می دهد.الگوی بسته شده آن، کدام مورد است؟

۱۸۵-

راهنمایی: در سوال ۱۸۶، کدام الگو (موارد ۱ تا ۴)، معادل الگوی سمت چپ است؟

۱۸۶-

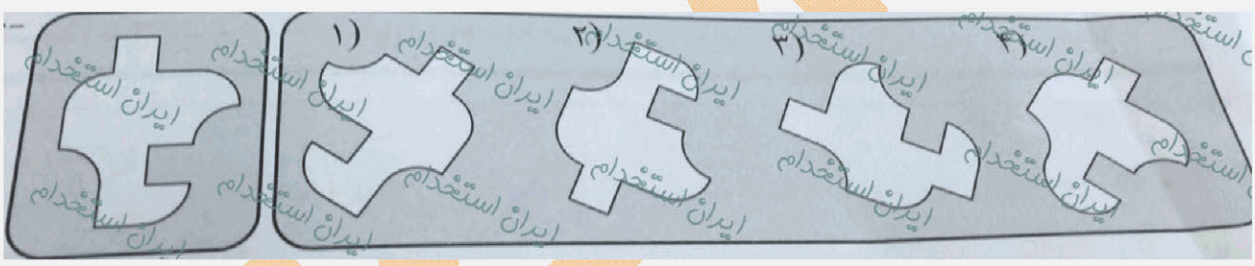

راهنمایی: با توجه به اطلاعات زیر؛ به سوال های ۱۸۷ تا ۱۹۰ پاسخ دهید.

سه نفر با اسامی محمد، علی و رضا قرار است هرکدام سه اتومبیل متفاوت از انواع سواری، وانت و کامیون را در یک پارکینگ ۳ طبقه که مطابق شکل زیر ؛ هر طبقه دارای سه جای پارک ، آن هم مختص فقط یک نوع خودرو، پارک کنند. هر پارکینگ دارای دسترسی مجراست . پارک خودرو ها در این پارکینگ، دارای محدودیت های زیر است:

- اتومبیل هایی که در ستون دوم پارک می شند، توسط افراد مختلف پارک می شوند.
- کامیونی که محمد پارک می کند، باید در ستونی باشد که رضا در آن سواری پارک کرده است.
- در ستون سوم ؛ حداقل دو نوع اتومبیل، باید توسط یک نفر پارک شده باشد.
- وانتی که رضا پارک می کند؛ یا دقیقاً زیرِ سواری که خودش پارک کرده ؛ پارک می شود یا دقیقاً بالای کامیونی که علی پارک کرده است

		ستون ۱	ستون ۲	ستون ۳
طبقه سوم (سواری)	⟶			
طبقه دوم (وانت)	⟶			
طبقه اول (کامیون)	⟶			

۱۸۷- اگر رضا و علی، اتومبیل سواری را به ترتیب در ستون های دوم وسوم پارک کنند، کامیون های پارک شده توسط رضا و علی،به ترتیب در کدام ستون ها قرار می گیرند؟

۱)دوم-اول

۲)اول-دومک

۳)سوم – اول

۴)اول-سوم

۱۸۸-اگر اتومبیل های کامیون ؛ وانت، و سواری در ستون سوم ، به ترتیب توسط رضا، محمد و محمد پارک شده باشند،همین نوع اتومبیل ها با همان ترتیب، در ستون اول، به ترتیب توسط کدام افراد پارک شده اند؟

۱) محمد-علی-رضا

۲)علی-رضا-علی

۳) محمد-علی-علی

۴) محمد-رضا-علی

۱۸۹- اگر وانت ها در ستون اول،دوم وسوم ، به ترتیب توسط علی،رضا و محمد پارک شده باشند، کامیون ستون سوم ، توسط چه کسی پارک شده است؟

۱) رضا

۲) علی

۳)محمد

۴) نمی توان تعیین کرد

۱۹۰- اگر رضا دو اتومبیل را در ستون سوم پارک کرده باشد،علی کدام اتومبیل (ها) را به طور قطع ، در ستون اول پارک کرده است؟

I) سواری II) وانت III) کامیون

۱) فقط III

۲) I و II

۳) I و III

۴) II و III

راهنمایی: هر کدام از سواله های ۱۹۱ تا ۱۹۶ را به دقت بخوانید و جواب هر سوال را در پاسخنامه علامت بزنید.

۱۹۱- در جدول زیر، بین اعداد ارتباط خاصی برقرار است.به جای علامت سوال ، کدام عدد باید قرار بگیرد؟

	۳	۷	۴
۵	۷	۲۳	۱۱
۸	۱۳	۴۱	۲۰
۳	۳	?	۵

۱) ۲۰
۲) ۱۹
۳) ۱۶
۴) ۱۱

۱۹۲- در شکل زیر ، شعاع دایره کوچک، یک چهارم ضلع مربع است. این دو دایره ، برهم و بر اضلاع مربع مماس شده اند.قطر دایره بزرگ، چند برابر قطره دایره کوچک است؟

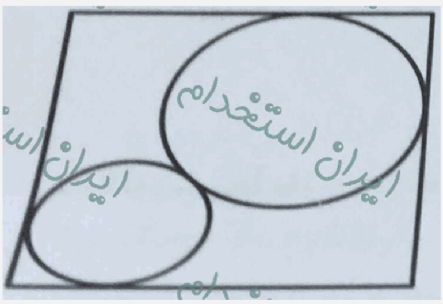

۱) $\frac{3\sqrt{2}+1}{\sqrt{2}+1}$
۲) $\frac{3\sqrt{2}-1}{\sqrt{2}+1}$
۳) $\frac{3\sqrt{2}-1}{\sqrt{2}-1}$
۴) $\frac{3\sqrt{2}+1}{\sqrt{2}-1}$

۱۹۳- ۵ دانشجوی کارشناسی، پروژه ای را در دو سال، ۲ دانشجوی کارشناسی ارشد همان پروژه را در چهار سال و ۳ دانشجوی دکتری همان پروژه ها را در یک سال انجام می دهند.اگر یک دانشجوی دکتری و یک دانشجوی کارشناسی ارشد در این پروژه حضور داشته باشند، حداقل چند دانشجوی کازشناسی لازم است تا پروژه در حداکثر یک سال به اتمام رسد؟

۱) ۴
۲) ۵
۳) ۶
۴) ۷

۱۹۴-علی تعدادی سکه ۱۰، ۲۵ و ۵۰ تومانی دارد.اگر وی مجموعاً ۲۶ عدد سکه و ۱۰۰۵ تومان پول داشته باشد؛ اختلاف تعداد سکه های ۲۵ و ۵۰ تومانی وی ، چند عدد است؟

۱) ۶
۲) ۷
۳) ۸
۴) ۹

۱۹۵- دو سر طنابی به طول ۲ متر را به هم گره زده و با ان مستطیلی می سازیم.اگر با همان طناب، مستطیل دیگری بسازیم که قطر آن ۱۰ درصد افزایش و مسحات آن ۴۵ درصد کاهش یافته است؛مساحت مستطیل اولیه، چند مترمربع است؟

۱) $\frac{21}{92}$

۲) $\frac{21}{46}$

۳) $\frac{1}{7}$

۴) $\frac{21}{23}$

۱۹۶- دو سطل کاملاً مشابه «الف» و «ب» داریم.نصف سطل «الف» ؛ حاوی رنگ سفید و بقیه اش خالی و ۷۵ درصد سطل «ب» ، حاوی رنگ سیلاه و بقیه اش خالی است.برای ساختن توعی زنگ خاکستری ، فرآیند زیر را انجام می دهیم. نخست سطل«الف» را با استفاده از سطل «ب» ، کاملاً پر کرده و مخلوط را هم می زنیم.سپس سطل برعکس ، سطل «ب» را با استفاده از سطل «الف» ، کاملاً پر کرده و مخلوط را هم می زنیم. در نهایت؛ سطل «الف» را با استفاده از سطل«ب» ، کاملاً پرکرده و مخلوط را هم می زنیم.پس از محله آخر، نسبت رنگ سفید به سیاه در مخلوط سطل «الف» ، کدام است؟

۱) $\frac{9}{15}$

۲) $\frac{13}{19}$

۳) $\frac{11}{17}$

۴) $\frac{2}{3}$

راهنمایی: متن زیر را به دقت بخوانید و صحیح ترین پاسخ را برای سوال ۱۹۷ انتخاب کنید و درپاسخنامه علامت بزنید.

نوشتن درباره هنر در مغرب زمین در دوره باستان (یونان و روم) آغاز شد. برخی از رساله های مرتبط با هنر و معماری از ان روزگار به دست ما رسیده و از وجود برخی دیگرهم؛ از طریق متون دیگر باخبریم.توجه مستقل به هنر، به منزله موضوعی برای اندیشیدن و نوشتن، در اورپای سده ای میانی معمول نبوده ، ام در دوره رنسانس این کار از سر گرفته شد.گفته ناد در سراسر جاهن غیرغربی نیز؛ همانند اروپای سده های میانه، وضع به همین منوال بوده است.سبب ان را فراگیری هنر در سرتاسر زندگی اسنان در جامعه غیرغربی و یگانگی هنر، دین و سنت شمرده اند.به بیان دیگر ،در فرهنگ غیرغربی،هنر از دین وسنت جدا نبوده تا نیازی به پرداختن مستقل به هنر احساس شود. در فرهنگ غیر غربی، هنر در دل دین و سنت بود اما در فرهنگ غربی، پس از رنسانس و به ویژه از انتقلاب رمانتیک به بعد، هنر به نوعی مستقل شد و پرداختن به آن لازمه پاسداری از معنویت و انسانیت انسان شمرده شد.

البته اینکه در جوامع غیر غربی ؛ از جمله ایران پیش از روزگار جدید،کمتر درباره استقلال هنر نوشته اند، بدین معنا نیست که در منابع نوشتاری ایرانی، چیزی درباره هنر یافت نمی شود؛ بلکه بدین معناست که نوشته هایی که یک سره و به طور عمده درباره هنر پدید آمده باشد، اندک است. با این حال، حتی شمول همین قول نیز در جهان اسلام محل تردید است. می دانیم که در مغرب زمین، نقاشی را هنر اصلی می شمردند و وقتی سخن از هنر مطلق بوده،مقصود نقاشی یا نقاشی همراه همراه با دیگر هنرهای بصری بوده است. محققان با سیطره تصور غربی درباره هنر به سروقت وارسی وضع نوشته های هنر در سده های میانه در جهان غیرغربی رفته اند و چون کمتر چیزی یافته اند، این حکم کلی را صادر کرده اند که نوشتن درباره هنر در جهان غیرغربی جایی نداشته است. اگر این پیش داوری را کنار بگذاریم، خواهیم دید که نه تنها نوشته درباره هنر در لابه لای متون حووزه های گوناگون علوم و پیشه ها یافت می شود ، بلکه نوشته مستقل درباره هنر هم بسیار است؛ با این اختلاف که در جاهن اسلام، ادبیات و خوشنویسی نمونه های بارز هنر شمرده می شوند.

۱۹۷- کدام مورد، نقش پاراگراف دوم را در ارتباط با پاراگراف اول، به خوبی توصیف می کند؟

۱) مطالب آن را در مقابل یک استثنا قرار می هد.

۲) آن را توصیف کرده و به بیان جزئی تر موارد می پردازد

۳) ایده اصلی آن را در قالب سؤال بازگو می کند

۴) رابطه موردِ اشاره در آن را، در زمینه ای تجربی مورد بحث و بررسی بیشتر قرار می دهد.

«توجه مهم»

جهت تهیه و دانلود بسته کامل نمونه سوالات استخدامی به همراه پاسخنامه

به آدرس زیر مراجعه بفرمایید:

اینجا کلیک نمایید

ایران استخدام

سرویس خصوصی خدمات عام المنفعه اخبار شغل و استخدام

- آدرس وب سایت: Www.IranEstekhdam.Ir
- آدرس ایمیل: Info@IranEstekhdam.ir
- آدرس دفتر: آذربایجان شرقی – شهرستان مرند و تبریز
- تلفن تماس:۰۴۱۴۲۲۷۲۶۷۱