بخشی از محصول:

اصل دفترچه سوالات تخصصی هنرآموز کامپیوتر آزمون استخدامی آموزش و پرورش

(سال های ۹۶، ۹۴ و ۸۹) به همراه سوالات ۷ درس عمومی آزمون های استخدامی

ایران استخدام

سرویس خصوصی خدمات عام المنفعه اخبار شغل و استخدام

Www.IranEstekhdam.Ir

! اخطار مهم !

این فایل بخشی از نمونه سوالات اختصاصی و ثبت شده سایت ایران استخدام (شرکت آلتین سیستم) بوده و قوانین مربوط به حوزه حمایت از حقوق مؤلفین و ناشرین جمهوری اسلامی ایران بر آن حاکم می باشد.

هرگونه سوء استفاده از این فایل همانند استفاده از محتوا در تهیه کتب و یا قرار دادن تمام یا بخشی از آن در وب سایت های دیگر، چه برای فروش و چه به صورت رایگان شرعاً حرام و قانوناً خلاف مقرارت و قوانین کشورمان می باشد.

با توجه به هزینه های صرف شده و تلاش صورت گرفته برای تهیه این بسته،در صورت مشاهده یا گزارش هرگونه کپی برداری از آن؛ بدون هیچ گونه تماس قبلی وهشدار اقدام به پیگیری حقوقی خواهیم نمود.

کاربران گرامی لطفا دقت فرمایید، این فایل تنها بخشی از محصول ویژه اصل دفترچه سوالات تخصصی هنرآموز کامپیوتر آزمون استخدامی آموزش و پرورش (سال های ۹۶، ۹۴ و ۸۹) به همراه سوالات ۷ درس عمومی آزمون های استخدامی می باشد که به صورت رایگان و برای آشنایی شما عزیزان از کیفیت و محتوای فایل معرفی شده ارائه شده است، لطفاً جهت خرید و دانلود کامل این محصول، روی لینک زیر کلیک فرمایید.

لینک دانلود و خرید بسته کامل

بخش اول:

سوالات تخصصی هنرآموز کامپیوتر آزمون استخدامی آموزش و پرورش (سال های ۹۶، ۹۴ و ۸۹)

۱- class1 به صورت زیر، تعریف شده است. کدام مورد، برای تعریف آرایه‌ای به طول ۳ از اشیاء این کلاس، صحیح است؟

(آموزش پرورش سال ۹۶)

```
class class1
{
private:
        int a;
public:
        class1(int b)
        {
                a = b;
        }
};
```

۱) class *obj = new class1[3];

۲) class1 *obj = new class1(1, 2, 3);

۳) class1 obj[3]={ (class1(1), class1(2), class1(3)) };

۴) class1 obj[3] = { class1(1), class1(2), class1(3) };

۲- کدام مورد درخصوص روش رمزنگاری زیر، صحیح است؟ (آموزش پرورش سال ۹۶)

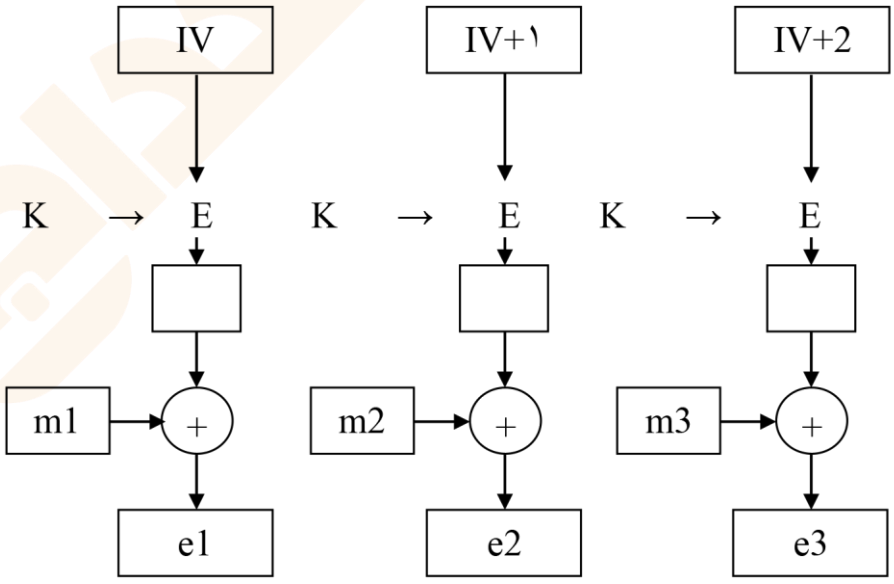

۱) در صورت رمزنگاری پیام های مختلف با یک کلید (K) و بردار اولیه (IV)، امنیت این روش کاهش نمی یابد.

۲) رمزگشایی پیام از هر نقطه امکان‌پذیر است و نیازی نیست که رمزگشایی، از ابتدای پیام شروع شود.

۳) امنیت این روش به دلیل رمزنگاری بردارهای اولیه، از تمام روش های دیگر، بالاتر است.

۴) این روش، Output Feedback Mode نام دارد.

۳- پیاده‌سازی بهینه الگوریتم کدگذاری هافمن (Huffman coding)، با کدام ساختار داده و در چه زمانی، قابل انجام است؟ (n تعداد سمبل‌هاست. (آموزش پرورش سال ۹۶)

۱) هرم های دودویی (Binary Heap) – O(n log n)

۲) هرم های دودویی (Binary Heap) – $O(n^2)$

۳) آرایه های نامرتب - O(n log n)

۴) آرایه های مرتب - O(n log n)

۴- افزایش TTL در سربرگ IP packets، کدام تأثیر را بر روی ترافیک شبکه می گذارد؟ (آموزش پرورش سال ۹۴)

۱) افزایش پاکت های سرگردان در شبکه

۲) کاهش تعداد hopها در شبکه

۳) کاهش تعداد frame یک پاکت

۴) افزایش سرعت شبکه

۵- خروجی برنامه زیر، چیست؟ (آموزش پرورش سال ۸۹)

```
Char st[]=”mybook“;
FILE*fp;
fp=fopen(“fileI.text”,”w+t“);
fprintf(fp,“%s”,st);
fseek(fp,-(ftell(fp)-3),SEEK_END);
fscanf(fp,”%s“,st);
printf(“%s”,st);
```

۱) book　　۲) ook　　۳) my book　　۴) myb

کاربران گرامی لطفا دقت فرمایید، این فایل تنها بخشی از محصول ویژه اصل دفترچه سوالات تخصصی هنرآموز کامپیوتر آزمون استخدامی آموزش و پرورش (سال های ۹۶، ۹۴ و ۸۹) به همراه سوالات ۷ درس عمومی آزمون های استخدامی می باشد که به صورت رایگان و برای آشنایی شما عزیزان از کیفیت و محتوای فایل معرفی شده ارائه شده است، لطفاً جهت خرید و دانلود کامل این محصول، روی لینک زیر کلیک فرمایید.

لینک دانلود و خرید بسته کامل

محتوای این فایل به شماره شابک ۸-۵۹۶- ۴۴۸-۶۰۰-۹۷۸ در نزد وزارت فرهنگ و ارشاد جمهوری اسلامی ایران ثبت شده است، و هرگونه انتشار آن پیگرد قانونی در پی خواهد داشت.

بخش دوم:

فنّاوری اطلاعات و مهارت های هفتگانه *I.C.D.L*

سوالات عمومی آزمون های استخدامی به همراه پاسخ تشریحی سوالات

۱- در نرم افزار Word 2013، با استفاده از شکل زیر، می توان کدام یک از موارد را تغییر داد؟ (Www.iranestekhdam.ir)

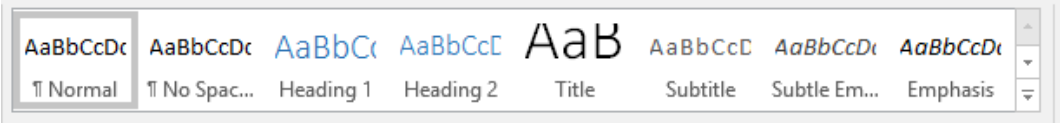

۱) Font
۲) Text Size
۳) Style
۴) Illustration

پاسخ کارشناس سایت ایران استخدام : گزینه ۳

از این قسمت برای تغییر استایل و ظاهر نوشته های متن استفاده می شود. هنگامی که چندین مورد تغییر مانند تنظیم ظاهری نوشته مثل فونت / رنگ / کادر و ... نیاز داشته باشیم که همه این تغییر ها را می خواهیم در کنار هم یکجا بر روی متن اعمال کنیم نیاز به ایجاد یک استایل هست.

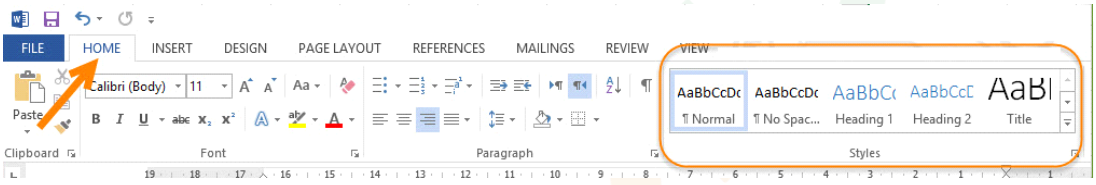

یعنی شما می توانید با اعمال یکی از حالت موجود در ابزار Styles استفاده می شود.

۲- در نرم افزار Excel 2013 ، ابزار Sort بر روی کدام یک از موارد زیر، اعمال می شود؟ (Www.iranestekhdam.ir)

۱) شماره سلول ها
۲) فرمول های موجود در سلول ها
۳) داده های موجود در سلول ها
۴) داده های موجود در سلول ها و شماره آنها

پاسخ کارشناس سایت ایران استخدام : گزینه ۳

از این ابزار برای مرتب کردن و چیدن داده های موجود در سلول ها به صورت صعودی یا نزولی از نظر تنظیمات داده شده به آن استفاده میشود. به طور کلی مرتب سازی داده های یک ستون، از موارد مورد نیاز روزانه در محیط اکسل است که توسط این ابزار از تب Data و یا پنجره Sort و یا روشهای ابزاری دیگر انجام می شود.

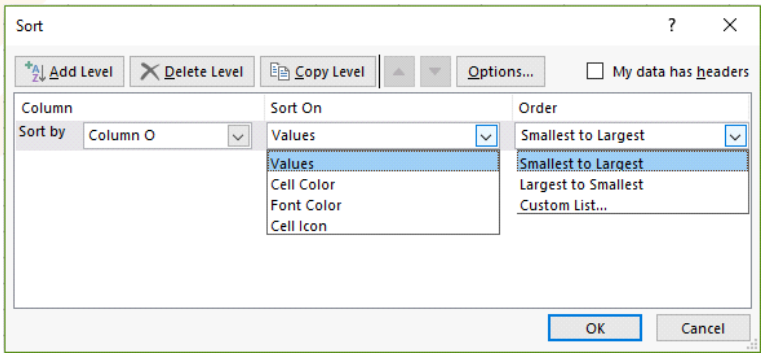

۳- شکل «الف» ، گروه Sheet Option را نشان می دهد.کدام یک از موارد زیر ؛ به منظور نمایش کاربرگ به صورتی که در شکل «ب» نشان داده شده است، انتخاب شده اند؟(Www.iranestekhdam.ir)

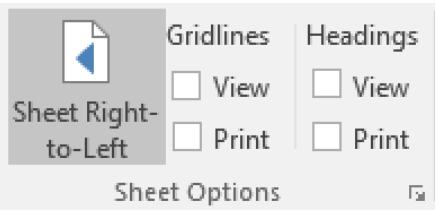

شکل الف

	A	B
۲	نام	نام خانوادگی
۳	علی	محمدی
۴	رضا	علوی
۵	ابراهیم	صادقی
۶	محمد	جعفری

شکل ب

۱) Sheet Right – to –Left و View (در Gridlines)

۲) Sheet Right – to –Left و View (در Heading)

۳) View (در Heading) و Print (در Gridlines)

۴) View (در Gridlines) و Print (در Heading)

پاسخ کارشناس سایت ایران استخدام : گزینه ۲

با اعمال تنظیمات گزینه (۲)، یعنی زدن تیک گزینه View در بخش Headings ، عناوین ستون ها و سطر ها نمایش داده می شوند و با انتخاب گزینه Sheet Right-To-Left حالت صفحه بصورت راست به چپ نمایش داده می شود که برای درج مقادیر و نوشته های فارسی مناسب می باشد.

سوالات عمومی آزمون های استخدامی به همراه پاسخنامه تستی سوالات

۱- وضوح یا کیفیت تصویری به کدام یک از عوامل زیر بستگی دارد؟(Www.iranestekhdam.ir)

۱) صفحه نمایش ۲) کارت گرافیک ۳) نرم‌افزار ۴) همه گزینه ها

۲- جهت وارد کردن آدرس خانه H9 به صورت مطلق در یک فرمول از کدام گزینه استفاده می شود؟

(Www.iranestekhdam.ir)

۱) ۹H ۲) ۹$H ۳) ۹$H$ ۴) H۹

پاسخنامه تستی سوالات

شماره سوال	گزینه صحیح
سوال ۱	۴
سوال ۲	۴

محتوای این فایل به شماره شابک ۸-۵۹۶-۴۴۸-۶۰۰-۹۷۸ در نزد وزارت فرهنگ و ارشاد جمهوری اسلامی ایران ثبت شده است، و هرگونه انتشار آن پیگرد قانونی در پی خواهد داشت.

کاربران گرامی لطفا دقت فرمایید، این فایل تنها بخشی از محصول ویژه اصل دفترچه سوالات تخصصی هنرآموز کامپیوتر آزمون استخدامی آموزش و پرورش (سال های ۹۶، ۹۴ و ۸۹) به همراه سوالات ۷ درس عمومی آزمون های استخدامی می باشد که به صورت رایگان و برای آشنایی شما عزیزان از کیفیت و محتوای فایل معرفی شده ارائه شده است، لطفاً جهت خرید و دانلود کامل این محصول، روی لینک زیر کلیک فرمایید.

لینک دانلود و خرید بسته کامل

محتوای این فایل به شماره شابک ۸-۵۹۶-۴۴۸-۶۰۰-۹۷۸ در نزد وزارت فرهنگ و ارشاد جمهوری اسلامی ایران ثبت شده است، و هرگونه انتشار آن پیگرد قانونی در پی خواهد داشت.

بخش سوم:

ریاضی و آمار مقدماتی

سوالات عمومی آزمون های استخدامی به همراه پاسخ تشریحی سوالات

۱- ریشه های معادله $4x^2 - 2mx - 1 = o$، سینوس و کسینوس زاویه α هستند. مقدار مثبت m کدام است؟

(Www.iranestekhdam.ir)

۱) $\sqrt{3}$ ۲) $\sqrt{2}$ ۳) $3\sqrt{2}$ ۴) $\sqrt{6}$

پاسخ کارشناس ایران استخدام :گزینه ۲

با توجه به روابط بین ریشه های معادله درجه دوم داریم:

$$\begin{cases} x_1 + x_2 = -\frac{b}{a} \\ x_1 \times x_2 = \frac{c}{a} \end{cases} => \begin{cases} sin\alpha + cos\alpha = \frac{m}{2} \ (1) \\ sin\alpha \times cos\alpha = \frac{-1}{4} \ (2) \end{cases}$$

$$(sin\alpha + cos\alpha)^2 = \frac{m^2}{4} \rightarrow sin^2\alpha + cos^2\alpha + 2sin\alpha \times cos\alpha = \frac{m^2}{4}$$

از روابط مثلثاتی به یاد داریم که: $sin^2\alpha + cos^2\alpha = 1$

آنگاه داریم:

$$sin^2\alpha + cos^2\alpha = 1 \ => \ 1 + 2sin\alpha \times cos\alpha = \frac{m^2}{4}$$

با جاگذاری رابطه (۲) در معادله بالا داریم:

$$1 + 2\left(-\frac{1}{4}\right) = \frac{m^2}{4} \rightarrow 1 - \frac{1}{2} = \frac{m^2}{4} \rightarrow \frac{1}{2} = \frac{m^2}{4} \ => 2m^2 = 4$$

$$m = \mp\sqrt{2}$$

با توجه به اینکه تنها مقدار مثبت m مد نظر میباشد، لذا تنها مقدار مثبت $\sqrt{2}$ جواب سوال می باشد.

۲- فاصله مبدأ مختصات تا خط $y = ax + b$ برابر واحد است. اگر این خط از (۱,۲) بگذرد، مقدار a کدام است؟

(Www.iranestekhdam.ir)

۱) $\frac{4}{3}$ ۲) $\frac{3}{4}$ ۳) $\frac{2}{3}$ ۴) $\frac{3}{2}$

پاسخ کارشناس ایران استخدام :گزینه ۲

فاصله یک نقطه فرضی (x_0,y_0) از خط $ax^2 + bx + c = 0$ از طریق فرمول زیر محاسبه می شود:

$$|AB| = \frac{|ax_0 + by_0 + c|}{\sqrt{a^2 + b^2}}$$

حال در این سوال داریم که:

$$a = (0,0) \text{ و } y - ax - b = 0$$

با توجه به اینکه خط مذکور از نقطه (۲و۱) نیز می گذرد بنابراین: $2 = a + b$

$$1 = \frac{|0 - a \times 0 - b|}{\sqrt{1^2 + b^2}} = \frac{b}{\sqrt{1 + a^2}}$$

$$\sqrt{1 + a^2} = b \ => 1 + a^2 = b^2 => (a^2 - b^2) = 1$$

$$(a^2 - b^2) = 1 \ => (a + b)(a - b) = 1 \ => (2)(a - b) = 1 \ => a - b = \frac{1}{2}$$

$$\begin{cases} a - b = \frac{1}{2} \\ a + b = 2 \end{cases} => 2a = \frac{3}{2} \ => a = \frac{3}{4}$$

۳- اگر دو داده به مقادیر ۱۹ و ۲۲، به داده های نمودار چندضلعی زیر اضافه شود، زاویه مربوط به دسته دوم در نمودار دایره‌ای برای داده های جدید، کدام است؟ (Www.iranestekhdam.ir)



۱) ۱۳۰
۲) ۱۲۰
۳) ۱۴۰
۴) ۱۳۴

پاسخ کارشناس ایران استخدام :گزینه ۱

با توجه به نمودار چند ضلعی داده ها داریم:

فاصله مرکز دسته ها از یکدیگر: ۵=۱۳.۵-۱۸.۵

طول طبقات:۵

با توجه به این مقادیر، برای پیدا کردن حدود دسته ها، از اعداد مرکز دسته ها به اندازه ۲.۵ واحد کم و اضافه می کنیم

سپس جدول دادها را بر اساس نمودار بالا تکشیل می دهیم:

دسته ها	حدود دسته	فراوانی دسته
اول	۱۱-۱۶	۵
دوم	۱۶-۲۱	۱۲
سوم	۲۱-۲۶	۸
چهارم	۲۶-۳۱	۹

با اضافه شدن دو داده جدید ۱۹ و ۲۲ به داده های بالا مجدد داریم: (داده ۱۹ در دسته دوم و داده ۲۲ در دسته سوم جای میگیرند)

دسته ها	حدود دسته	فراوانی جدید دسته
اول	۱۱-۱۶	۵
دوم	۱۶-۲۱	۱۳
سوم	۲۱-۲۶	۹
چهارم	۲۶-۳۱	۹
	فروانی مطلق داده ها	۳۶

آنگاه برای تعیین زوایه نمودار دایره ای برای دسته دوم داده ها (α) در حالت جدید داریم:

$$\alpha = \frac{360 * 13}{36} = 130 \quad \text{درجه}$$

محتوای این فایل به شماره شابک ۸-۵۹۶-۴۴۸-۶۰۰-۹۷۸ در نزد وزارت فرهنگ و ارشاد جمهوری اسلامی ایران ثبت شده است، و هرگونه انتشار آن پیگرد قانونی در پی خواهد داشت.

سوالات عمومی آزمون های استخدامی به همراه پاسخنامه تستی سوالات

۱- در ماتریس $A=\begin{bmatrix}2 & 3\\ 4 & 5\end{bmatrix}$ مجموع مقادیر ویژه (خاص) کدام است؟(Www.iranestekhdam.ir)

۱) ۲ ۲) ۳ ۳) ۴ ۴) ۷

۲- اگر $Z=U^2+V^2-2UV$ و $U=r\cos\theta$ و $V=r\sin\theta$ باشد منظور $\frac{\partial Z}{\partial r}$ کدام است؟

(Www.iranestekhdam.ir)

۱) صفر ۲) $(2U-2V)\cos\theta$

۳) $2r-4r\sin\theta\cos\theta$ ۴) $(2U-2V)\sin\theta$

پاسخنامه تستی سوالات

شماره سوال	گزینه صحیح
سوال ۱	۴
سوال ۲	۳

کاربران گرامی لطفا دقت فرمایید، این فایل تنها بخشی از محصول ویژه اصل دفترچه سوالات تخصصی هنرآموز کامپیوتر آزمون استخدامی آموزش و پرورش (سال های ۹۶، ۹۴ و ۸۹) به همراه سوالات ۷ درس عمومی آزمون های استخدامی می باشد که به صورت رایگان و برای آشنایی شما عزیزان از کیفیت و محتوای فایل معرفی شده ارائه شده است، لطفاً جهت خرید و دانلود کامل این محصول، روی لینک زیر کلیک فرمایید.

لینک دانلود و خرید بسته کامل

محتوای این فایل به شماره شابک ۸-۵۹۶-۴۴۸-۶۰۰-۹۷۸ در نزد وزارت فرهنگ و ارشاد جمهوری اسلامی ایران ثبت شده است، و هرگونه انتشار آن پیگرد قانونی در پی خواهد داشت.

بخش چهارم:

زبان و ادبیات فارسی و آیین نگارش

سوالات عمومی آزمون های استخدامی به همراه پاسخ تشریحی سوالات

۱- در کدام عبارت، «غلط املایی» یافت می شود؟ (Www.iranestekhdam.ir)

۱) پیر را آز مال و مودّت فرزند در کار آورد تا جانب دین و مروّت مهمل گذاشت.

۲) پادشاهان حازم، بسیار کس را که با ایشان الف بیشتر ندارند، برای هنر و اخلاص نزدیک گردانند.

۳) اگر از روی دین و همیّت کوششی پیوسته آید برکات و ثواب های آن را نهایت صورت نبندد.

۴) برائت ساحت و فرط مناصحت و صدق اشارت و برکت دیدار من معلوم خواهد شد.

پاسخ کارشناس ایران استخدام : گزینه ۳

شکل صحیح املایی واژه همیت در گزینه سوم بصورت «حمیت» می باشد که به معنی مروت و جوانمردی و غیرت می باشد در گزینه سوم پادشاهان حازم به معنی پادشاهان خردمند و دور اندیش می باشد و صحیح می باشد.

۲- بیت زیر، با کدام بیت قرابت مفهومی دارد؟(Www.iranestekhdam.ir)

«دریاب کنون که نعمت هست به دست / کاین دولت و ملک می رود دست به دست»

۱) توانگرا چو دل و دست کامرانت هست / بخور، ببخش که دنیا و آخرت بردی

۲) توانگران که به جنب سرای درویشند / ضرورت است که گاهی از او بیندیشند

۳) هزاران توان یافت خنجر، به دانش / یکی علم نتوان گرفتن، به خنجر

۴) توانگر شد آن کس که خرسند گشت / ازو آز و تیمار در بند گشت

پاسخ کارشناس سایت ایران استخدام : گزینه ۱

معنی بیت صورت سؤال: این دم را غنیمت شمار. اکنون که نعمت حکومت به دست توست، به عدالت حکم کن که این دولت و سلطنت بر تو نیز وفا نخواهد کرد و پس از تو برای دیگری خواهد بود.

مفهوم ابیات دیگر:

گزینه ی ۲: هم بسیار نزدیک است؛ اما کلید در کنایه ی «اندیشیدن از درویشان» است. اندیشیدن از کسی: ترسیدن و متوهّم شدن از آن، مهم شمردن آن، محل نهادن بدان. گزینه ی ۲ به احتیاط و ترسیدن اشاره دارد.

گزینه ی ۳: به فایده و قدرت دانش اشاره دارد.

گزینه ی ۴: به رضایت و شاکر بودن اشاره دارد که انسان را از ناخشنودی و طمع بازمی دارد. (تیمار: درد و رنج)

۳- در همه ی عبارات زیر، غلط ویرایشی یافت می شود، به جز عبارت ... . (Www.iranestekhdam.ir)

۱) سارق را دستگیر کردند و به زندان بردند.

۲) کفشی که برادرم خریده بود را پدرم پسندید.

۳) بسته سفارشی پدرم را به وسیله پست، برایش فرستادم.

۴) گلستان و بوستان، توسط شیخ اجل، سعدی شیرازی، نوشته شد.

پاسخ کارشناس ایران استخدام : گزینه ۱

تصحیح گزینه های دیگر:

۲) پدرم کفشی را که برادرم خریده بود، پسندید.

(«پدر» فاعل است، پس به اول جمله منتقل شد. «کفشی» مفعول است و «را» که علامت مفعولی است، بعد از مفعول قرار گرفت. آوردن «را» بعد از فعل غلط است و باید بعد از مفعول بیاید.)

۳) بسته ی سفارشی پدرم را برایش فرستادم.

به کار بردن «به وسیله» یا «توسط» جایز نیست. به ویژه در جایی که فاعل مشخص است.

همچنین، پست: ۱. خود به معنی ارسال است و آوردن واژه های هم معنی کنار هم، حشو و اضافه ست. / ۲: واژه ای فرانسوی است و شکل فارسی آن (فرستاندن) بهتر است.

۴) شیخ اجل، سعدی شیرازی، گلستان و بوستان را نوشته است.

مانند گزینه ی ۳ ویرایش شده.

محتوای این فایل به شماره شابک ۸-۵۹۶-۴۴۸-۶۰۰-۹۷۸ در نزد وزارت فرهنگ و ارشاد جمهوری اسلامی ایران ثبت شده است، و هرگونه انتشار آن پیگرد قانونی در پی خواهد داشت.

سوالات عمومی آزمون های استخدامی به همراه پاسخنامه تستی سوالات

۱- با توجه به معنی، املای کدام واژه درست است؟ (Www.iranestekhdam.ir)

۱) مضیق: تنگنا ۲) نمت: روش

۳) قرایب: نوادر ۴) ثواب: درست و راست

۲- معنی درست کلمات «صبوح – برآهیختن- استیصال و اشباح» در کدام گزینه آمده است؟ (Www.iranestekhdam.ir)

۱) شوق بامدادی - فریاد کشیدن ناچاری و وحشت‌ها

۲) شوق و شادی - برکشیدن - ناگزیر و شومی‌ها

۳) شوق و نشاط - بالا بردن - درماندگی و سایه‌ها

۴) پیمانه‌ی عشق - بالا بردن - ریشه داشتن و تاریکی‌ها

پاسخنامه تستی سوالات

شماره سوال	گزینه صحیح
سوال ۱	۱
سوال ۲	۳

محتوای این فایل به شماره شابک ۸-۵۹۶- ۴۴۸-۶۰۰-۹۷۸ در نزد وزارت فرهنگ و ارشاد جمهوری اسلامی ایران ثبت شده است، و هرگونه انتشار آن پیگرد قانونی در پی خواهد داشت.

کاربران گرامی لطفا دقت فرمایید، این فایل تنها بخشی از محصول ویژه اصل دفترچه سوالات تخصصی هنرآموز کامپیوتر آزمون استخدامی آموزش و پرورش (سال های ۹۶، ۹۴ و ۸۹) به همراه سوالات ۷ درس عمومی آزمون های استخدامی می باشد که به صورت رایگان و برای آشنایی شما عزیزان از کیفیت و محتوای فایل معرفی شده ارائه شده است، لطفاً جهت خرید و دانلود کامل این محصول، روی لینک زیر کلیک فرمایید.

لینک دانلود و خرید بسته کامل

محتوای این فایل به شماره شابک ۸-۵۹۶- ۴۴۸-۶۰۰-۹۷۸ در نزد وزارت فرهنگ و ارشاد جمهوری اسلامی ایران ثبت شده است، و هرگونه انتشار آن پیگرد قانونی در پی خواهد داشت.

بخش پنجم:

معارف اسلامی

سوالات عمومی آزمون های استخدامی به همراه پاسخ تشریحی سوالات

۱- از آیهٔ شریفهٔ (ما کُنتَ تَتلُو مِن قَبلِهِ مِن کِتابٍ)، کدام مفهوم دریافت می شود؟ (Www.iranestekhdam.ir)

۱) تأثیرپذیری قرآن کریم از فرهنگ جاهلی در هر زمان

۲) جامعیت و همه‌جانبه بودن هدایت ویژه و پاسخ‌گویی آن

۳) آمادگی جامعه بشری برای دریافت برنامه کلی در عرصه زندگی

۴) عدم تعارض و ناسازگاری میان آیات قرآن کریم

پاسخ کارشناس ایران استخدام :گزینه ۲

با توجه به آیه زیر، خداوند معجزهٔ جاوید خود را توسط پیامبری به دست مردم رساند که نزد هیچکس درس نخوانده بود اگر این کتاب توسط یکی از درس خواندگان و دانشمندان جامعه آورده میشد، ممکن بود چه شک و شبهه‌ای ایجاد شود؟

« ما کُنتَ تَتلُو مِن قَبلِهِ مِن کِتابٍ.....»

و پیش از آن هیچ نوشته ای را نمیخواندی و با دست خود، آن را نمینوشتی که در آنصورت، کجروان به شک میافتادند. اگر این کتاب توسط یکی از درس خواندگان و دانشمندان جامعه آورده میشد، یعنی اگر پیامبر فردی باسواد بود این شائبه پیش میآمد که قرآن نوشته اوست و او فقط نویسنده و شاعری بزرگ است. به همین دلیل ایشان قبل از دریافت قرآن درس نخوانده بود و قرآن هم بارها از مشرکان و منکران قرآن دعوت میکند تا سورهای مانند سوره های قرآن بیاورند.

۲- آیات شریفهٔ (أم نَجعَلُ المُتَّقِینَ کَالفُجَّارِ) و (فَلاَ تُظلَمُ نَفسٌ شَیئاً)، به ترتیب، بیانگر کدام یک از اقسام عدل است؟ (Www.iranestekhdam.ir)

۱) تشریعی - جزایی

۲) جزایی - جزایی

۳) جزایی - تشریعی

۴) تشریعی – تشریعی

پاسخ کارشناس ایران استخدام :گزینه ۲

عدل جزایی : خدا در مقام پاداش و کیفر هر بنده ای متناسب با اعمالش مقرر می کند در برابر کار نیک پاداش می دهد و در برابر کار بد مجازات می کند و انسانی که هیچ تکلیفی ندارد مجازاتش نمی کند . بخشی از پاداش و کیفر در دنیا و برخی در آخرت اعمال می شود. با توجه به حقیقت مجازات اخروی و رابطه تکوینی آن با اعمال عدل جزایی به عدل تکوینی بر می گردد.

وَ نَضَعُ الْمَوَازِینَ الْقِسْطَ لِیَوْمِ الْقِیَمَةِ فَلَا تُظْلَمُ نَفْسٌ شَیْا (انبیاء / ۴۷)

ما ترازوهای عدل را در روز قیامت برپا می‌کنیم پس به هیچ کس کمترین ستمی نمی‌شود

أَمْ نَجْعَلُ الَّذِینَ ءَامَنُواْ وَ عَمِلُواْ الصَّالِحَاتِ کَالْمُفْسِدِینَ فِی الْأَرْضِ أَمْ نَجْعَلُ الْمُتَّقِینَ کَالْفُجَّارِ (ص / ۲۸)

آیا کسانی را که ایمان آورده و کارهای شایسته انجام داده‌اند همچون مفسدان در زمین قرار می‌دهیم، یا پرهیزگاران را همچون فاجران؟

۳- آیهٔ شریفهٔ (فِطرَةَ اللهِ الَّتی فَطَرَ النَّاسَ عَلَیها)، با کدام مورد مطابقت معنایی دارد و ناظر بر کدام یک از ابعاد روح انسان است؟ (Www.iranestekhdam.ir)

۱) خدایا، تو قلب را بر محبت خود آفریدی. - گرایشی

۲) من خدایی را که نمی بینم، عبادت نمی کنم. - گرایشی

۳) من خدایی را که نمی بینم، عبادت نمی کنم. - ادراکی

۴) خدایا، تو قلب را بر محبت خود آفریدی. – ادراکی

پاسخ کارشناس ایران استخدام :گزینه ۱

ابعاد روح و روان انسان :

انسان دارای دو بعد ادراکی وگرایشی است.

۱- بعد ادراکی:

بعد ادراکی انسان از دو بخش تشکیل می شود:

الف – ادراک نظری

ب – ادراک عملی

مراد از ادراک نظری ، شناخت مواردی است که به عقل نظری مربوط است مانند شناخت خدا،شناخت توحید ، شناخت خود و مراد از ادراک عملی چیزی است که مربوط به حوزه عمل است یعنی بایدها ونبایدها و خوبها وبد ها .مانند اینکه عدالت و صداقت خوب است وظلم ودروغ بد است .

۲-بعد گرایشی:

مراد از بعد گرایشی ، همان تمایلات درونی انسان است.

امیر مومنان حضرت علی (ع) می فرماید:

خداوندا! تو قلبها را بر محبت خود آفریده ای.

اگر محبت و میل به خدا، آمیخته با وجود آدمی است، دیگر انفکاک آن از وجود او مکان ندارد.

سوالات عمومی آزمون های استخدامی به همراه پاسخنامه تستی سوالات

۱- با توجه به اینکه خداوند یک برنامه را برای زندگی انسا نها برگزید، همه موارد به استثناء مطلب... علت آمدن پیامبران متعدد می باشد. (Www.iranestekhdam.ir)

۱) پایین بودن سطح درک انسا نهای اولیه

۲) گسترش برخی از احکام و دستورات فرعی دین

۳) استمرار در دعوت و ترویج پیوسته ی آن

۴) از بین رفتن تعلیمات پیامبر قبل یا تحریف کلی آن تعلیمات

۲- در آیه« وَ اعْلَمُوا أَنَّما أَمْوالُكُمْ وَ أَوْلادُكُمْ فِتْنَةٌ» منظور از « فتنه » چیست ؟ (Www.iranestekhdam.ir)

۱) وسیله گمراهی ۲) وسیله امتحان ۳) امانت الهی ۴) وسیله هدایت

پاسخنامه تستی سوالات

شماره سوال	گزینه صحیح
سوال ۱	۲
سوال ۲	۲

کاربران گرامی لطفا دقت فرمایید، این فایل تنها بخشی از محصول ویژه اصل دفترچه سوالات تخصصی هنرآموز کامپیوتر آزمون استخدامی آموزش و پرورش (سال های ۹۶، ۹۴ و ۸۹) به همراه سوالات ۷ درس عمومی آزمون های استخدامی می باشد که به صورت رایگان و برای آشنایی شما عزیزان از کیفیت و محتوای فایل معرفی شده ارائه شده است، لطفاً جهت خرید و دانلود کامل این محصول، روی لینک زیر کلیک فرمایید.

لینک دانلود و خرید بسته کامل

محتوای این فایل به شماره شابک ۸-۵۹۶- ۴۴۸-۶۰۰-۹۷۸ در نزد وزارت فرهنگ و ارشاد جمهوری اسلامی ایران ثبت شده است، و هرگونه انتشار آن پیگرد قانونی در پی خواهد داشت.

بخش ششم:

زبان انگلیسی – عمومی

سوالات عمومی آزمون های استخدامی به همراه پاسخ تشریحی سوالات

Part A. Grammar and vocabulary

Direction: choose the number of the answer choice (1), (2), (3) or (4) that best completes the blank. Then mark it on your answer sheet. (Www.iranestekhdam.ir)

1- Electrical engineers typically …… a degree in electrical engineering or electronic engineering. (Www.iranestekhdam.ir)

1) hold 2) plan 3) require 4) maintain

پاسخ کارشناس سایت ایران استخدام : گزینه ۳

معنی جمله: مهندسان برق معمولاً یک مدرک در زمینه مهندسی برق یا مهندسی الکترونیک .....

کلمه require در این جا با معنی نیاز داشتن , بهترین مکمل برای جمله خواهد بود.پس جمله کامل به صورت زیر خواهد بود:

مهندسان برق معمولاً یک مدرک در زمینه مهندسی برق یا مهندسی الکترونیک نیاز دارند.

2- We will have to cancel the show …… we sell more tickets at the last minute. (Www.iranestekhdam.ir)

1) so that 2) whether 3) unless 4) since

پاسخ کارشناس ایران استخدام :گزینه ۳

معنی جمله: ما مجبور خواهیم شد که نمایش رو کنسل کنیم "مگر اینکه" در دقیقه آخر بلیط های بیشتری بفروشیم

جمله شرطی از نوع دوم می باشد که در ساختار منفی آن به کار رفته است.

در حقیقت جمله به شکل زیر بوده است:

We will have to cancel the show if We don't sell more tickets at the last minute.

Part B. Reading Comprehension

Directions: Read the following passage and choose the number of the answer choice (1), (2), (3), or (4) that best answer question. Then mark it on your answer sheet. (Www.iranestekhdam.ir)

Amal works 45 hours a week. It takes him an hour to travel to work every day. That means he spends 10 hours commuting each week. At home, Amal spends about 23 hours a week doing work around the house. Of course, he needs to sleep (56 hours a week) and prepare and Ent meals (14 hours a week). So, Amal has 20 hours of leisure. That is atypical amount of leisure time for someone in the United States.

What do people do in their leisure time? Obviously, watching television is a popular free-time activity in many countries. Studies show that people are watching more TV today than they did twenty years ago. That is probably because there are many more TV channels today. People can choose programs from hundreds of TV channels.

Computers are also changing the way people use their leisure time. Today people are spending more time doing things on their computers, Surfing the Internet is becoming another popular free-time activity. In fact, some employers are finding that workers are skipping lunch to surf the Internet.

More and more, people are mixing their work time and play time. They talk on the telephone while they are commuting to work. They read work papers while they are eating. They listen to music while they are studying. Maybe this is why people believe that they have less free time today. (Www.iranestekhdam.ir)

ترجمه کامل متن توسط کارشناس سایت ایران استخدام:

Amal ۴۵ ساعت در هفته کار می‌کند. هر روز نیم ساعت طول می‌کشد تا به سر کار خود برسد. این امر به این معناست که او هر هفته ۱۰ ساعت مشغول رفت وآمد می‌باشد. در خانه، Amal تقریبا ۲۳ ساعت در هفته را به کار درخانه اختصاص می‌دهد. البته، او نیاز به خواب (۵۶ ساعت در هفته) و آماده‌کردن و خوردن غذا (۱۴ ساعت در هفته) نیز دارد. بنابراینAmal ۲۰ ساعت اوقات فراغت دارد. این میزان یک مقدار معمول از اوقات فراغت برای شخصی در ایالات متحده می‌باشد.

مردم چه کارهایی را در اوقات فراغت خود انجام می‌دهند؟ واضح است که در بسیاری از کشورها مشاهده تلویزیون یک فعالیت زمان آزاد بسیار محبوب می‌باشد. مطالعات نشان می‌دهد که مردم نسبت به بیست سال قبل بیشتر تلویزیون نگاه می‌کنند. این امر احتمالا به این خاطر است که امروزه کانال‌های تلویزیون بسیار بیشتری وجوددارد و مردم می‌توانند برنامه‌ها را از صدها کانال تلویزیون انتخاب کنند.

کامیوترها نیز روش استفاده مردم از اوقات فراغت را تغییر داده‌اند. امروزه مردم برای انجام کارها زمان‌های بیشتری را در کامپیوترهای خود صرف می‌کنند؛ وب‌گردی در اینترنت نیز فعالیت زمان آزاد بسیار محبوب دیگری است. در حقیقت، برخی کارفرمایان دریافته‌اند که کارگرها نهار خود را به منظور وب‌گردی در اینترنت از قلم می‌اندازند.

مردم هر روز، بیشتر و بیشتر، زمان کار و زمان تفریح خود را با هم ترکیب می‌کنند. آن‌ها در حالی‌که سر کار هستند، با تلفن خود صحبت می‌کنند. روزنامه‌ها را هنگام غذاخوردن می‌خوانند. وهنگام مطالعه کردن نیز به موسیقی گوش می‌دهند. شاید به همین دلیل است که مردم باور دارند که امروزه زمان آزاد کمتری دارند.

3- The word "leisure" in paragraph 1 is closest in meaning to ..... (Www.iranestekhdam.ir)

1) exercise
2) fun time
3) free time
4) vacation

پاسخ کارشناس ایران استخدام : گزینه ۳

معنی جمله :

کلمه "leisure" در پاراگراف ۱ با کدام گزینه نزدیک‌ترین معنی را دارد؟

۱- تمرین‌کردن ۲- زمان سرگرمی ۳- زمان آزاد ۴- تعطیلات

leisure یعنی اوقات فراغت، یا زمان آزاد

سوالات عمومی آزمون های استخدامی به همراه پاسخنامه تستی سوالات

1-All office door ..... before you leave. (Www.iranestekhdam.ir)

1) must lock
2) must be locked
3) are being locked
4) will lock

2-The bank manager, ... we talked about, has been given a raise. (Www.iranestekhdam.ir)

1) which
2) who
3) whose
4) whom

پاسخنامه تستی سوالات

شماره سوال	گزینه صحیح
سوال ۱	۲
سوال ۲	۴

محتوای این فایل به شماره شابک ۸-۵۹۶-۴۴۸-۶۰۰-۹۷۸ در نزد وزارت فرهنگ و ارشاد جمهوری اسلامی ایران ثبت شده است، و هرگونه انتشار آن پیگرد قانونی در پی خواهد داشت.

کاربران گرامی لطفا دقت فرمایید، این فایل تنها بخشی از محصول ویژه اصل دفترچه سوالات تخصصی هنرآموز کامپیوتر آزمون استخدامی آموزش و پرورش (سال های ۹۶، ۹۴ و ۸۹) به همراه سوالات ۷ درس عمومی آزمون های استخدامی می باشد که به صورت رایگان و برای آشنایی شما عزیزان از کیفیت و محتوای فایل معرفی شده ارائه شده است، لطفاً جهت خرید و دانلود کامل این محصول، روی لینک زیر کلیک فرمایید.

لینک دانلود و خرید بسته کامل

محتوای این فایل به شماره شابک ۸-۵۹۶-۴۴۸-۶۰۰-۹۷۸ در نزد وزارت فرهنگ و ارشاد جمهوری اسلامی ایران ثبت شده است، و هرگونه انتشار آن پیگرد قانونی در پی خواهد داشت.

بخش هفتم:

اطلاعات عمومی ، دانش اجتماعی و قانون اساسی

سوالات عمومی آزمون های استخدامی به همراه پاسخ تشریحی سوالات

۱- به موجب قانون اساسی، مقام معظم رهبری از طریق کدام نهاد زیر، مبادرت به حل معضلات نظام که از طرق عادی قابل حل نیستند، می نمایند ؟ (Www.iranestekhdam.ir)

۱) هیئت عالی حل اختلاق قوا ۲) مجمع تشخیص مصلحت نظام

۳) شورای نگهبان ۴) مجلس خبرگان

پاسخ کارشناس سایت ایران استخدام : گزینه ۲

بر طبق اصل ۱۱۰ قانون اساسی کشور، یکی از وظایف و اختیارات رهبر حل معضلات نظام که از طرق عادی قابل حل نیست، از طریق مجمع تشخیص مصلحت نظام می باشد.

۲- تالاب لیپار، از جاذبه های طبیعی کدام یک از شهرستان های جنوبی ایران است؟ (Www.iranestekhdam.ir)

۱) بستک ۲) جم ۳) چابهار ۴) هویزه

پاسخ کارشناس ایران استخدام : گزینه ۳

تالاب لیپار یکی از جاذبه‌های خاص طبیعت ایران است که به دلیل رنگ خاصی که دارد از سایر دریاچه‌ها و تالاب‌ها متمایز شده است. این تالاب صورتی در تنگه و دره‌ای صخره‌ای مشرف به کوه، در مسیر جاده ساحلی چابهار به گواتر در ساحل دریای عمان (۱۵ کیلومتری شرق چابهار در نزدیکی روستای رمین و در مسیر جاده ساحلی چابهار- گواتر) قرار دارد.

۳- مسئولیت اطلاعات عملیات سپاه دزفول و سوسنگرد، مسئولیت اطلاعات عملیات قرارگاه نصر در عملیات بیت‌المقدس و فرماندهی تیپ علی بن ابی طالب (ع) در عملیات رمضان، به عهده کدام شهید دفاع مقدس بوده است؟

(Www.iranestekhdam.ir)

۱) محمود شهبازی ۲) علی صیاد شیرازی ۳) مهدی زین‌الدین ۴) حسن باقری

پاسخ کارشناس ایران استخدام :گزینه ۳

شهید مهدی زین الدین مسئول اطلاعات عملیات سپاه دزفول و سوسنگرد بود. شهید زین‌الدین در عملیات بیت‌المقدس مسئولیت اطلاعات عملیات قرارگاه نصر و فرماندهی تیپ علی بن ابی طالب (ع) در عملیات رمضان را برعهده داشت.

سوالات عمومی آزمون های استخدامی به همراه پاسخنامه تستی سوالات

۱- در جمهوری اسلامی ایران، امضای قراردادهای بین‌المللی (پس از تصویب مجلس شورای اسلامی) با کدام مرجع است؟

(Www.iranestekhdam.ir)

۱) رئیس مجلس شورای اسلامی ۲) رئیس مجمع تشخیص مصلحت نظام

۳) رئیس‌جمهور یا نماینده قانونی او ۴) مقام رهبری

۲- ریاست شورای بازنگری قانون اساسی بر عهده ..... است. (Www.iranestekhdam.ir)

۱) رئیس‌جمهور ۲) مقام رهبری

۳) رئیس مجلس شرای نگهبان ۴) شورای نگهبان

پاسخنامه تستی سوالات

شماره سوال	گزینه صحیح
سوال ۱	۳
سوال ۲	۱

محتوای این فایل به شماره شابک ۸-۵۹۶- ۴۴۸-۶۰۰-۹۷۸ در نزد وزارت فرهنگ و ارشاد جمهوری اسلامی ایران ثبت شده است، و هرگونه انتشار آن پیگرد قانونی در پی خواهد داشت.

کاربران گرامی لطفا دقت فرمایید، این فایل تنها بخشی از محصول ویژه اصل دفترچه سوالات تخصصی هنرآموز کامپیوتر آزمون استخدامی آموزش و پرورش (سال های ۹۶، ۹۴ و ۸۹) به همراه سوالات ۷ درس عمومی آزمون های استخدامی می باشد که به صورت رایگان و برای آشنایی شما عزیزان از کیفیت و محتوای فایل معرفی شده ارائه شده است، لطفاً جهت خرید و دانلود کامل این محصول، روی لینک زیر کلیک فرمایید.

لینک دانلود و خرید بسته کامل

محتوای این فایل به شماره شابک ۸-۵۹۶- ۴۴۸-۶۰۰-۹۷۸ در نزد وزارت فرهنگ و ارشاد جمهوری اسلامی ایران ثبت شده است، و هرگونه انتشار آن پیگرد قانونی در پی خواهد داشت.

بخش هشتم:

هوش و استعداد تحصیلی و شغلی

سوالات عمومی آزمون های استخدامی به همراه پاسخ تشریحی سوالات

راهنمایی : متن زیر را به دقت بخوانید و صحیح ترین پاسخ را برای سوال ۱ انتخاب کنید و در پاسخنامه علامت بزنید.
(Www.iranestekhdam.ir)

ترانسفورماتورهای قدرت، نقشی اساسی در سیستم های الکتریکی دارند، به نحوی که عملکرد صحیح آنها بر قابلیت اطمینان و امنیت سیستم قدرت اثر مستقیم دارد از این رو ، بررسی عملکرد ترانسفورماتورهای قدرت برای شناسایی خطای سیم پیچی در مراحل آغازین اهمیت می یابد.(۱) خطاهای سیم پیچی ماهیتی تشدید شونده دارد و معمولا در اثر ضعف عایقی ایجاد می شود. با بروز نخستین نقاط اتصال کوتاه سیم بندی، حرارت موضعی شدیدی در محل اتصال کوتاه ایجاد می شود . گرمای ناشی از این حرارت، موجب تضعیف عایق سیم بندی و گسترش خطا می گردد .(۲) به دلیل اینکه تاثیر این نوع خطاها در مراحل آغازین در جریان های خط اولیه و ثانویه ترانسفورماتور بسیار کم است ، امکان استفاده از فیوز و یا رله دیفرانسیل برای شناسایی این خطاها وجود ندارد .(۳)

روش های مبتنی بر تجزیه و تحلیل گازهای نامحلول، به منظور تعیین عملکرد ترانسفورماتور، به طور گسترده مورد استفاده قرار می گیرند. نسبت گازهای ناشی از تجزیه عایق و روغن ایجاد شده در دماهای مختلف می تواند برای شناسایی خطای ترانسفورماتور مورد استفاده قرار گیرد .(۴) روش نسبت راجرز و دمبرگ برای ایجاد نسبت گازها مورد استفاده قرار می گیرند. با آموزش شناساگرهای هوشمند و با استفاده از این نسبت ها می توان بسیاری از خطاها را رصد کرد. ایراد اصلی روش های مبتنی بر تجزیه و تحلیل گازهای نامحلول، آفلاین بودن و هزینه بالای این روش هاست چرا که پس از گسترش خطاهای سیم پیچی اولیه و عملکرد وسایل حفاظتی چنین روش هایی کارایی نخواهند داشت.
(Www.iranestekhdam.ir)

۱- جمله زیر ، در کدام یک از بخش های متن که با شماره های (۱) و (۲) و (۳) و (۴) مشخص شده اند قرار می گیرد؟
(Www.iranestekhdam.ir)

«بنابراین اگر خطاهای سیم پیچی در مراحل اولیه تشخیص داده شوند، امکان برنامه ریزی برای جایگزینی و یا تعمیرات ترانسفورماتور فراهم می شود »

۱) (۱)

۲) (۲)

۳) (۳)

۴) (۴)

پاسخ کارشناس سایت ایران استخدام : **گزینه ۲**

در قسمت دوم متن،اشاره شده که با بروز نخستین نقاط اتصال کوتاه سیم بندی، حرارت موضعی شدیدی در محل اتصال کوتاه ایجاد می شود. گرمای ناشی از این حرارت، موجب تضعیف عایق سیم بندی و گسترش خطا می گردد.پس اگر درادامه اشاره شود که با تشخیص خطاهای سیم پیچی در مراحل اولیه؛ مکان جلویگری از گسترش خطاها و برنامه ریزی برای جایگزینی و یا تعمیرات ترانسفورماتور فراهم میشود.

محتوای این فایل به شماره شابک ۸-۵۹۶- ۴۴۸-۶۰۰-۹۷۸ در نزد وزارت فرهنگ و ارشاد جمهوری اسلامی ایران ثبت شده است، و هرگونه انتشار آن پیگرد قانونی در پی خواهد داشت.

راهنمایی : برای پاسخگویی به سوال ۲ ، لازم است موقعیتی را که در سوال مطرح شده، مورد تجزیه و تحلیل قرار دهید و سپس گزینه ای را که فکر می کنید پاسخ مناسب تری برای سوال است، انتخاب کنید. سوال را با دقت بخوانید و با توجه به واقعیت های مطرح شده در سوال و نتایجی که بیان شده و بیان نشده ولی قابل استنتاج است، پاسخی را که صحیح تر به نظر می رسد، انتخاب کرده و در پاسخنامه علامت بزنید.

۲- در مورد انبوه داستان ها و افسانه های رمزآلود مرتبط با مارها، نیاز به توضیح نیست. اما به نظر می رسد که این بار، مارهای روی زمین به طور اسرارآمیزی در حالِ محو شدن هستند و آمارها نشان می دهد که تعدادشان رو به کاهش گذاشته است. کاهش تعداد مارها، اکوسیستم طبیعی را به شدت تغییر می دهد، زیرا مارها، بزرگ‌ترین شکارچی موش ها محسوب می شوند و به همین دلیل، مهم‌ترین عامل کنترل جمعیت این موجودات، بر روی زمین به شمار می آیند.

کدام مورد، در صورتی که صحیح فرض شود، با استدلال متن، بیشترین همخوانی را دارد؟ (Www.iranestekhdam.ir)

۱) برخی بوم شناسان بر این باورند که مارها، تنها یکی از دشمنان طبیعی موش ها هستند.

۲) در هر منطقه‌ای که قانون منع شکار مار تصویب و اجرا می شود، تعداد موش ها ثابت و در بعضی موارد، کاهش می یابد.

۳) گاهی حفظ تعادل طبیعی اکوسیستم، مستلزم آن است که مصنوعاً، تعادل موجود میان عوامل مختلف موجود در آن به هم زده شود.

۴) تعداد مارها باید کنترل شود، چون افزایش تعداد مارها، باعث کاهش تعداد موش ها و این امر، خود باعث کاهش تعداد مارها و در نهایت انقراض هر دو گونه خواهد شد.

پاسخ کارشناس سایت ایران استخدام : گزینه ۲

با توجه به اینکه در گزینه دوم ذکر شده است که با اجرای قانون منع شکار مارها در منطقه ای، تعداد موش ها کاهش یافته و یا در صورت عدم کاهش سبب جلوگیری از افزایش تعداد موش ها شده است، لذا می توان به این نتیجه دست یافت که مهمترین عامل کنترل جمعیت موشها، بزرگترین شکارچی آنها که همان مارها هستند، می باشد.

راهنمایی: سؤال ۳ را به دقت بخوانید و جواب سؤال را در پاسخنامه علامت بزنید. (Www.iranestekhdam.ir)

۳- در هر کدام از اشکال زیر، بینِ اعداد هر شکل، ارتباط خاص و یکسانی وجود دارد. به جای علامت سؤال، کدام عدد باید قرار بگیرد؟ (Www.iranestekhdam.ir)

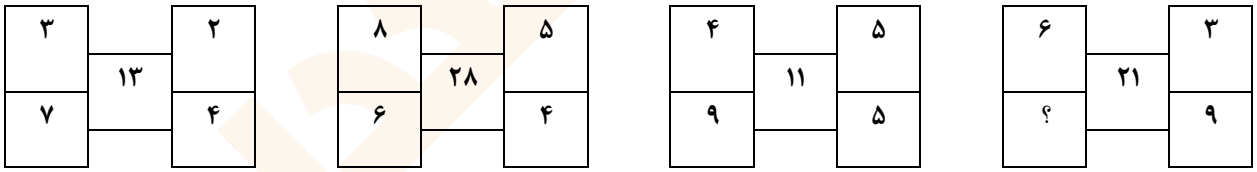

۱) ۵ ۲) ۶ ۳) ۷ ۴) ۸

پاسخ کارشناس سایت ایران استخدام : گزینه ۴

در تمام حالات فوق؛ عدد وسط از حاصلضرب دو عدد سمت چپ منهای حاصلضرب دو عدد سمت راست حاصل می شود.

برای مثال در حالتهای اول و دوم و سوم از سمت چپ داریم:

$$(3 \times 7) - (2 \times 4) = 13$$

$$(8 \times 6) - (5 \times 4) = 28$$

$$(4 \times 9) - (5 \times 5) = 11$$

در نهایت برای شکل مورد سوال خواهیم داشت:

$$(6 \times ?) - (3 \times 9) = 21 \rightarrow ? = 8$$

سوالات عمومی آزمون های استخدامی به همراه پاسخنامه تستی سوالات

۱- یک کارخانه ۴۲۰ نفر کارگر و کارمند دارد که $\frac{5}{7}$ آنها مرد هستند. $\frac{1}{4}$ از زنها کارمندان دفتر را تشکیل می‌دهند. چند نفر کارگر در این کارخانه کار می کنند؟ (Www.iranestekhdam.ir)

الف) ۳۴۵ ب) ۳۰۰ ج) ۳۹۰ د) ۳۱۵

۲- در مدت ۲ ساعت و داوزده دقیقه، عقربه ساعت شمار چند درجه تغییر مکان نشان می دهد؟

(Www.iranestekhdam.ir)

الف) 66° ب) 72° ج) 732° د) هیچ کدام

پاسخنامه تستی سوالات

شماره سوال	گزینه صحیح
سوال ۱	ج
سوال ۲	الف

محتوای این فایل به شماره شابک ۸-۵۹۶-۴۴۸-۶۰۰-۹۷۸ در نزد وزارت فرهنگ و ارشاد جمهوری اسلامی ایران ثبت شده است، و هرگونه انتشار آن پیگرد قانونی در پی خواهد داشت.

کاربران گرامی لطفا دقت فرمایید، این فایل تنها بخشی از محصول ویژه اصل دفترچه سوالات تخصصی هنرآموز کامپیوتر آزمون استخدامی آموزش و پرورش (سال های ۹۶، ۹۴ و ۸۹) به همراه سوالات ۷ درس عمومی آزمون های استخدامی می باشد که به صورت رایگان و برای آشنایی شما عزیزان از کیفیت و محتوای فایل معرفی شده ارائه شده است، لطفاً جهت خرید و دانلود کامل این محصول، روی لینک زیر کلیک فرمایید.

لینک دانلود و خرید بسته کامل

محتوای این فایل به شماره شابک ۸-۵۹۶- ۴۴۸-۶۰۰-۹۷۸ در نزد وزارت فرهنگ و ارشاد جمهوری اسلامی ایران ثبت شده است، و هرگونه انتشار آن پیگرد قانونی در پی خواهد داشت.